RESOLUCIÓN DE PROBLEMAS 1

1. Belén tiene 50 cromos y su amiga Gloria tiene 30. ¿Cuántos cromos tienen entre las dos?



2. Entre dos amigos tienen 700 canicas. Si uno tiene 200, ¿cuántas canicas tiene el otro?



3. Pedro tiene 20 rotuladores, Juan tiene 10 y Eva tiene 30. ¿Cuántos rotuladores tienen entre los tres?



4. En un árbol hay 28 ardillas y en otro diez menos. ¿Cuántas ardillas hay en el segundo árbol?



LIVEWORKSHEETS

5. En un corral hay 34 gallinas y en otro 11 menos. ¿Cuántas gallinas hay entre los dos corrales?



6. Marta tiene 85 céntimos y compra una bolsa de pipas de 35 céntimos. ¿Cuánto dinero le queda?



7. Laura colecciona sellos. En un álbum tiene 412 sellos y en otro 536. ¿Cuántos sellos tiene en total?



8. Nacho tenía 365 canicas. Si después de jugar le quedan 240 canicas. ¿Cuántas canicas ha perdido?



LIVEWORKSHEETS