POLÍGONOS

UNA FIGURA PLANA FORMADA POR UNA LÍNEA RECTA CERRADA Y SU INTERIOR.

SELECCIONA LOS QUE SEAN POLÍGONOS:



¿CÓMO SE LLAMA CADA FIGURA SEGÚN SU N° DE LADOS?

N° LADOS:

N° LADOS:

N° LADOS:

N° LADOS:

N° LADOS:

N° LADOS:

N° LADOS:

N° LADOS:

N° LADOS:



GEOMETRÍA

TIPOS DE POLÍGONO

	SEGÚN N° LADOS	SEGÚN ÁNGULOS	SEGÚN LADOS Y ÁNGULOS