LKPD

Sistem Pencernaan Manusia

NAMA _____ NO/KELAS _____

MENGANALISIS STRUKTUR ORGAN SISTEM PENCERNAAN MANUSIA

Tempelkan nama organ dibawah yang sesuai dengan organ sistem pencermam!

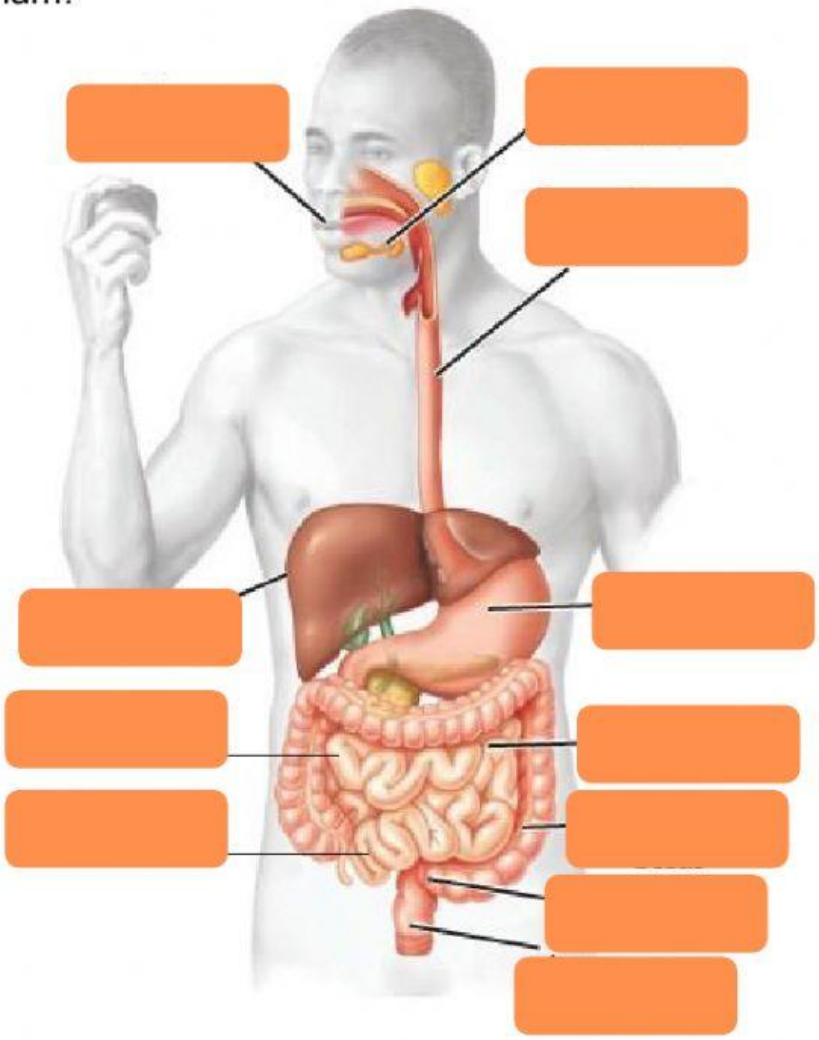

ANUS	USUS BESAR	USUS HALUS	MULUT
LAMBUNG	ESOFAGUS	KELENJAR AIR LUDAH	REKTUM
PANKREAS	EMPEDU	HATI	

LIVEWORKSHEETS

MENGANALISIS FUNGSI ENZIM DALAM ORGAN SISTEMPENCERNAAN MANUSIA

Tarik garis fungsi enzim dengan enzim yang sesuai dengan tepat!

MEMECAH AMILUM MENJADI MALTOSA	ENZIM PTIALIN/AMILASE
MEMBUNUH ORGANISME DAN MENGUBAH PEPSINOGEN MENJADI PEPSIN	ENZIM LIPASE
MENCERNA PROTEIN MENJADI PEPTON	ENZIM RENIN
MENGGUMPALKAN PROTEIN SUSU (KASEIN) DARI SUSU	ENZIM TRIPSIN
MENCERNA LEMAK MENJADI ASAM LEMAK DAN GLISEROL	ENZIM PEPSIN
MENCERNA PROTEIN MENJADI POLIPEPTIDA	ASAM KLORIDA

LIVEWORKSHEETS

MENGANALISIS FUNGSI DARI ORGAN TAMBAHAN PADA SISTEM PENCERNAAN

Tempelkan fungsi dari bagian-bagian organ dibawah ini!

NAMA ORGAN	FUNGSI
HATI	
KANTUNG EMPEDU	
PANKREAS	

- MENGELUARKAN GETAH EMPEDU
- MENGHASILKAN GETAH PANKREAS
- PROSES DETOKSIFIKASI
- MENGHASILKAN HORMON INSULIN
- MENYIMPAN GETAH EMPEDU

LIVEWORKSHEETS

MENGANALISIS STRUKTUR ORGAN MULUT DALAM SISTEM PENCERNAAN MANUSIA

Tempelkan rasa yang dapat dirasakan oleh bagian lidah di bawah ini!

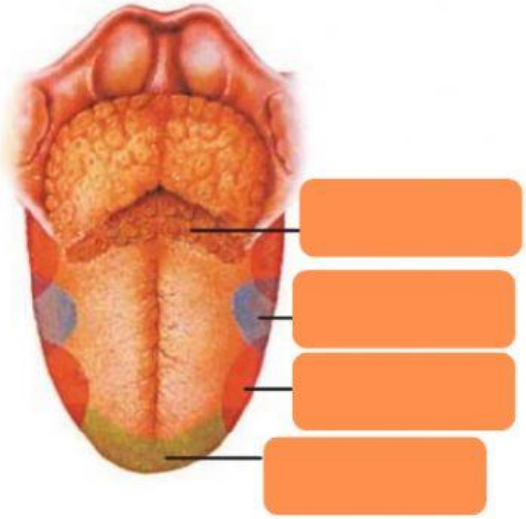

- PENGECAP RASA MANIS
- PENGECAP RASA PAHIT
- PENGECAP RASA ASIN
- PENGECAP RASA ASAM

Tarik garis untuk menghubungkan nama gigi dan fungsi gigi!

SERI	MENGUNYAH ATAU MENGGILIS MAKANAN
TARING	MEMOTONG MAKANAN
GERAHAM	MEROBEK MAKANAN

LIVEWORKSHEETS

MENGANALISIS STRUKTUR ORGAN BAGIAN USUS DALAM SISTEM PENCERNAAN MANUSIA

Tempelkan nama bagian-bagian organ pada usus halus dibawah ini!

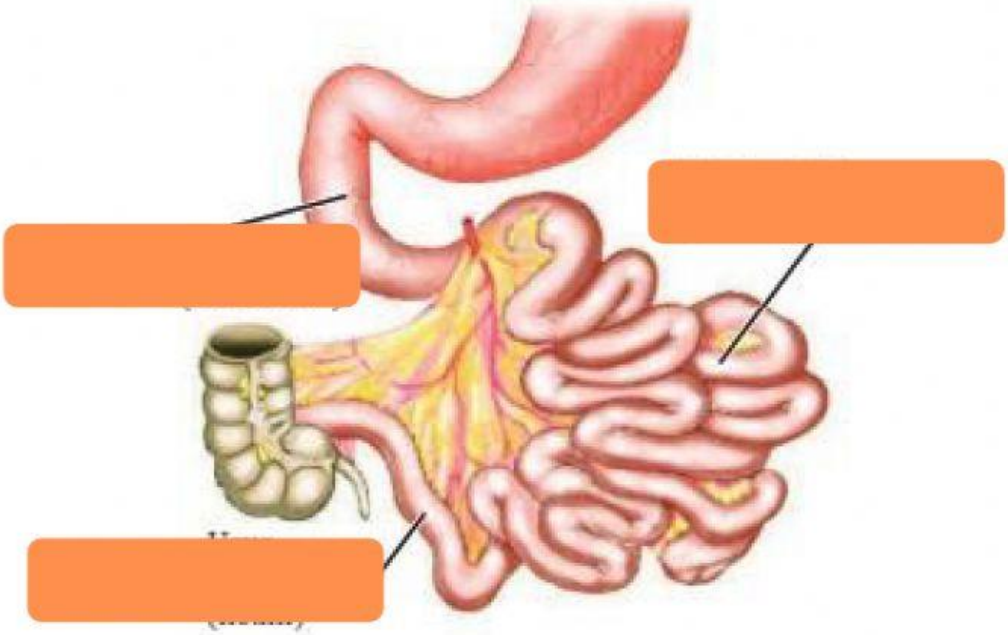

USUS TENGAH (JEJUNUM)	USUS 12 JARI (DUODENUM)	USUS PENYERAPAN

LIVEWORKSHEETS