FIŞĂ DE LUCRU – HARTA TOPOGRAFICĂ

I. Curbe de nivel

1.Caracteristica reliefului redată prin curbe de nivel apropiate

2. Caracteristica reliefului este redată prin curbe de nivel distanțate

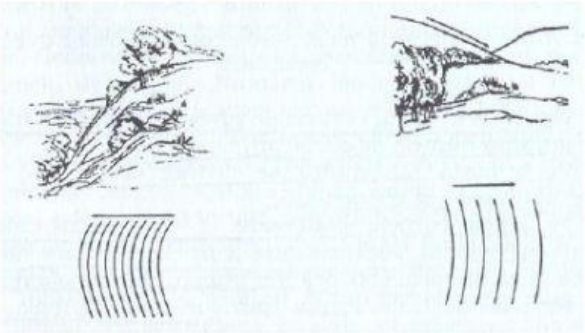

II. Redarea reliefului cu ajutorul curbelor de nivel

1. Caracteristica reliefului redată prin curbele de nivel care scad ca lungime în interior, conţinând eventual cu un punct în interiorul lor

2. Forma de relief indicată de 2 curbe de nivel care stau față în față

4. Două curbe de nivel care stau față în față au altitudini

5. Aspectul curbelor de nivel care redau văile este

6. Aspectul curbelor de nivel care redau interfluvii

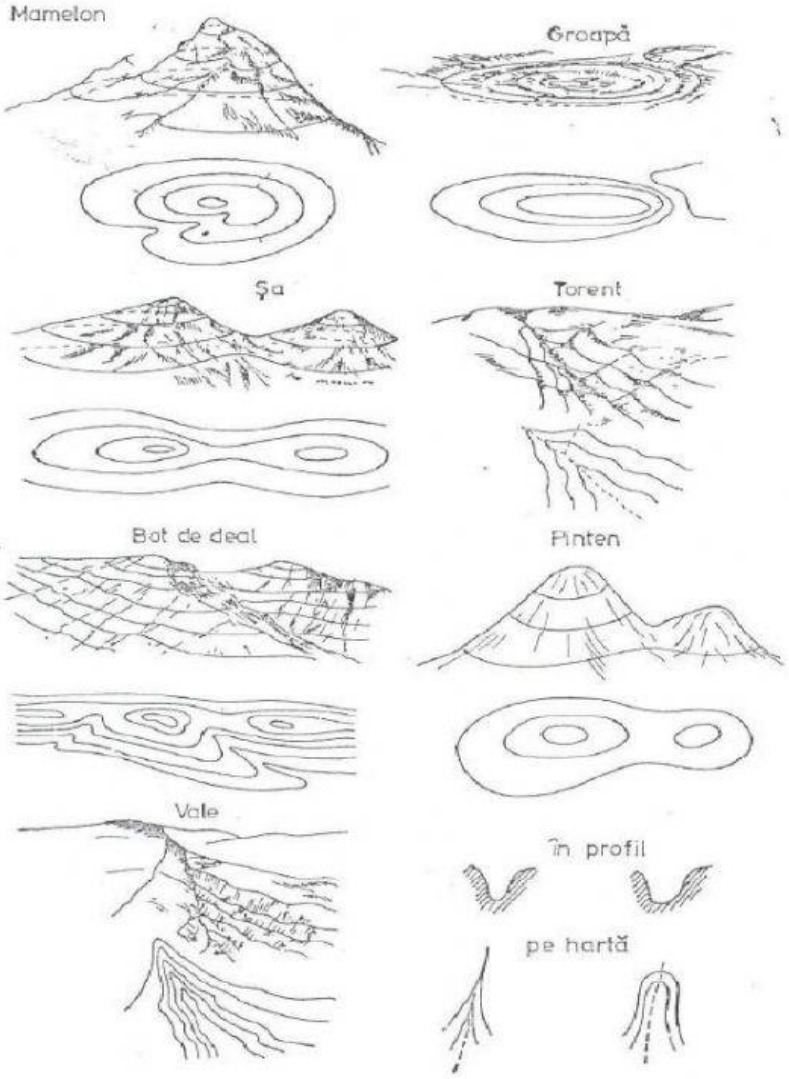

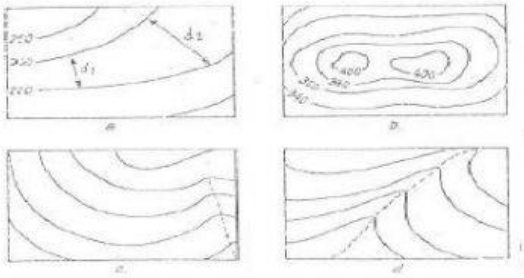

LIVEWORKSHEETS

III. Forme de relief principale

A

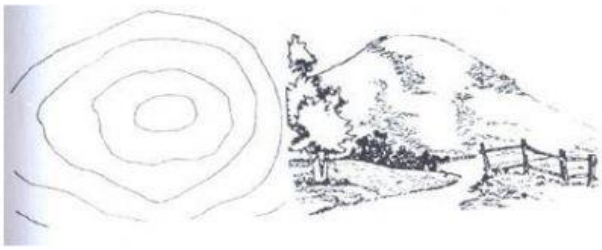

B



C



Versant concav

Versant convex

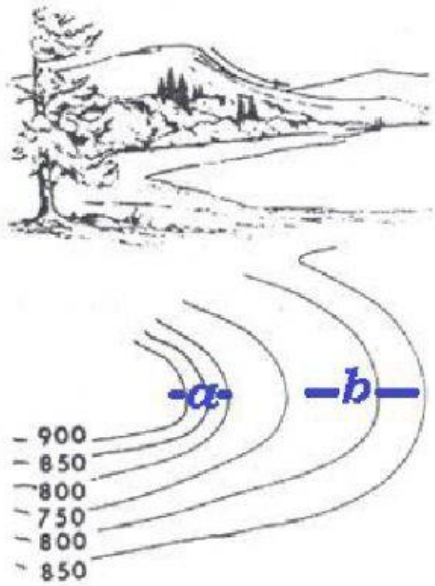

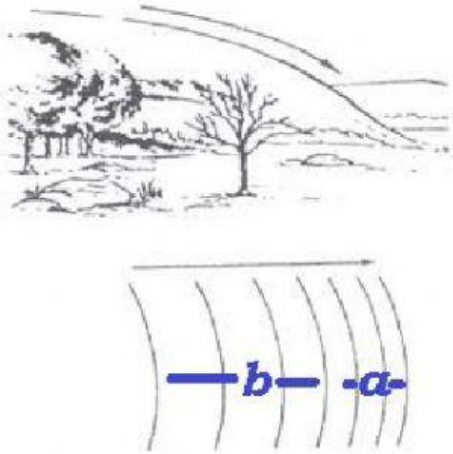

1. Pantele marcate cu litera **a** în desenul „Versant concav – Versant convex.
2. Pantele marcate cu litera **b** în desenul „Versant concav – Versant convex.

LIVEWORKSHEETS

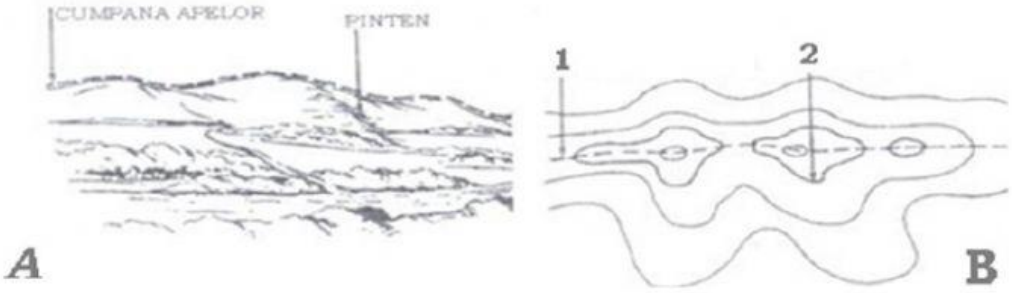

Pentru sectorul de hartă marcat cu litera B, precizați:

1. Realitatea geografică marcată cu cifra **1**
2. Forma de relief marcată cu cifra **2**

IV. Analizați harta topografică de mai jos și rezolvați următoarele cerințe:

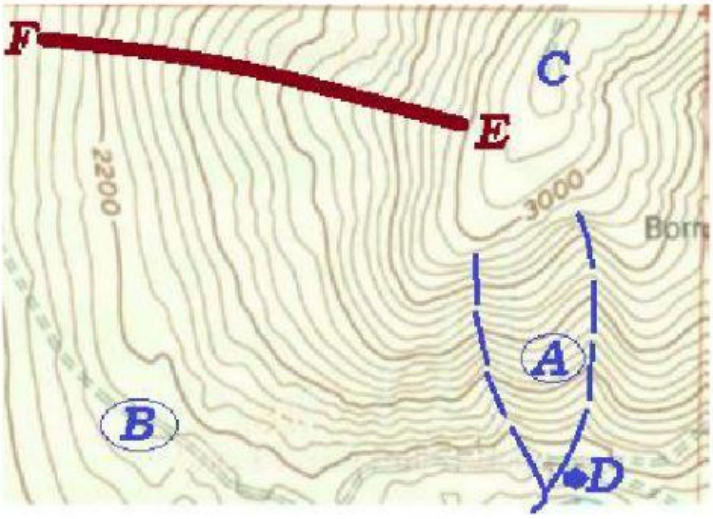

1. Echidistanța dintre curbele de nivel principale
2. Echidistanța dintre curbele de nivel normale
3. Caracterul pantelor în sectorul marcate cu **A** pe hartă
4. Caracterul pantelor în sectorul marcate cu **B** pe hartă
5. Altitudinea în punctul **C**
6. Forma de relief marcată de **C**
7. Forma de relief marcată de litera **D**
8. Forma de relief marcată pe aliniamentul **E** - **F**

LIVEWORKSHEETS

LIVEWORKSHEETS