## اسئلة تدريبية (B) على السؤال القصير (٢)

الاسـم | الصف

﴿ قَالَ رَبِّ اشْرَحْ لِي صَدْرِي ۝ وَيَسِّرْ لِي أَمْرِي ﴾ طه:٢٨

١) اختر المسمى الصحيح لكل تعريف مما يلي:

| م | التعريف | المسمى |
|---|---|---|
| أ | مضلع رباعي فيه ضلعان متقابلان متوازيان **فقط**. | |
| ب | مضلع رباعي فيه كل ضلعين متقابلين متوازيان وكل زواياه قائمة. | |
| ج | مضلع رباعي فيه كل ضلعين متقابلين متوازيان. | |

٢) اوجد مساحة المنطقة المظللة في الشكل المقابل.
(للعلم بأن مساحة كل مربع ١ سم$^{٢}$)

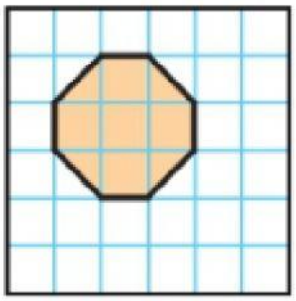

المساحة = _____ سم$^{٢}$

٣) أكتب اسم الشكل ثلاثي الأبعاد الذي تمثله الشبكة التالية

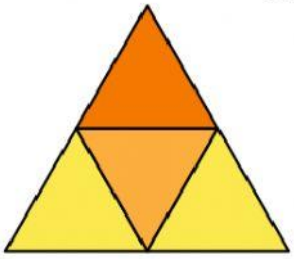

اسم المجسم هو _____

٤) في المثلث المقابل، أوجد قياس الزاوية (س)

وضح خطوات الحل

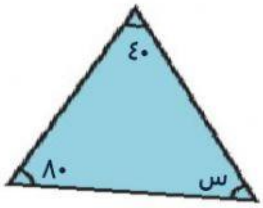


س = _____

كل الامنيات لكم بالتوفيق

إعداد: أ.خلفان البريكي

LIVEWORKSHEETS