COMPONENTS ELÈCTRICS

1. Observa els circuits. Després arrossega el nom dels components del circuit on corresponga.

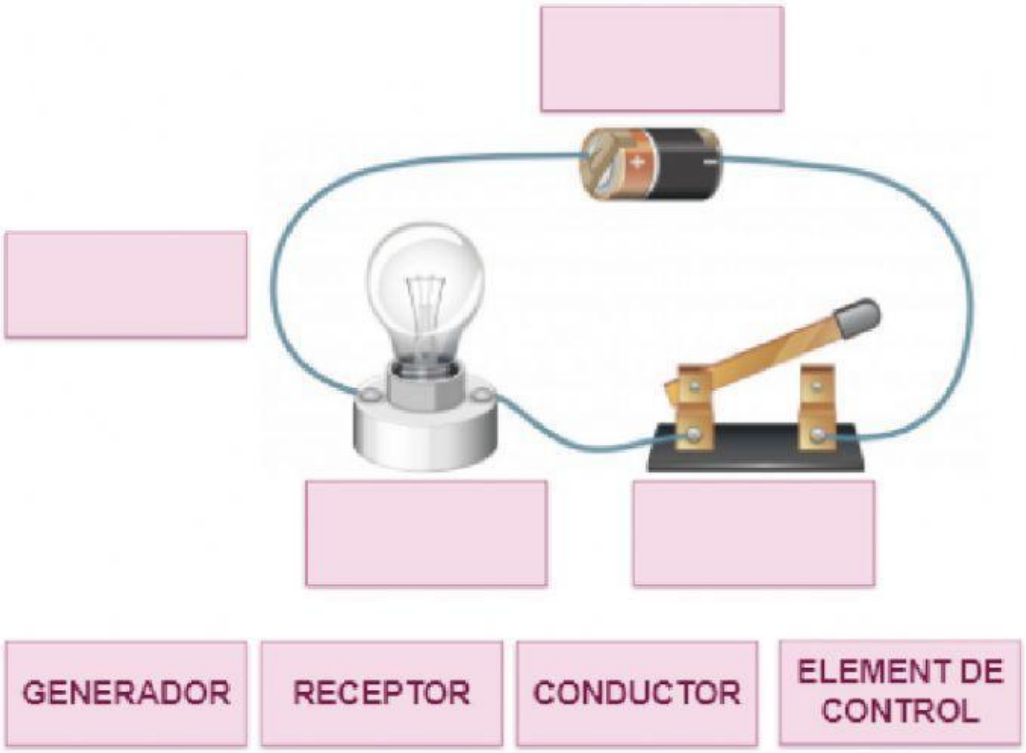

2. Uneix amb una linea, cada component del circuit amb la funció que realitza

Uneix els components del circuit i permet el fluix del corrent elèctric

Permet o bloqueja el pas del corrent elèctric

Transforma l'energia elèctrica en llum ("energia útil")

Proporciona l'energia necessaria (corrent) per a que funcione el circuit

LIVEWORKSHEETS

3. Selecciona la resposta correcta

3.1.Una dinàmo, quin tipus de component elèctric és?

Receptor	Element Protector	Generador	

3.2.Un timbre, quin tipus de component és?

Receptor	Element Protector	Generador	

3.3.Un altaveu, quin tipus de component és?

Receptor	Element Protector	Generador	

3.4.Un micròfon, quin tipus de component és?

Receptor	Element Protector	Generador	

3.5.Un fusible, quin tipus de component és?

Receptor	Element Protector	Generador	

LIVEWORKSHEETS

3.6.Perquè no s'encén la bombeta?

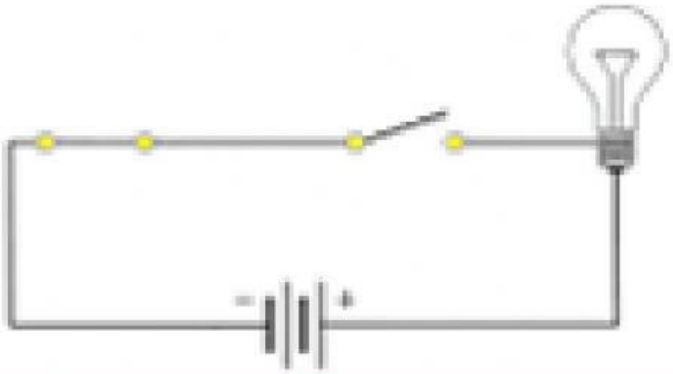

No hi ha generador	El circuit esta obert (interruptor obert)	La bomemeta està fosa

3.7.Quin component falta en el circuit?

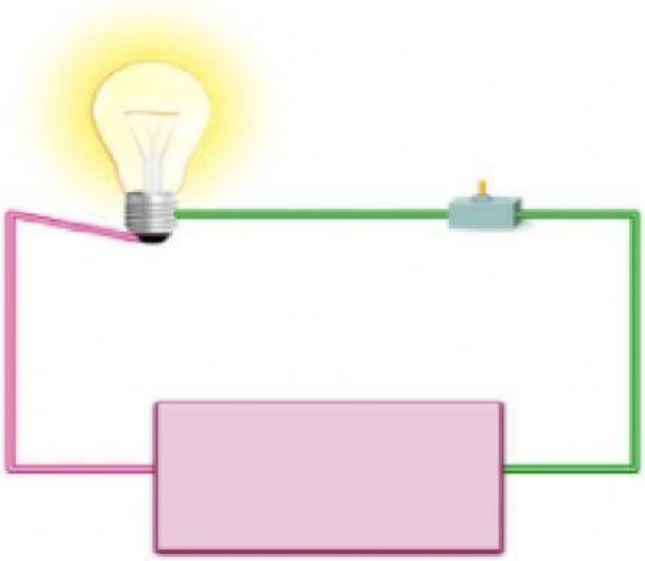

Receptor	Generador	Conductor

LIVEWORKSHEETS

3.8.Quin esquema correspon a la imatge?

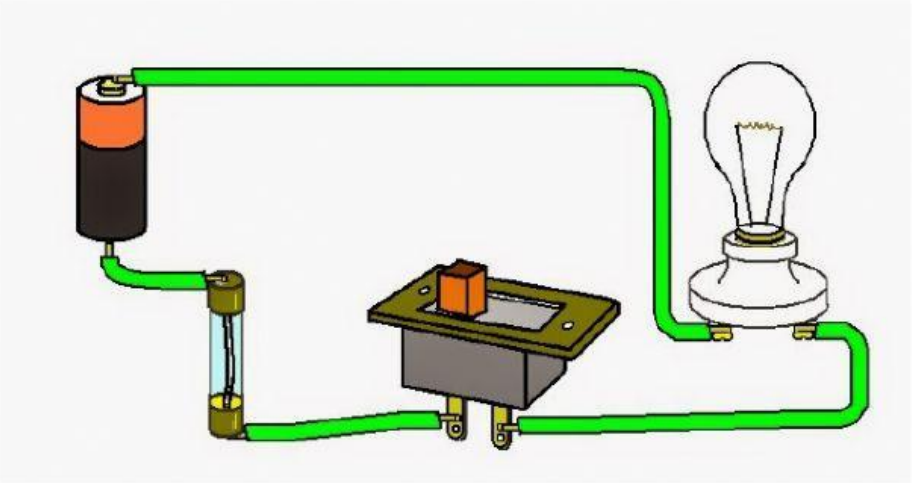

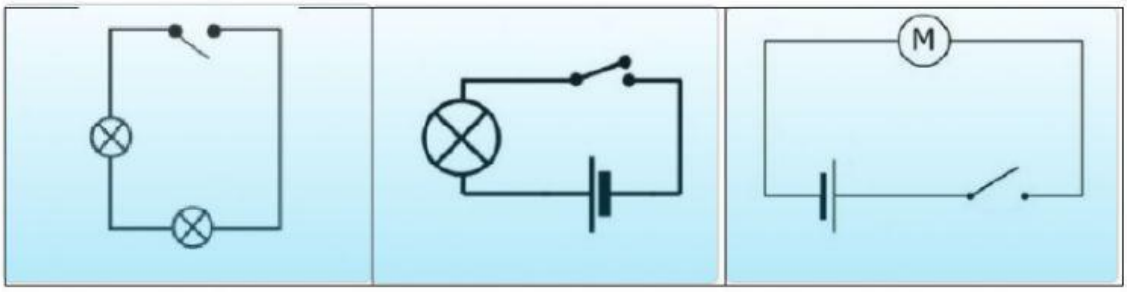

LIVEWORKSHEETS