HỌ TÊN:_____ LỚP: 3 _____

TOÁN –TUẦN 8

I/ TRẮC NGHIỆM

Khoanh vào chữ đặt trước câu trả lời đúng hoặc làm theo yêu cầu:

Câu 1: Khoanh tròn ý đúng:

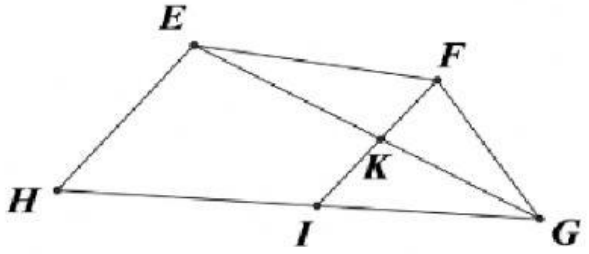

A. Điểm I nằm giữa hai điểm E và F

B. Điểm K nằm giữa hai điểm H và G

C. Điểm F nằm giữa hai điểm E và G

D. Điểm K nằm giữa hai điểm F và I

Câu 2. Biết M là trung điểm của đoạn thẳng AB theo hình vẽ dưới đây thì độ dài đoạn AM bằng:

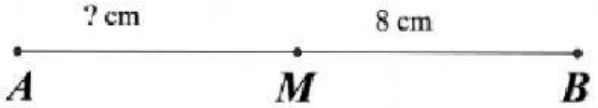

A. 7cm B. 8cm C. 9cm D. 10cm

Câu 3. Cho đoạn thẳng PQ = 80 cm, có M là trung điểm của đoạn PQ, N là trung điểm của đoạn thẳng MQ.

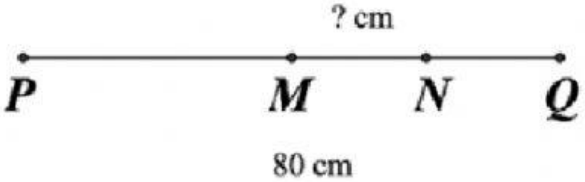

Độ dài đoạn thẳng MN là..... cm.

Câu 4. Bán kính của hình tròn bên là:

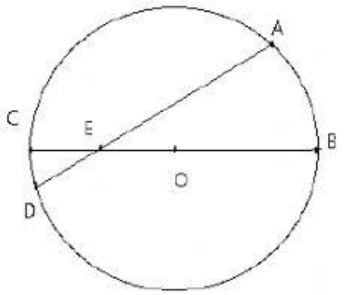

A. AD

B. OB

C. OE

D. BC

LIVEWORKSHEETS

II/ TỰ LUẬN

Bài 1.

Cho hình tròn tâm O có đường kính AB = 20cm. Một điểm M nằm trên hình tròn. Độ dài đoạn thẳng OM là: ……..

Bài 2. Kể tên các đường kính, bán kính có trong hình tròn dưới đây:

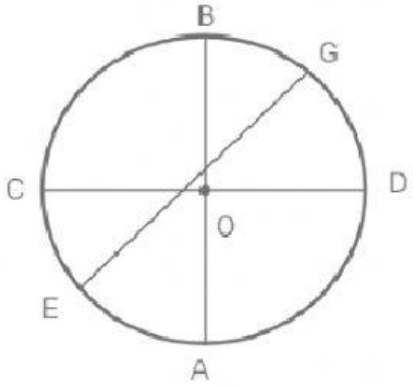

Các bán kính:

……

Các đường kính:

……

Bài 3: Quan sát hình tròn dưới đây và điền vào chỗ chấm:

a, Tâm của hình tròn đã cho là:……

b, Các bán kính của hình tròn đã cho là:……

c, Các đường kính của hình tròn đã cho là:……

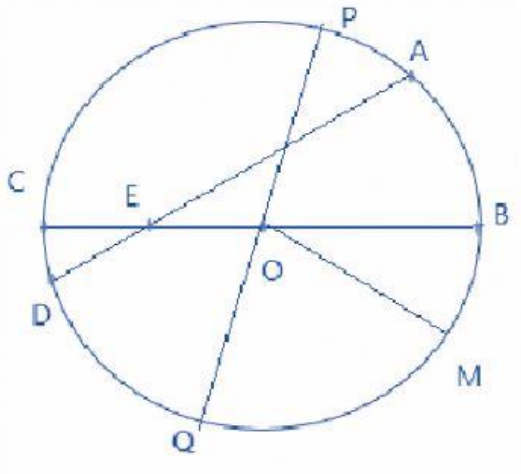

LIVEWORKSHEETS