MATEMATIKA Kelas VII SMPLB Gunarungu

LKPDBK

Konsep Bilangan bulat

Setelah mengerjakan LKPDBK ini, diharapkan peserta didik dapat melakukan

3.1.1 Memahami konsep bilangan bulat dengan menggunakan hal-hal yang konkret dan garis bilangan
3.1.2 Menjelaskan cara mengurutkan bilangan bulat dengan menggunakan garis bilangan
3.1.3 Mengurutkan bilangan bulat dengan menggunakan garis bilangan

4.1.1 Membuat letak suatu bilangan bulat positif atau negatif pada garis bilangan.
4.1.2 menyelesaikan soal cerita yang berhubungan dengan bilangan bulat dengan garis bilangan

NAMA :

KELAS :

SLB N BINTAN

LIVEWORKSHEETS

AYO MENGAMATI

PERHATIKAN MASALAH KONSTEKTUAL BERIKUT

Coba perhatikan gambar di bawah ini ! pada gambar dibawah ini adalah gambar suhu di cuaca dingin dan cuaca panas, mari kita belajar menuliskan suhu cuaca dingin dan cuaca panas dalam bentuk bilangan bulat !

LIVEWORKSHEETS

AKTIVITAS 1

-30

BAGAIMANA PENULISAN BILANGAN BULAT DARI ALAT UKUR TERSEBUT ?

39

BILANGAN BULAT

BAGAIMANA CARA MENULISKANNYA

-30

NEGATIF ....

39

TIGA .....

LIVEWORKSHEETS

AKTIVITAS 2

GARIS BILANGAN ADALAH SALAH SATU REPRESENTASI GARIS, DI MANA SETIAP TITIKNYA MEWAKILI BILANGAN TERTENTU.

MARI KITA MENULISKAN BILANGAN TERSEBUT PADA GARIS BILANGAN !

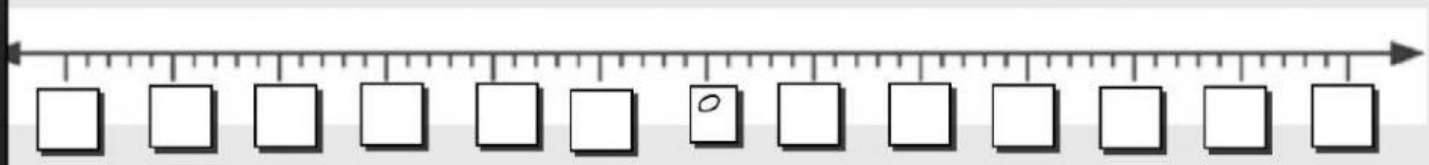

MARI KITA TULISKAN DALAM KALIMAT

(-7) = NEGATIF TUJUH

3 = ...

(-8) = ...

(-5) = ...

9 = ...

LIVEWORKSHEETS

MARI KITA MENGURUTKAN BILANGAN TERSEBUT PADA GARIS BILANGAN !

BILANGAN (−4) LEBIH KECIL

BILANGAN 2 LEBIH BESAR

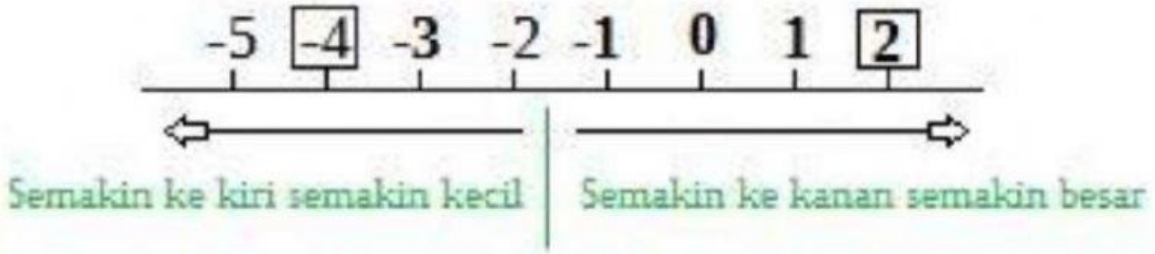

TENTUKAN POSISI BILANGAN TERSEBUT !

BILANGAN (−2) DAN BILANGAN 3

BILANGAN 3 LEBIH ....

BILANGAN (−2) LEBIH ....

LATIHAN

SELESAIKAN MASALAH BERIKUT

SELAMA BULAN JANUARI SUHU TERTINGGI DI KOTA BERLIN, JERMAN
2° C DI ATAS TITIK BEKU (0° C) DAN
SUHU TERENDAH 5° C DI BAWAH TITIK BEKU.
BILANGAN BULAT APAKAH YANG DIGUNAKAN UNTUK KONDISI CUACA SEPERTI DI KOTA

TULISLAH DALAM GARIS BILANGAN

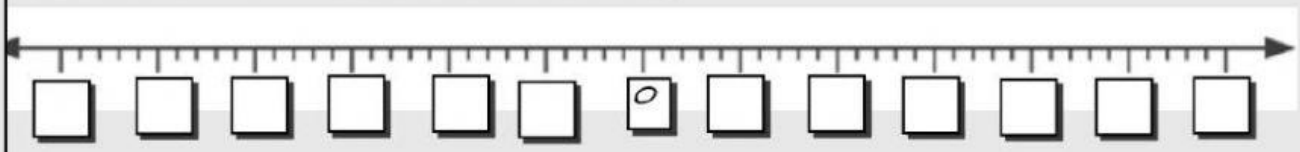

SUHU TERTINGGI DI ATAS TITIK O IALAH BILANGAN ...

SUHU TERRENDAH DI BAWAH TITIK O IALAH BILANGAN ...

LIVEWORKSHEETS