GASEN LEGEAK

JARDUERA: aukeratu grafiko bakoitzari dagokion formula, lege eta esaldia.

A

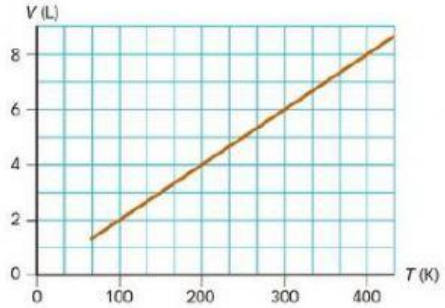

$$\frac{p_1}{T_1} = \frac{p_2}{T_2}$$

$$p_1 \cdot V_1 = p_2 \cdot V_2$$

$$\frac{V_1}{T_1} = \frac{V_2}{T_2}$$

Boyle-Mariotteren legea — V eta T zuzenki proportzionalak
Charlesen legea — p eta T zuzenki proportzionalak dira
GayLussacen legea — p eta V alderantziz proportzionalak dira

B

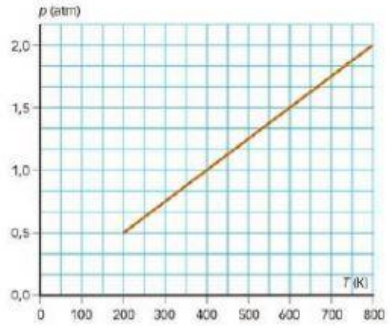

$$p_1 \cdot V_1 = p_2 \cdot V_2$$

$$\frac{V_1}{T_1} = \frac{V_2}{T_2}$$

$$\frac{p_1}{T_1} = \frac{p_2}{T_2}$$

Charlesen legea — V eta T zuzenki proportzionalak
GayLussacen legea — p eta T zuzenki proportzionalak dira
Boyle-Mariotteren legea — p eta V alderantziz proportzionalak dira

C

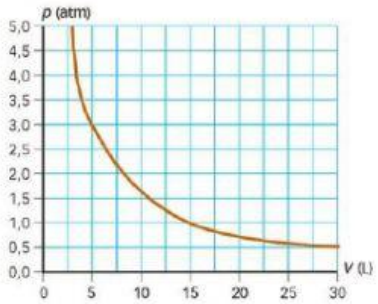

$$p_1 \cdot V_1 = p_2 \cdot V_2$$

$$\frac{V_1}{T_1} = \frac{V_2}{T_2}$$

$$\frac{p_1}{T_1} = \frac{p_2}{T_2}$$

Boyle-Mariotteren legea — V eta T zuzenki proportzionalak
Charlesen legea — p eta T zuzenki proportzionalak dira
GayLussacen legea — p eta V alderantziz proportzionalak dira

LIVEWORKSHEETS