CONCURSO DE MATEMÁTICA

Hijo(a) del Rey: _____ Grado: 4° grado

Profesora: Cindya Condor Moreno Fecha: 07/11/22

1. Completa la secuencia.

- 1347 - 1356 - _____ - 1374 - 1383 - _____

- 1215 – 1212 - _____ - 1206 - _____

2. Encuentra los valores y completa la tabla.

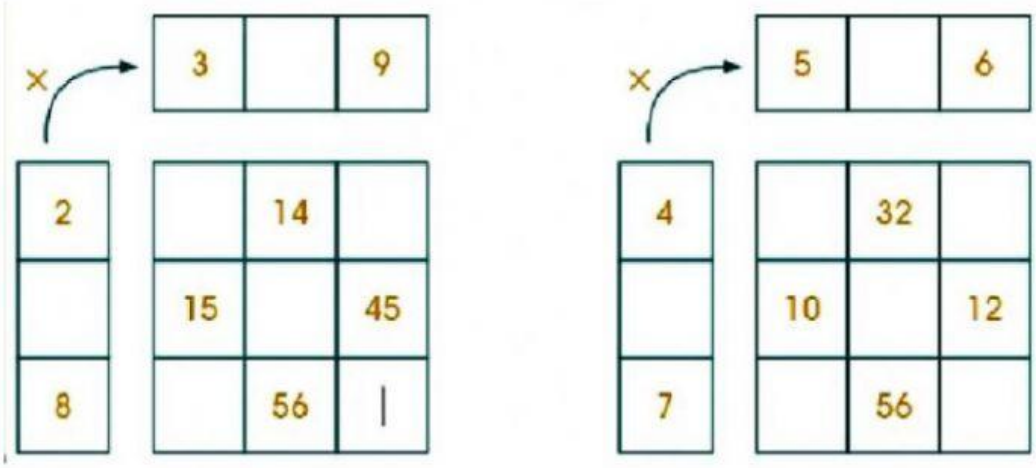

3. Remplaza las figuras con su equivalencia y marca el resultado:

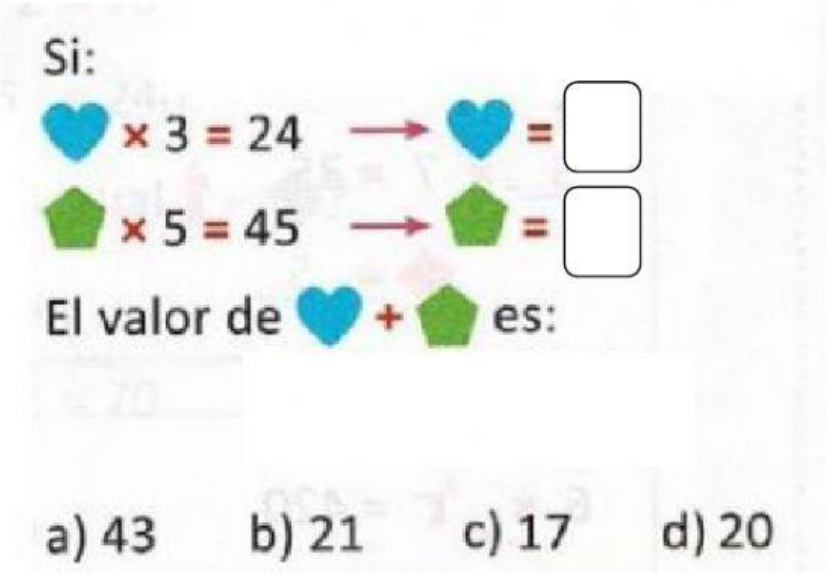

LIVEWORKSHEETS

I.E.P. Yo Soy Jesús

4. Resuelve las siguientes pirámides:

Pirámide 1

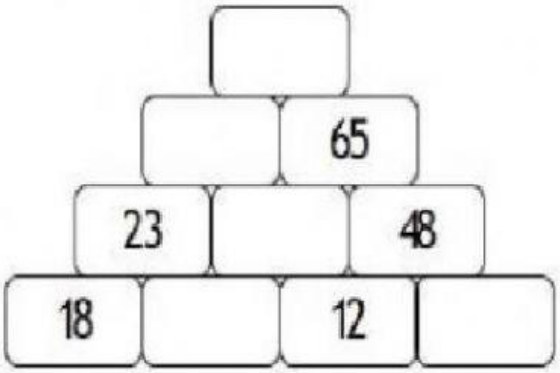

Pirámide 2

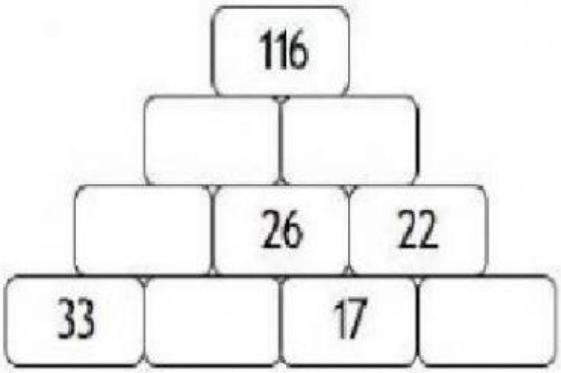

5. Lee y resuelve las siguientes operaciones

En tres buses que salen de viaje al Sur entran 63, 56 y 45 personas entre adultos y niños. ¿Cuántas personas en total han ido de paseo?

- 154 personas
- 148 personas
- 164 personas

La montaña rusa tiene 29 carritos, cada uno para 5 personas. ¿Cuántas personas pueden subir a la vez?

- 145 carritos
- 34 personas
- 145 personas

Pedro tiene 1245 canicas y desea repartirlos entre sus 3 mejores amigos. ¿Cuántas canicas le tocará a cada amigo?

- 1248 canicas
- 415 canicas
- 3735 canicas

LIVEWORKSHEETS

6. Escribe la fracción que corresponde a cada parte pintada.

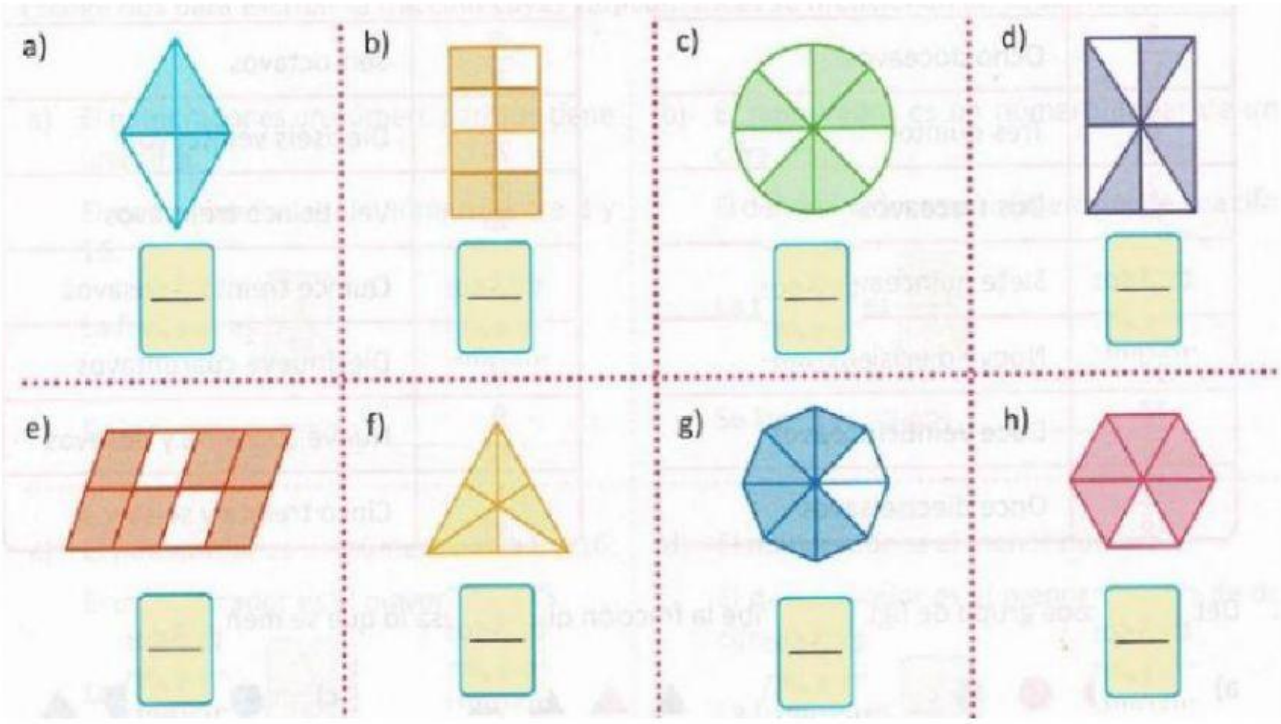

7. Escribe el número anterior y posterior:

	1329			1520	
	4215			7000	

8. Escribe el número:

- Siete milésimos
- Cuatro enteros, doce centésimos.
- Nueve centésimos

LIVEWORKSHEETS

9. Resuelve las siguientes multiplicaciones

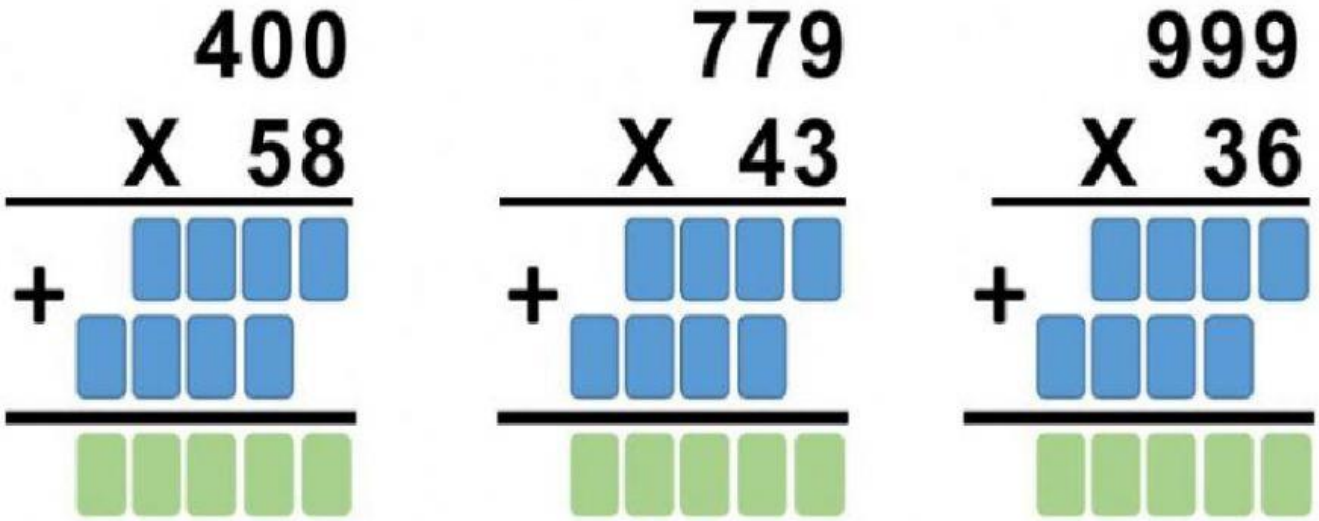

"SOY UN ESTUDIANTE ESFORZADO Y VALIENTE"

LIVEWORKSHEETS