Nombre y apellidos:

Fecha:

Evaluación de matemáticas

LEE Y SELECCIONA LA RESPUESTA CORRECTA

Son aquellas que forman un ángulo de 90°

Son aquellas que nunca se corta

Son las que tiene un punto en común

Es aquella que está formada por forma redondeada

Es aquella que está compuesta por varias línea

Está compuesta por líneas curvas y rectas

Es una línea recta que se traza de forma perpendicular.

Es una línea recta que va de izquierda a derecha

Es aquella que se posiciona de forma inclinada.

No tiene principio ni fin.

Tiene punto de origen pero no tiene final.

Es la parte de recta limitada entre dos puntos.

SELECCIONA SEGÚN CORRESPONDA

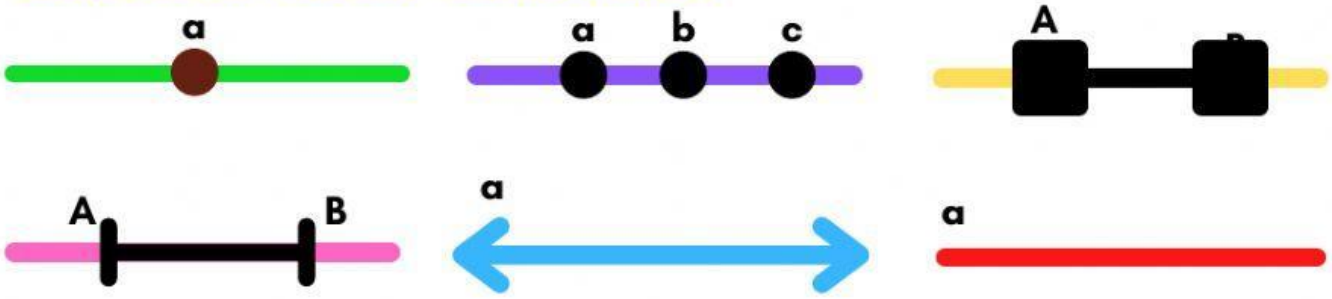

ESCRIBE QUE TIPO DE LINEA SEGÚN SU POSICIÓN

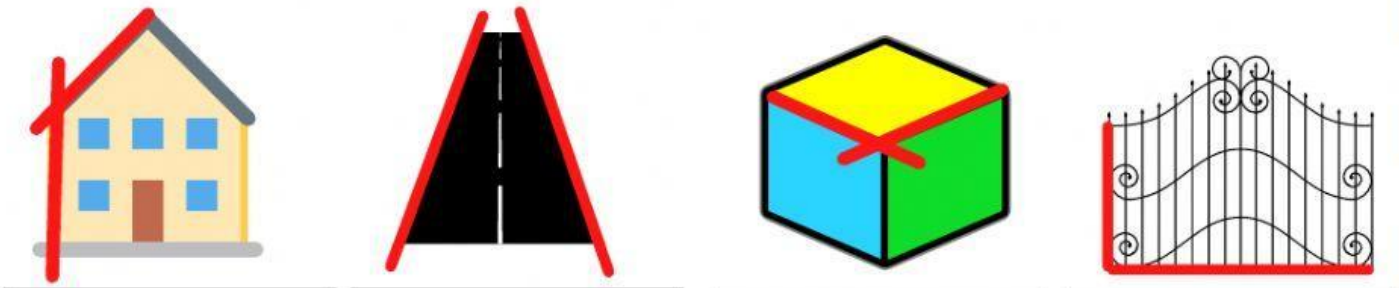

Lcda. Marisely Acevedo Ortiz

Prof. de primaria

LIVEWORKSHEETS

ESCRIBE QUE TIPO DE LINEA SEGÚN SU FORMA Y DIRECCION

1_____ 2_____ 3_____ 4_____ 5_____ 6_____

ESCRIBE QUE TIPO DE LINEA SEGÚN SU FORMA Y DIRECCION



SELECCIONA EL TIPO DE RECTA SEGÚN CORRESPONDA

LIVEWORKSHEETS