Evaluare/recapitulare climatul Asiei

1. **Analizați tabelul cu tipurile de climat din Asia de mai jos și identificați tipurile de climat care nu au denumirea tercută, după descrierea lor din partea dreaptă. Alegeți denumirea corectă din lista propusă.**

Principalele climate ale Asiei sunt prezentate sintetic în următoarea schemă:

Principalele climate ale Asiei, în succesiune latitudinală, de la nord la sud	
	temperaturi foarte scăzute tot timpul anului, precipitații reduse și vânturi foarte puternice (vânturile polare); localizare: insulele arctice.
climat subpolar	• ierni foarte lungi cu geruri puternice, veri scurte și răcoroase (temperaturi sub 10 °C), precipitații reduse, vânturi puternice; localizare: o fâșie în nordul Asiei, dincolo de Cercul Polar de Nord.
	• ierni aspre, cu temperaturi negative, veri răcoroase; diferențele de temperatură de la vară la iarnă și precipitațiile cresc spre est; localizare: de la Munții Ural până la Oceanul Pacific.
climat temperat arid	• diferențe mari de temperatură de la vară la iarnă, precipitații reduse (sub 300 mm/an) din cauza barierelor montane din sud; localizare: aprox. între 38° și 48° lat. N, în Asia Centrală.
climat temperat semiarid	• diferențe mari de temperatură de la vară la iarnă, precipitații reduse (300 mm/an) din cauza barierelor montane; localizare: aproximativ între 38° și 50° lat. N, în interiorul Asiei.
	• cald și secetos vara, blând și ploios iarna; localizare: pe litoralul estic al Mării Mediterane, în sudul Mării Negre și sudul Mării Caspice.
climat subtropical cu ploi de vară	• cald și ploios vara, datorită precipitațiilor aduse de vânturile care bat dinspre ocean, iarna cu invazii de aer rece; localizare: în estul Asiei, aproximativ între 25° și 35° lat. N.
climat tropical semiarid	• diferențe mari de temperatură de la zi la noapte, precipitații foarte reduse (200 mm/an în semideșerturi); localizare: de-o parte și de alta a Tropicului Racului, între 15° și 35° lat N.
	• diferențe mari de temperatură de la zi la noapte, precipitații foarte reduse (sub 150 mm/an în deșerturi); localizare: Pen. Arabia, Podișul Iran, bazinul inferior al Indusului și centrul Indiei.
	• două anotimpuri/sezoane impuse de circulația sezonieră a musonilor: vara cu ploi și frecvente furtuni și iarna secetă; localizare: Peninsula India, Peninsula Indochina.
	temperaturi ridicate tot anul (medii lunare între 25° și 27 °C), precipitații bogate (1 000 – 3 000 mm/an); localizare: Arhipelagul Indonezian, Filipine, Peninsula Malacca.
climat montan	• impune o zonare climatică pe verticală, determinată de munții înalți.

2. **Analizați schema formării musonilor de mai jos și identificați imaginea corespunzătoare musonului de vară și a musonului de iarnă. Alegeți varianta corectă.**





LIVEWORKSHEETS

3. **Analizați harta tipurilor de climat din Asia și identificați-le pe cele a căror denumire lipsește, folosindu-vă de reprezentarea lor. Alegeți varianta corectă, din lista propusă.**

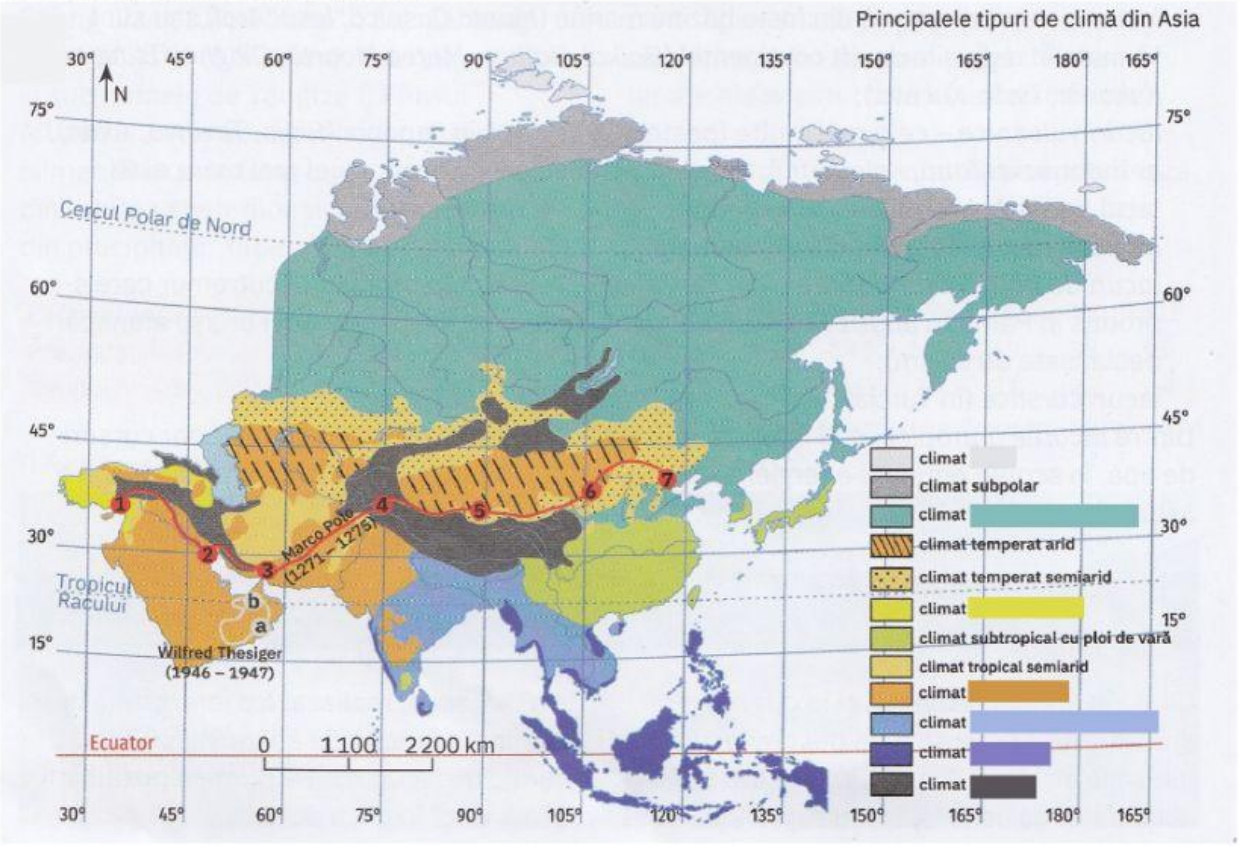

LIVEWORKSHEETS