- Antonio tiene una tienda de ropa y calzado. Cada 12 días se traslada a otra ciudad para comprar ropa, y cada 9 días, para comprar calzado. Hoy ha ido a la ciudad y ha comprado ropa y calzado. ¿Cuántos días han de pasar hasta que vuelva a comprar ropa y calzado a la vez?

1. DATOS

2. MCM O MCD

M.C.M	M.C.D
coincidir	dividir
repetición	repartir
mínima cantidad	agrupar
	cortar

¿Qué elegimos?_____

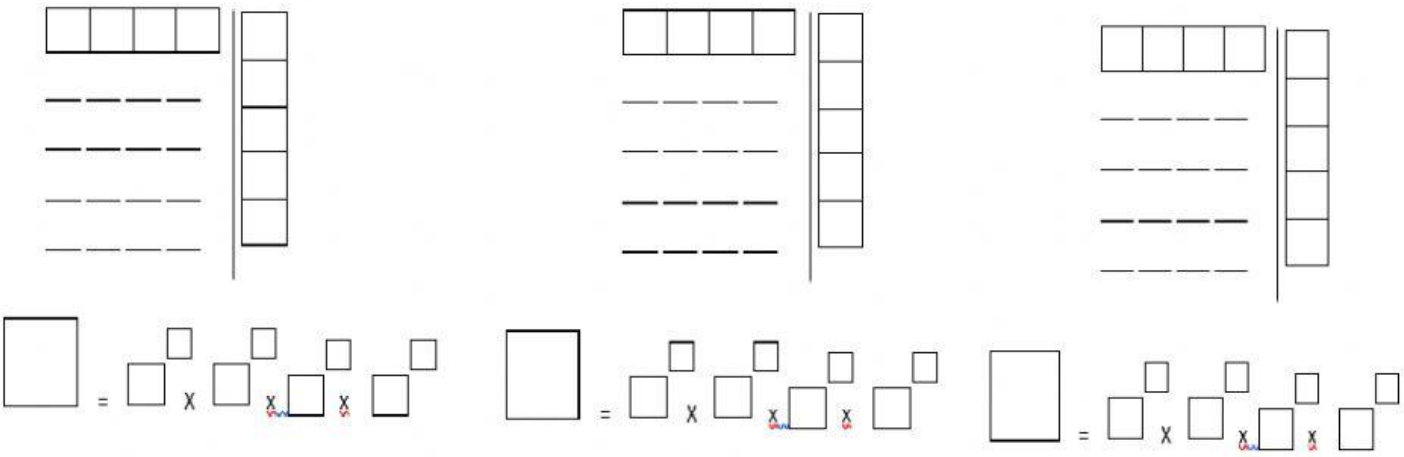

m.c.m 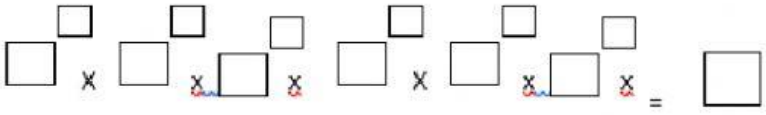

M.C.D 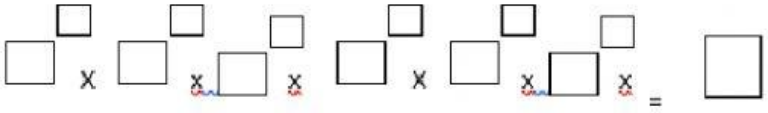

Solución:_____

LIVEWORKSHEETS

- Marina tiene un listón de madera de 16 cm y otro de 12 cm. Quiere cortar los dos listones en trozos de igual tamaño, de manera que no le sobre nada. ¿Cuál será la longitud máxima de cada trozo?

1. DATOS

2. MCM O MCD

M.C.M	M.C.D
coincidir	dividir
repetición	repartir
mínima cantidad	agrupar
	cortar

¿Qué elegimos? _____

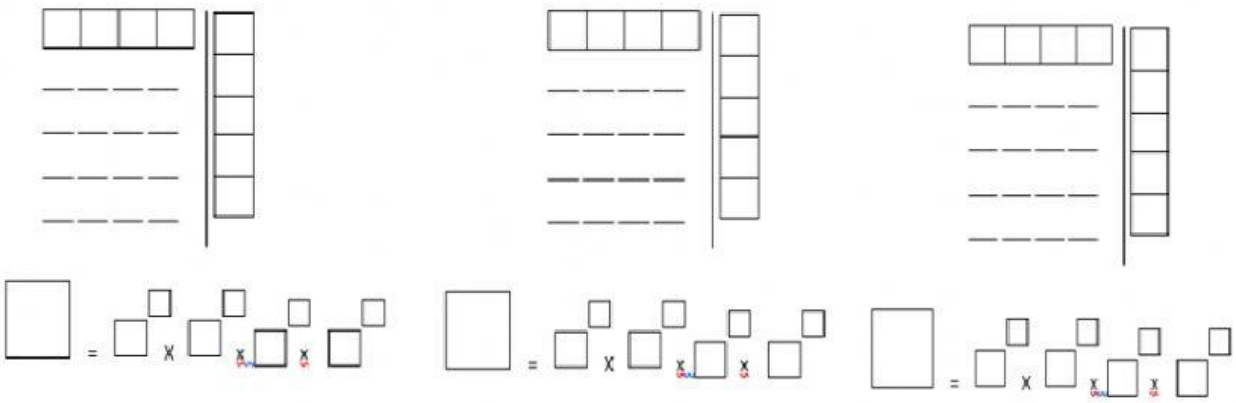

m.c.m

M.C.D

Solución: _____

LIVEWORKSHEETS

- En una frutería había 20 kg de cerezas y 15 kg de fresas. Hicieron cajas de igual peso y tipo de fruta, todas del mayor peso posible, y no sobró fruta. ¿Cuántas cajas obtuvieron?

1. DATOS

2. MCM O MCD

M.C.M	M.C.D
coincidir	dividir
repetición	repartir
mínima cantidad	agrupar
	cortar

¿Qué elegimos? _____

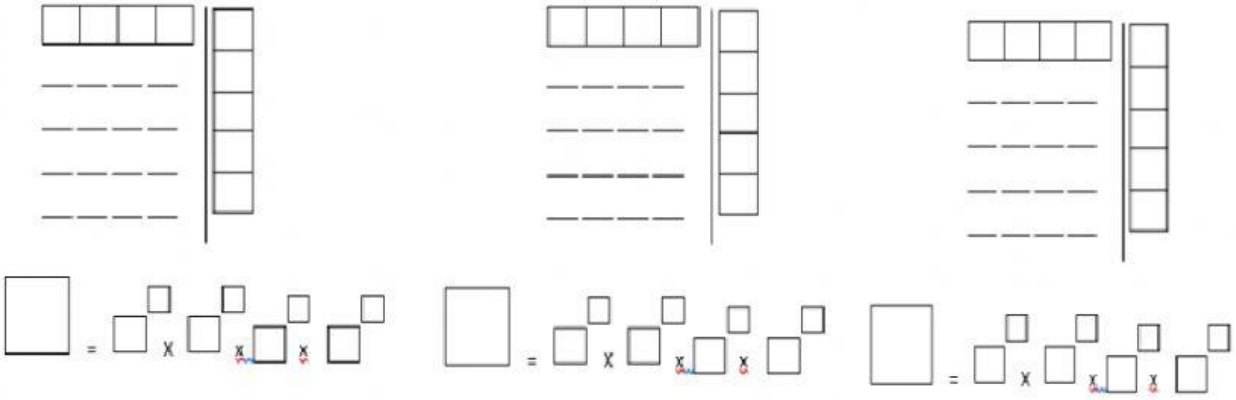

m.c.m

M.C.D

Solución: _____

LIVEWORKSHEETS

- En la lechería de Martín hay 3 depósitos, uno con 18 litros, otro con 20 y otro con 14. La leche se envasa en garrafas de igual capacidad procurando que sea la mayor posible, sin que sobre leche. ¿Cuál es la capacidad de cada garrafa?

1. DATOS

2. MCM O MCD

M.C.M	M.C.D
coincidir	dividir
repetición	repartir
	agrupar
mínima cantidad	cortar

¿Qué elegimos? _____

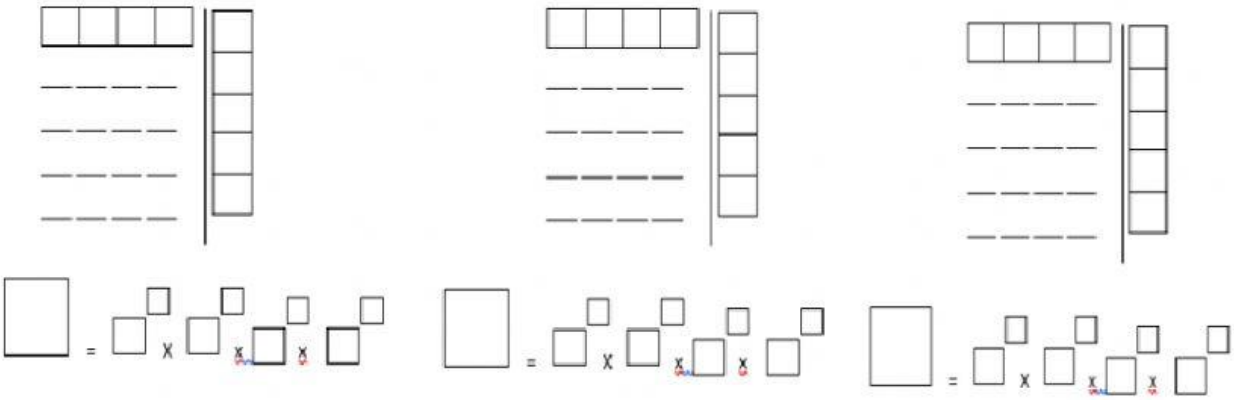

m.c.m

M.C.D

Solución: _____

LIVEWORKSHEETS

- Roberto y su hermana Tania tienen la misma cantidad de dinero. Roberto solo tiene monedas de 2 € y Tania solo tiene billetes de 5 €.

Pregunta: ... Solución: m.c.m. (2 y 5) = ... ▶ ...

1. DATOS

2. MCM O MCD

M.C.M	M.C.D
coincidir	dividir
repetición	repartir
mínima cantidad	agrupar
	cortar

¿Qué elegimos? _____

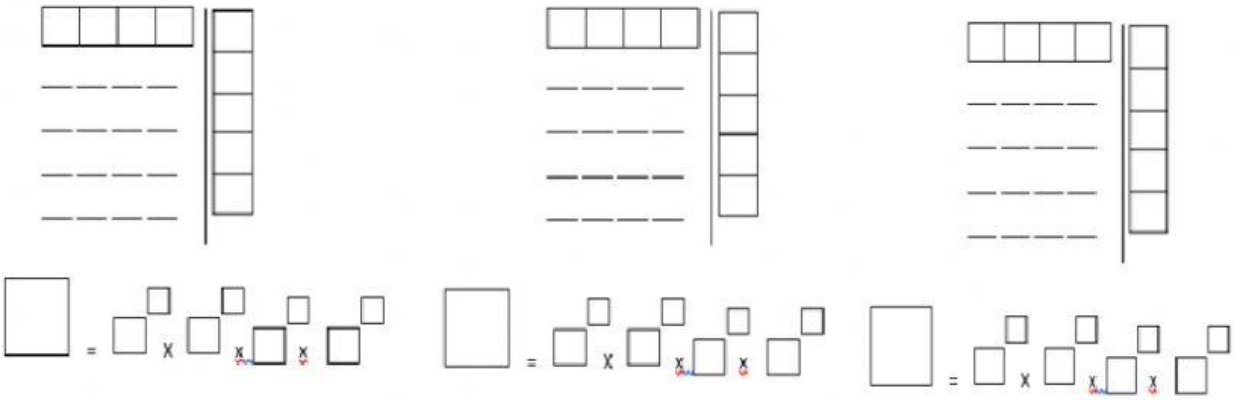

m.c.m

M.C.D

Solución: _____

LIVEWORKSHEETS

- Natalia va a clase de natación cada 8 días, Luis cada 6 días y Gema cada 10. Hoy han coincidido los tres en la piscina.

Pregunta:_____

1. DATOS

2. MCM O MCD

M.C.M	M.C.D
coincidir	dividir
repetición	repartir
mínima cantidad	agrupar
	cortar

¿Qué elegimos?_____

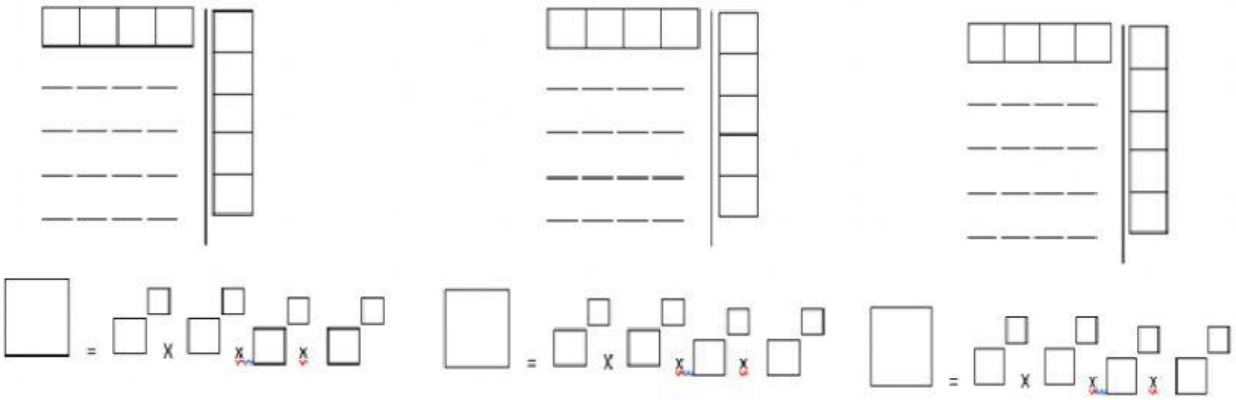

m.c.m

M.C.D

Solución:_____

LIVEWORKSHEETS