Họ và tên:.....Lớp:.....

2 Ki-lô-gam

Bài 1. *Điền số thích hợp vào* ☐ *biết:* 5 kg = 5kg; 2 kg = 2kg; 1 kg = 1kg

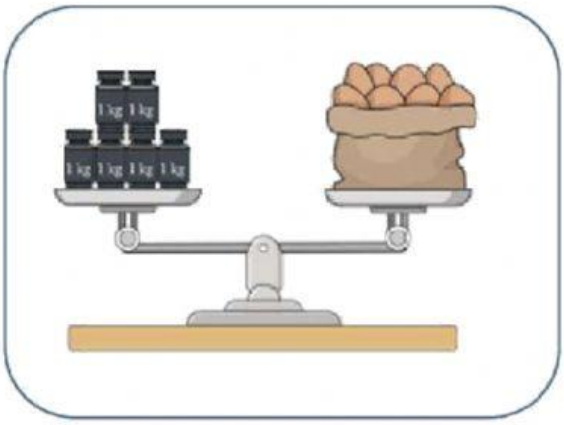

☐ kg

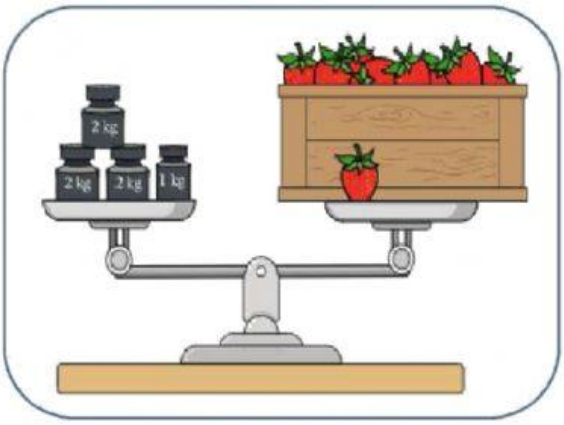

☐ kg

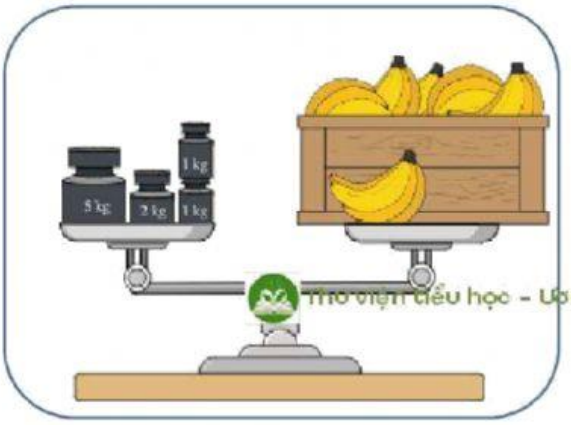

☐ kg

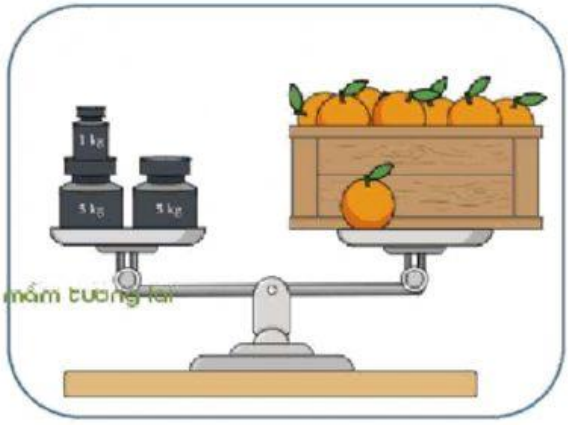

Thư viện tiểu học - Ươm mầm tương lai

Bài 2. *Số ?*



☐ kg



☐ kg

LIVEWORKSHEETS

Bài 3. *Số?*



Bài 4. *Tính:*

9kg + 21kg = ……	8kg + 11kg = ……	17kg + 22kg = ……
14kg + 35kg = ……	24kg + 14kg = ……	32kg + 16kg = ……
27kg – 7kg = ……	35kg – 12kg = ……	47kg – 24kg = ……

LIVEWORKSHEETS

Bài 5. Một cửa hàng bán được 68 kg gồm gạo nếp và gạo tẻ, trong đó có 34 kg gạp nếp. Hỏi cửa hàng đó bán được bao nhiêu ki-lô-gam gạo tẻ?

Bài giải

.....

.....

.....

Bài 6. Bao thóc thứ nhất nặng 56kg và nặng hơn bao thóc thứ hai là 13kg. Hỏi:

a. Bao thóc thứ hai nặng bao nhiêu ki-lô-gam?

b. Cả hai bao thóc nặng bao nhiêu ki-lô-gam?

Bài giải

.....

.....

.....

.....

.....
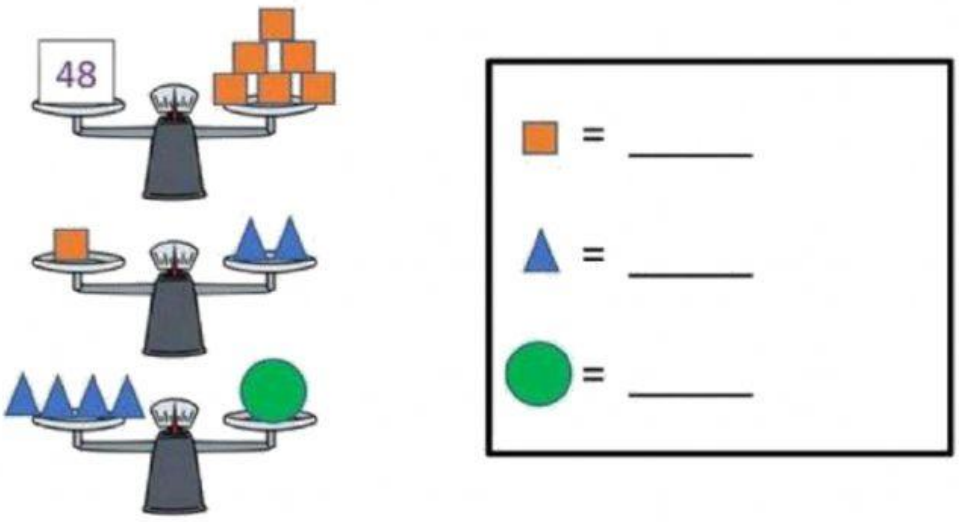
Bài 7. Số?