NUMERACIÓ I CÀLCUL MENTAL

1. Quin nombre falta per completar la desena superior?

47	99	13	4	62	44	25	76
3							

1. Continua les sèries:

20 →	23 →	26 →	→	→	→	→	41
40 →	60 →	80 →	→	→	→	→	180

2. Completa les piràmides. La casella superior és a suma de les inferiors:

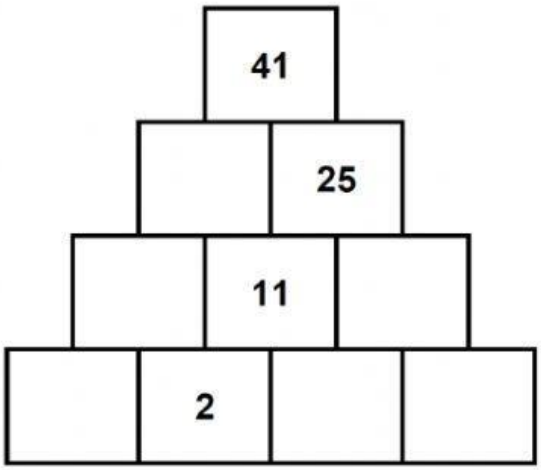

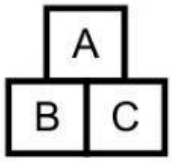

B + C = A

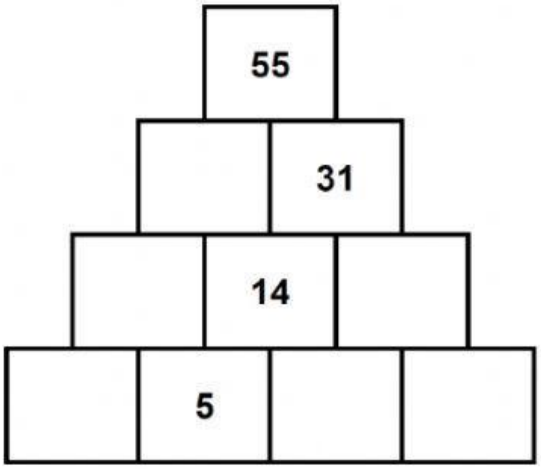

3. Quin canvi ens donaran si paguem cada article amb un bitllet de 100 €?