Об’єкти електронної таблиці

1. Які з наведених записів є адресами клітинок? Позначте всі правильні відповіді.

   - ✓ D15C
   - ✓ A2C3
   - ✓ A10B1
   - ✓ CD4

2. Яка адреса клітинки на зображенні?

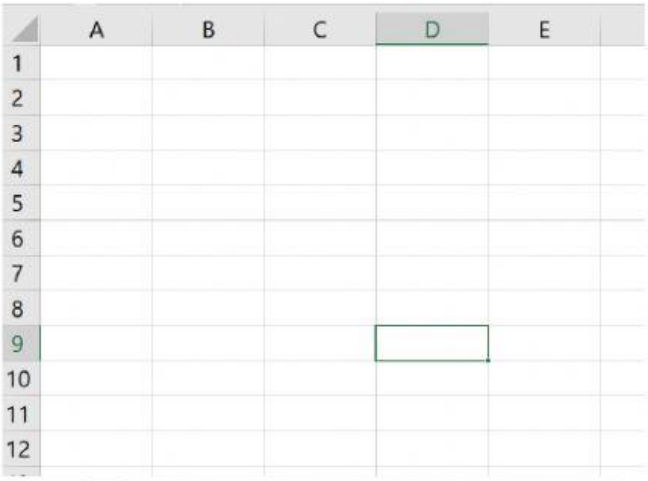

____

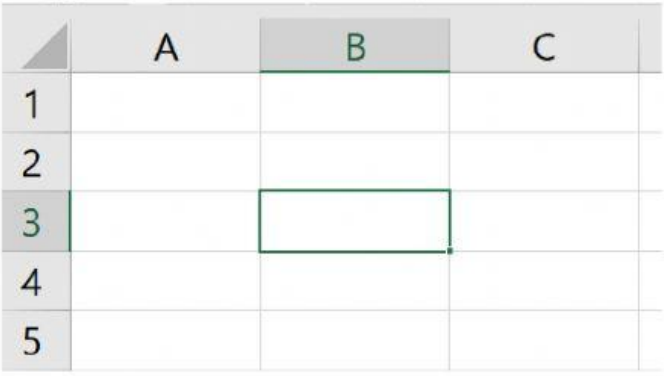

____

LIVEWORKSHEETS

3. Напишіть адресу виділеного прямокутного діапазону, що зображено на малюнку

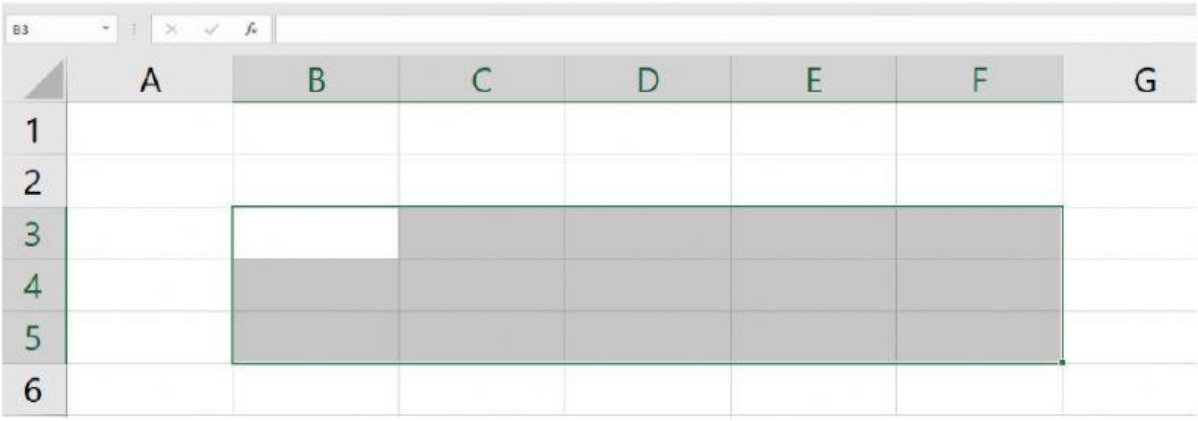

4. Вкажіть формули у клітинці **D3**, результат підрахунку яких дасть середнє арифметичне числових значень діапазону **A1:C3**. Позначте всі правильні відповіді.

	A	B	C	D
1	3	5	7	5

✓ =(A1+B1+C1)/D1

✓ =(3+5+7)/3

✓ = (A1+B1+C1)/3

✓ = (A1+B1+C1):3

LIVEWORKSHEETS