ВЕКТОРИ НА ПЛОЩИНІ

Які вектори на рисунку колінеарні?

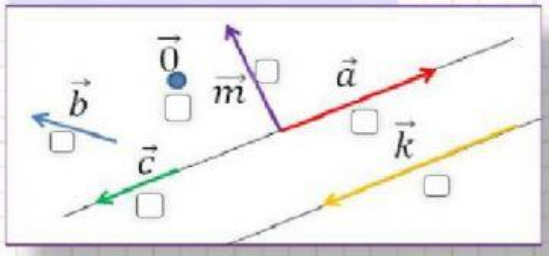

Визнач довжину кожного вектора на рисунку (клітинка = 1)

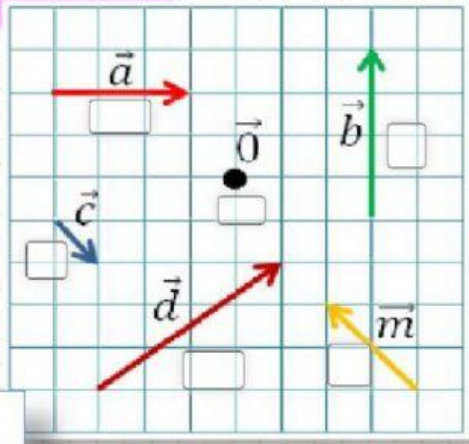

Запиши виразом значення вектора (вписуй без стрілки)

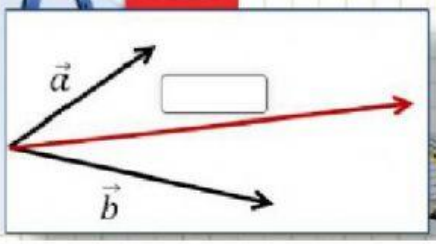

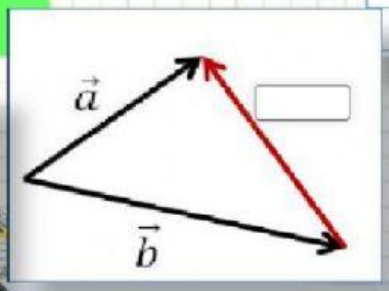

LIVEWORKSHEETS