Họ tên: ……..

Lớp: ……..

Kiểm tra giữa HK1
TOÁN

PHẦN A: Khoanh vào chữ đặt trước câu trả lời đúng nhất:

Câu 1: Số bốn trăm linh năm viết là:

A. 45 B. 450 C. 405 D. 504

Câu 2: Trong các số dưới đây, số nào bé nhất:

A. 709 B. 907 C. 790 D. 710

Câu 3: $\frac{1}{6}$ của 30kg là:

A. 6kg B. 5kg C. 7kg D. 8kg

Câu 4: 8m 3cm = ……. cm. Số cần điền vào chỗ chấm là:

A. 83 B. 803 C. 830 D. 38

Câu 5: Gấp 12 lên 6 lần thì được:

A. 18 B. 6 C. 72 D. 4

Câu 6: Đồng hồ chỉ mấy giờ?

…… …… ……

Câu 7: Trên hình bên có:

a) …… hình tam giác.
b) …… hình tứ giác.
c) …… góc vuông.

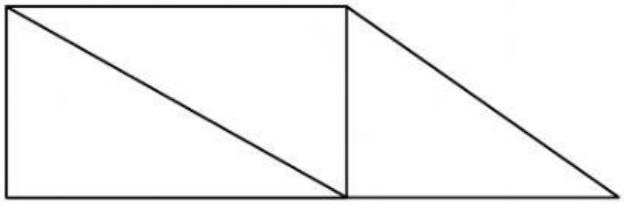

LIVEWORKSHEETS
LIVEWORKSHEETS

PHẦN B:

Câu 1: Đặt tính rồi tính:

495 + 107	746 - 274	39 x 7	68 : 7
.....	.....	.....	..... | .....
+	-	x	..... | .....
.....	.....	.....	
.....	.....	.....	

Câu 2: Tìm x:

56 : x = 7

.....

.....

Câu 3: Tính:

84 : 2 + 505

= .....

= .....

Câu 4: Tổ Một trồng được 57 cây. Tổ Hai trồng được gấp 3 lần số cây của tổ Một. Hỏi tổ Hai trồng được bao nhiêu cây?

Giải

.....

.....

.....

Câu 5: Điền số thích hợp vào ô trống:



a) $\frac{1}{4}$ số hộp quà ở hình bên là ☐ hộp quà.

b) $\frac{1}{5}$ số hộp quà ở hình bên là ☐ hộp quà.

Câu 6: Viết tên các đỉnh và cạnh góc vuông ở hình bên:

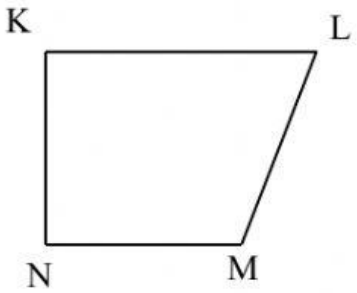

.....

.....

LIVEWORKSHEETS
LIVEWORKSHEETS

LIVEWORKSHEETS
LIVEWORKSHEETS