APPARATO ESCRETORE e APPARATO NERVOSO

1) Indica nella figura i principali organi dell'apparato escretore

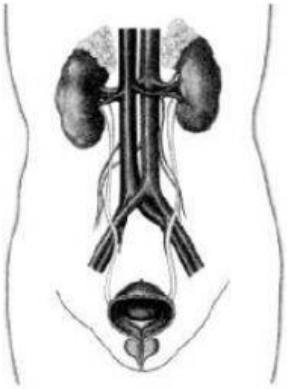

a) reni

b) ureteri

c) uretra

d) vescica

2) Inserisci negli appositi spazi il numero corrispondente alla parte di neurone indicata:

1. nucleo **4**. corpo cellulare

2. impulso nervoso **5**. dendriti

3. assone **6**. guaina mielinica

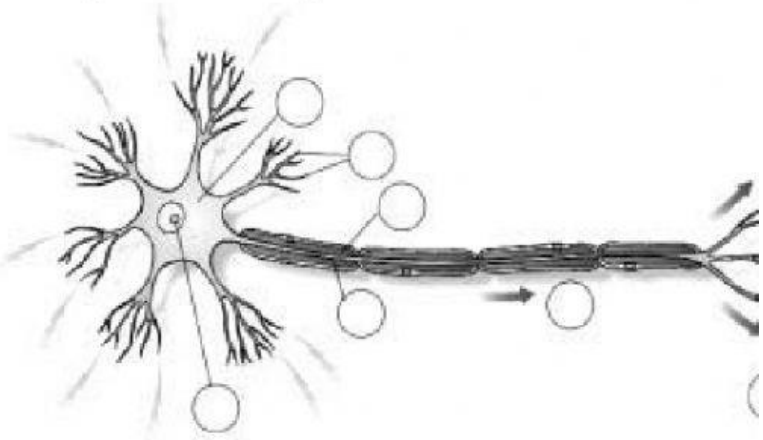

3) Inserisci negli spazi i nomi delle diverse parti dell'encefalo:

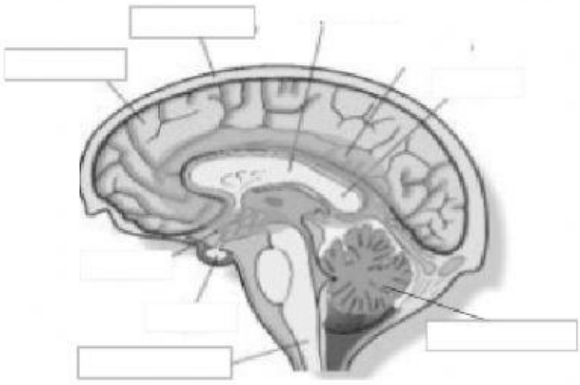

a) cervelletto

b) corteccia cerebrale

c) meningi

d) midollo allungato

LIVEWORKSHEETS

4) Completa il testo:

	corteccia cerebrale		muscoli
	emisferi cerebrali		nervi
	encefalo		Sistema Nervoso Centrale
	meningi		Sistema Nervoso Centrale
	midollo spinale		

Il **Sistema Nervoso Centrale** è formato da .....

e .....

il **Sistema Nervoso Periferico** è formato da una rete di .....

I **nervi sensitivi** portano l'impulso nervoso dagli .....

al .....,

I **nervi motori** portano l'impulso nervoso dal .....

ai ..... .

Il cervello è suddiviso in due ..... .

La superficie esterna del cervello si chiama .....

L'encefalo è rivestito da tre membrane chiamate ..... .

5) Vero o Falso?	**V**	F
Gli impulsi nervosi vengono trasmessi da un neurone all'altro attraverso le **sinapsi**		
Il **Sistema Nervoso Centrale** comprende tutti i nervi.		
Il **Sistema Nervoso Autonomo** presiede alle funzioni involontarie, come il battito del cuore		
Il **Sistema Simpatico** e quello **Parasimpatico** agiscono sugli stessi organi, ma con funzioni opposte.		
La memoria è conservata nel **cervelletto**.		
Il **midollo spinale** si trova dentro la colonna vertebrale.		

LIVEWORKSHEETS

LIVEWORKSHEETS