RESUELVE LAS ACTIVIDADES:

Marca con una X las rectas que son paralelas:



Completa las siguientes afirmaciones:

- **Si prolongamos dos rectas y nunca llegan a tocarse, estas rectas son _____ .**

- **Si prolongamos dos rectas y llegan a cortarse formando cuatro ángulos iguales, estas rectas son _____ .**

Marca con una X las rectas que son perpendiculares:



Observa las rectas e indica si son paralelas o secantes:

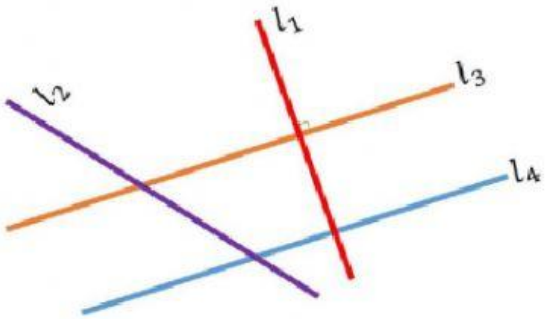

La roja (L_1) y la marón (L_3) son:

La morada (L_2) y la celeste (L_4) son:

La morada (L_2) y la roja (L_1) son:

La marrón (L_3) y la celeste (L_4) son:

LIVEWORKSHEETS