Перевірна робота з математики № 2

Прізвище ім'я по батькові учня _____ Клас _____ Дата _____

Питання №1

Визнач, у якому рядку записані одиниці вимірювання часу.

- ◯ А) **1 см, 1 м,1 дм**
- ◯ Б) **1 доба, 1 год, 1 тиждень**
- ◯ В) **1 грн, 1к**

Питання №2

Визнач, у якому виразі дія додавання виконується другою.

- ◯ А) **7 + (9 - 5)**
- ◯ Б) **6 + 5 - 1**
- ◯ В) **9 - (8 + 1)**

Питання №3

Запиши у клітинку таку цифру, щоб одержати істинну рівність. 34 + 1_ =

45

Питання №4

Запиши, яке значення має кожен вираз. 7 + 7 =

__

16 - 8 = _

9 + 6 = __

Питання №5

Запиши, яке значення має кожен вираз. 48 - (3

+ 5) = __

37 - (10 + 6) = __

Питання №6

Прочитай уважно задачу та обери відповідну схему та її розв'язання.

LIVEWORKSHEETS

Матуся знайшла 5 грибів, син – 6 грибів, а тато стільки, скільки мама та син разом. Скільки грибів знайшов тато?

М.– 5 гр.
С. – 6 гр. } *Т. - ? гр.*

5 + 6 = 11(г)

Відповідь: 11 грибів знайшов тато?

М.– 5 гр.
С. – 6 гр. } *? гр.*

5 + 6 = 11(г)

Відповідь: 11 грибів.

Питання №7

Прочитай уважно задачу та обери коротку умову, яка їй відповідає.

1) **1) На дерево сіло 6 голубів, 4 ворони і 7 горобців. Скільки всього птахів сіло на дерево?**

2) **2) На дерево сіло 6 голубів і 4 ворони, а горобців стільки, скільки ворон і голубів разом. Скільки горобців сіло на дерево?**

А)

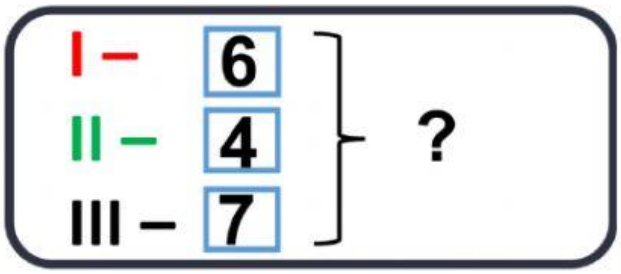

Б)

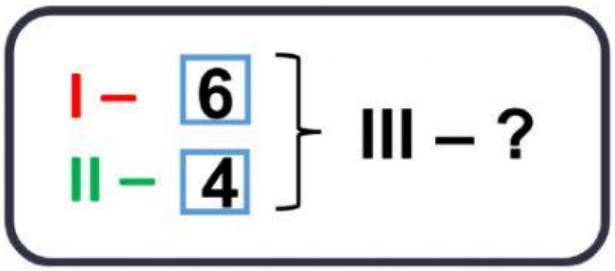

Вкажіть відповідність:

	А	Б
1		
2		

LIVEWORKSHEETS

Питання №8

Визнач довжину олівця.



ДОВЖИНА ОЛІВЦЯ _ СМ

LIVEWORKSHEETS