அ. சரியான விடைக்கு வட்டம் இடுக.

1. இருநூற்று இருபத்து இரண்டு

A. 222 B. 622 C. 422

2. 664

A. அறுநூற்று அறுபத்து ஒன்று

B. அறுநூற்று அறுபத்து நான்கு

C. அறுநூற்று ஐம்பத்து ஒன்பது

3. கீழே கொடுக்கப்பட்ட சீனமணிச்சட்டத்தின் எண்ணிக்கையைத்தெரிவு செய்க.

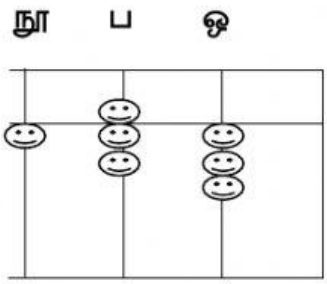

A. 173

B. 133

C. 113

4. **<u>சரியான</u>** இணையைத் தெரிவு செய்க.

A.	440	நாற்பது
B.	880	எண்ணூற்று எண்பது
C.	600	ஆறு

5. _____ ஐ விட 160 பெரியது.

விடுபட்ட இடத்தில் சரியான எண்ணைத் தெரிவு செய்க.

A. 100

B. 630

C. 610

6. கீழ்க்காணும் எண் தொடரைப் பற்றிய **<u>சரியான</u>** கூற்று யாது ?

445	450	455	460	465

A. ஐந்து ஐந்தாக ஏறுவரிசையைக் கொண்டது.

B. ஐந்து ஐந்தாக இறங்குவரிசையைக் கொண்டது

C. இரண்டு இரண்டாக ஏறுவரிசையைக் கொண்டது.

7. 312 → 314 → ____ → 318 → 320

விடுபட்ட எண்ணைக் கண்டுபிடிக்கவும்.

A. 315 B. 310 C. 316

8. 956 கோடிடப்பட்டுள்ள எண்ணின் இட மதிப்பு என்ன?

A. ஒன்று B. பத்து C. ஐந்து

9. 783 இட மதிப்பிற்கேற்ப பிரிக்கவும்.

A. 700 + 80 + 3

B. 700 + 8 + 3

C. 700 + 88 + 3

10. 400 + 7

A. 7

B. 407

C. 47

11.கிட்டிய பத்தை **ஏற்காத** எண்ணைத் தெரிவு செய்க.

700

A. 578

B. 679

C. 560

12. கீழ்க்கண்ட எண்ணை ஏற்காத இணை எண் யாது ?



A. 100 , 500

B. 200 , 600

C. 300 , 700

13. 950 - 320 =

A. அறுநூற்று அறுபத்து ஏழு

B. அறுநூற்று முப்பது

C. அறுநூற்று நாற்பத்து ஒன்பது

14.கட்டத்தில் விடுபட்ட எண்ணைப் பூர்த்திச் செய்க.

$$\begin{array}{r} 1\ 6\ 0 \\ +\ \ 2\ 3\ 0 \\ \hline \\ \hline \end{array}$$

A. 330

B. 300

C. 390

15. $\boxed{}$ x 10 = 80

A. 7

B. 8

C. 4

16. 316 உடன் 217 -ஐ சேர்த்தால் _____ வரும்.

A. 503

B. 533

C. 604

17.கீழ்க்காணும் படத்திற்கு ஏற்ப கணித வாக்கியத்தைத் தெரிவு செய்க.

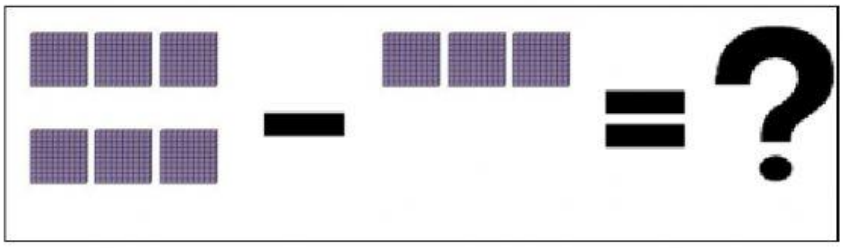

A. 300 + 100 = 300

B. 600 - 300 = 300

C. 500 + 100 = 600

18. 460 + 370 =

A. 800

B. 830

C. 930

19. 440 + 210 =

A. 650

B. 660

C. 900

20.- 6 x 3 =

A. 18

B. 33

C. 37

21. 820 - 240 =

A. 580

B. 680

C. 780

22. கீழ்க்கண்ட பாகங்கள் அனைத்தும் சமமான பாகம் ஒன்றைத் தவிர.

A. 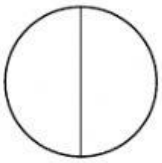

B. 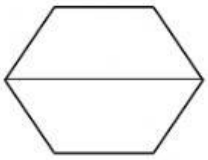

C. 

23. இரு போத்தல்களில் உள்ள கோலிகளின் மொத்த எண்ணிக்கைஎத்தனை ?

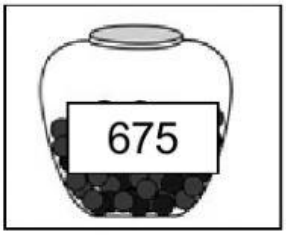

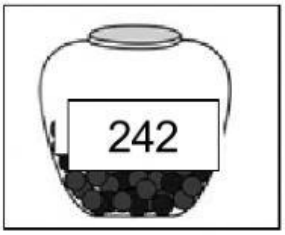

A. 747

B. 917

C. 917

24. RM 100 | RM 100 | RM 100 | RM 50

மேற்கண்ட பணத்தின் தொகையைக் கணக்கிடுக.

A. RM 450

B. RM 350

C. RM 800

25.மீனாவிடம் 875 மிட்டாய்கள் இருந்தன. அதில் 250 மிட்டாய்களைத் தன் நண்பர்களிடம் கொடுத்து விட்டான். அவனிடம் மீதம் உள்ள மிட்டாய்கள் எத்தனை ?

A. 505

B. 525

C. 625

26. ருத்திரன் ஒரு கூடையில் 523 கோலிகளைச் சேகரித்தான். அவனது தங்கை நேத்திரா மேலும் 194 கோலிகளைச் சேகரித்தாள். இருவரும் சேகரித்த கோலிகள் மொத்தம் எத்தனை ?

A. 477

B. 707

C. 717

27. திரு.டேவிட் 633 கணினிகளைத் தம் கடையில் வைத்திருந்தார். அவற்றில் 110 -ஐ விற்று விற்றார். அவரிடம் உள்ள மீத கணினிகள் எத்தனை ?

A. 523

B. 723

C. 743