1. Jaką liczbę mieszaną przedstawiono na rysunku?

a) 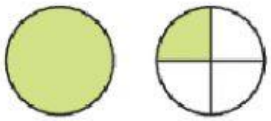 –

b) 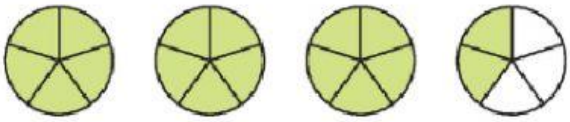 –

c)  –

2. Zapisz w postaci liczby naturalnej:

a) $\frac{6}{2}$; b) $\frac{15}{5}$; c) $\frac{42}{7}$; d) $\frac{55}{5}$;

e) $\frac{72}{8}$; f) $\frac{160}{10}$; g) $\frac{96}{12}$; h) $\frac{105}{35}$.

3. Ułamek niewłaściwy zapisz w postaci liczby mieszanej:

a) $\frac{16}{3}$; – b) $\frac{25}{4}$; – c) $\frac{26}{3}$; –

d) $\frac{37}{6}$; – e) $\frac{41}{8}$; – f) $\frac{35}{12}$; –

g) $\frac{53}{7}$; – h) $\frac{81}{5}$; – i) $\frac{108}{13}$. –

4. Liczbę mieszaną zamień na ułamek niewłaściwy:

a) $3\frac{5}{8}$; – b) $7\frac{2}{3}$; – c) $3\frac{3}{10}$; – d) $6\frac{4}{7}$; –

e) $9\frac{2}{5}$; – f) $4\frac{5}{6}$; – g) $5\frac{8}{9}$; – h) $3\frac{2}{7}$. –

5. Jaką liczbę należy wpisać zamiast kwadracika?

a) $2\frac{7}{5} = 3\frac{\square}{5}$; b) $4\frac{3}{2} = 5\frac{\square}{2}$;

c) $7\frac{10}{6} = 8\frac{\square}{3}$; d) $7\frac{9}{4} = 9\frac{\square}{4}$?

LIVEWORKSHEETS