Penilaian Harian

Klasifikasi Materi

Kelompokkan!

Wujud Benda	Campuran	Zat Tunggal

UNSUR

GAS

CAMPURAN HETEROGEN

PADAT

SENYAWA

CAIR

CAMPURAN HOMOGEN

Pasangkan!

UNSUR	Sesuatu yang mempunyai massa dan menempati ruang
SENYAWA	Gabungan dari dua unsur atau lebih melalui reaksi kimia
MATERI	Bagian paling dasar dari materi
CAMPURAN	Gabungan dua unsur atau lebih melalui reaksi fisika

LIVEWORKSHEETS

Tentukan Jenis Campuran dari contoh berikut!

Darah

Sereal dan Susu

Cola & Es batu

Sirup

Tanah

Pasangkan gambar dengan nama pemisahan yang sesuai!

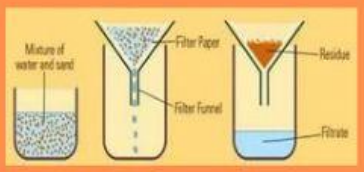

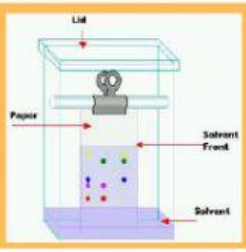

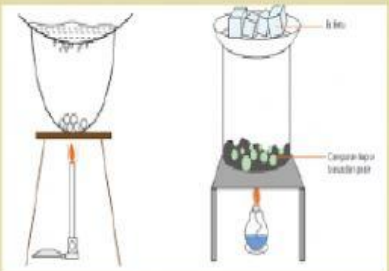

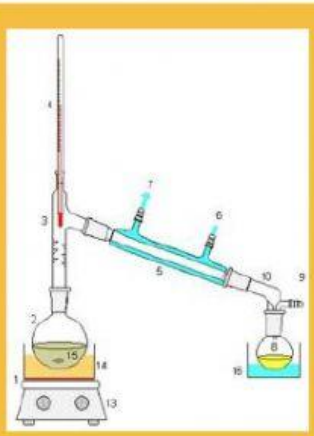

Filtrasi

Destilasi

Sublimasi

Kromatografi

LIVEWORKSHEETS

LIVEWORKSHEETS

ALKOHOL | OKSIGEN | RAKSA | AIR | KARBON

DARAH | GARAM | UDARA | NATRIUM | CUKA

Kelompok Unsur	Kelompok Senyawa	Kelompok Campuran

Pasangkanlah dengan pasangan yang tepat!

Pemisahan campuran berdasarkan perbedaan ukuran partikel	UNSUR LOGAM
Bersifat rapuh dan tidak dapat ditempa	UNSUR NONLOGAM
Bersifat konduktor	FILTRASI
Pemisahan campuran dengan perbedaan kecepatan zat	DESTILASI
Pemisahan campuran berdasarkan perbedaan titik didih	KROMATOGRAFI

LIVEWORKSHEETS