Діагностувальна робота

на тему: «План і карта. Природа України»

Дата_____ Прізвище, ім'я _____

1. Рухома модель земної кулі, що дає зображення земної поверхні це…

карта; глобус; план.

2. Спеціальні значки, які використовують для позначення різних об'єктів, це …

план;

шкала висот і глибин;

умовні позначення.

3. Що показує масштаб?

довжину і ширину;

у скільки разів зменшено дійсні розміри предмета;

висоту предмета.

4. З допомогою якого приладу визначають сторони горизонту?

намагніченої стрілки;

компаса;

гномона

5. Встанови відповідність.

Горизонт	●	● Прилад для визначення сторін горизонту
Компас	●	● Весь видимий навколо нас простір
Масштаб	●	● Число, яке показує, у скільки разів зменшено (або збільшено) справжні розміри і відстані між ними

LIVEWORKSHEETS

6. Пронумеруй умовні позначення відповідно до назви.

1. Шосе. Лінія зв'язку.
2. Рідкі чагарники. Лука.
3. Мішаний ліс.
4. Місто.
5. Фруктовий сад.

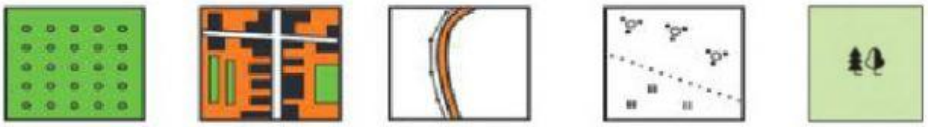

7. На плані ділянка має такі розміри: довжина 4 см, ширина — 3 см. Масштаб плану: 1 см — 20 м. Обчисліть справжні розміри цієї ділянки.

Довжина: _____

Ширина: _____

8. Познач сторони горизонту.

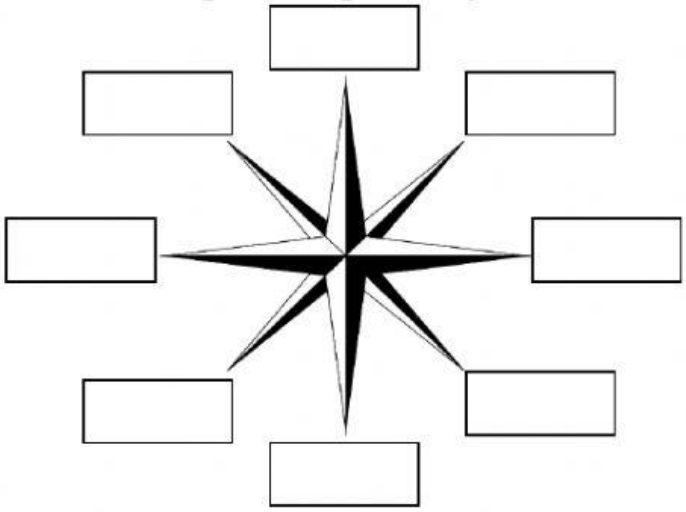

9. Визнач сторони горизонту за Сонцем.

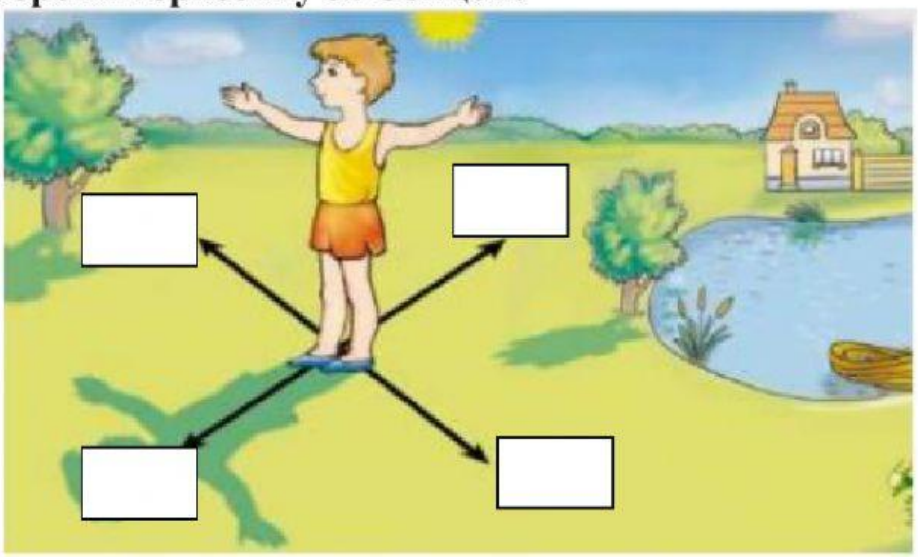

LIVEWORKSHEETS

10. Познач об'єкти, за якими визначають сторони горизонту.

11. Познач закриту місцевість.

12. Поміркуй, як же можна орієнтуватися на місцевості без компаса у хмарну погоду?

_____

LIVEWORKSHEETS