Самостійна робота

Варіант 1	Варіант 2

1. Користуючись рис. 1, назвіть:

а) дві точки, що не належать площині

ABD	ACD

б) пряму, по якій перетинаються площини

ABC і ADK	ACD і ABM

в) площину, що проходить через прямі

DK і BC	BM і DC

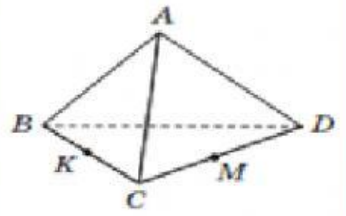

Рис. 1

2. Користуючись рис. 2, назвіть:

а) три площини, які містять точку

D_1	C

б) пряму, по якій перетинаються площини

BCD і A_1AC	$A_1D_1C_1$ і D_1DB

в) площину, що проходить через прямі

BD_1 і D_1A_1	B_1D і AD

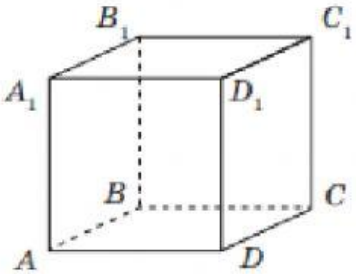

Рис. 2

3. Користуючись рис. 3, назвіть:

а) три різні площини, які не містять точку

C	B

б) пряму, по якій перетинаються площини

DKM і SAB	KMD і SAD

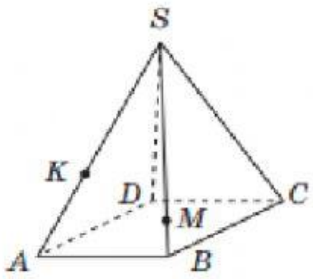

Рис. 3

LIVEWORKSHEETS