Lembar KerjaPesertaDidik

Struktur dan Fungsi Jaringan Tumbuhan

SMPN 3 Bintan

Nama :

Kelas :

A. JARINGAN MERISTEM

Tariklah jawaban yang sesuai dengan gambar

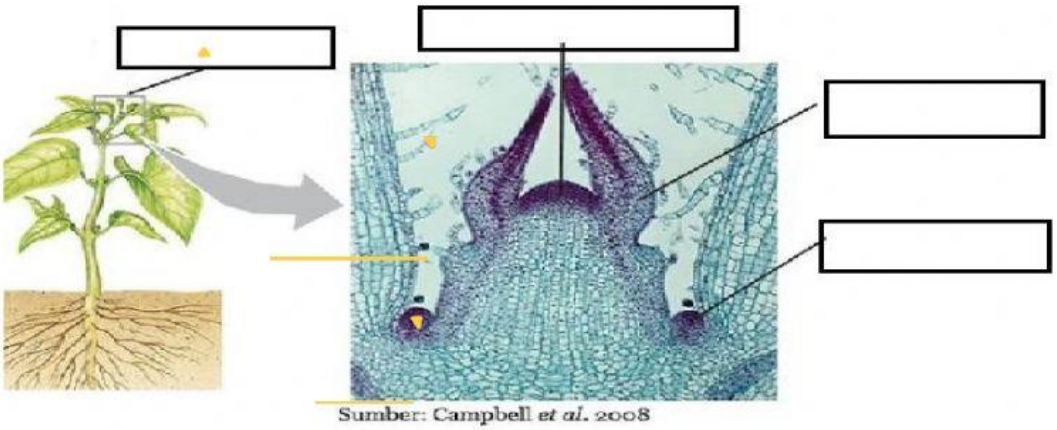

Sumber: Campbell *et al.* 2008

Meristem aksilar | Ujung batang | Meristem apikal | Primordia daun

B. Meristem Sekunder

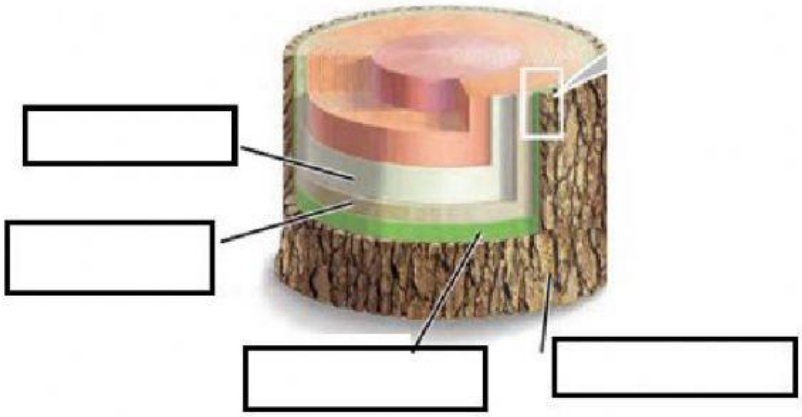

Jaringan Meristem Sekunder

Floem sekunder | Kambium vaskuler | Felem | Kambiun Gabus

LIVEWORKSHEETS

A. JARINGAN DEWASA

Hubungkan gambar jaringan dewasa pada kolom kiri dengan namanyapada kolom kanan dengan menarik garis!

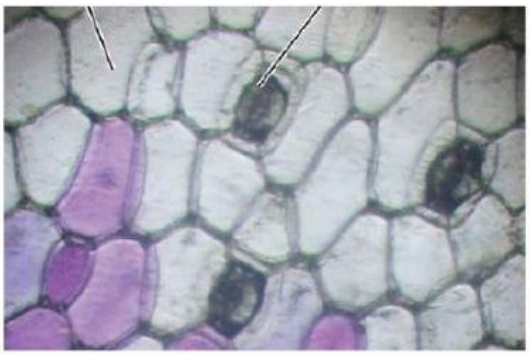

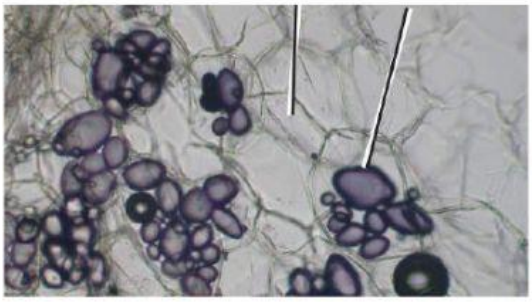

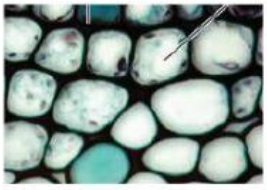



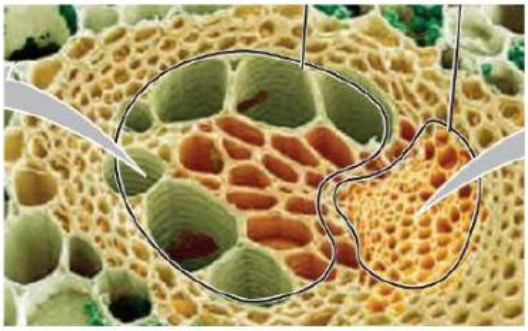

Jaringan Pengangkut

Jaringan Pelindung

Jaringan Penyokong

Jaringan Dasar

LIVEWORKSHEETS