Kampus Merdeka
INDONESIA JAYA

LEMBAR KERJA PESERTA DIDIK
SISTEM PENCERNAAN MANUSIA

Disusun Oleh :
Sukiatno
(229031495662)
Kelas 005
Kelompok C

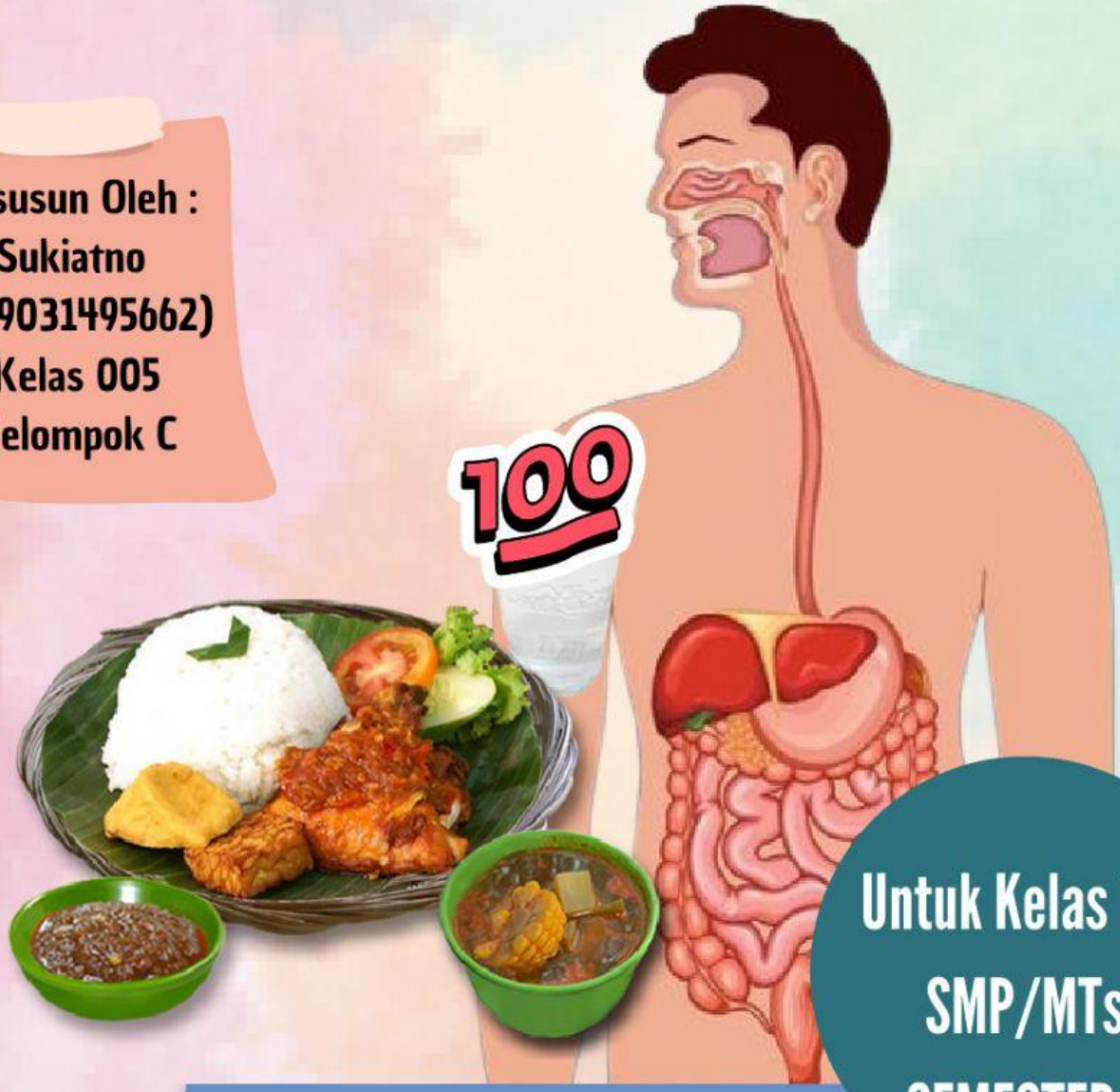

Untuk Kelas VIII
SMP/MTs
SEMESTER 1

Identitas

Nama	
Kelas	
Kelompok	

LIVEWORKSHEETS

LKPD STRUKTUR DAN FUNGSI SISTEM PENCERNAAN

Tujuan Pembelajaran

3.5.6.1. Menyebutkan organ-organ utama dalam sistem pencernaan.
3.5.6.2. Menyebutkan organ-organ tambahan dalam sistem pencernaan.
3.5.7.1. Menjelaskan fungsi organ pencernaan.
3.5.8.1. Menganalisis proses pencernaan pada tubuh manusia.
3.5.8.2. Mampu menganalisis enzim- enzim pencernaan.
4.5.3.1.Mengkomunikasikan tentang proses pencernaan makanan dengan terampil.

PETUNJUK BELAJAR

Tahukah kamu bahwa proses pencernaan makanan di dalam tubuh jauh lebih panjang dibandingkan kegiatan makan itu sendiri?

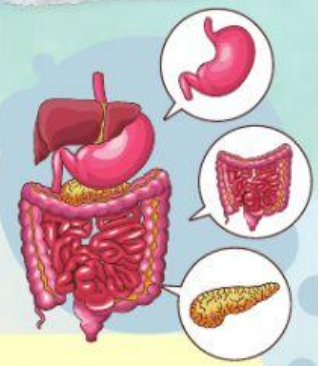

Silahkan Simak Video berikut ini sebelum memulai mengerjakan e-LKPD

Silahkan Tulisan Pendapat Kalian Mengenai Video Tersebut!

LIVEWORKSHEETS

LKPD STRUKTUR DAN FUNGSI SISTEM PENCERNAAN

Tuliskan nama organ pencernaan manusia pada gambar berikut dengan tepat!

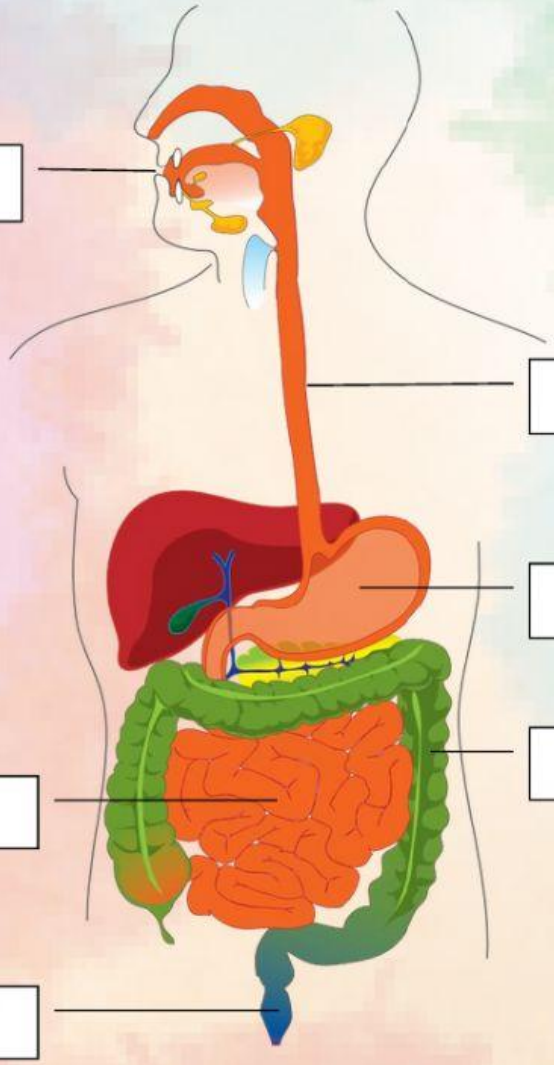

Pasangkan fungsi organ-organ pencernaan manusia di bawah ini dengan nama organ yang anda telah pilih di atas dengan tepat!

Penyerapan sari-sari makanan	Pencernaan kimiawi oleh HCL
Makanan dicerna secara mekanik	Penyerapan air
Penyaluran Makanan	Pengeluaran feses

LIVEWORKSHEETS

LKPD STRUKTUR DAN FUNGSI SISTEM PENCERNAAN

Bagaimanakah alur Proses Pencernaan ?

Lengkapilah diagram alir berikut !

Silahkan sesuaikan pilihan Anda sesuai dengan diagram alir diatas!

- Kerongkongan
- Usus Besar
- Usus Halus
- Lambung
- Anus
- Mulut

LIVEWORKSHEETS

LKPD STRUKTUR DAN FUNGSI SISTEM PENCERNAAN

Jelaskan perbedaan proses pencernaan secara mekanik dengan proses pencernaan secara kimiawi!

Pencernaan Mekanik	Pencernaan Kimiawi

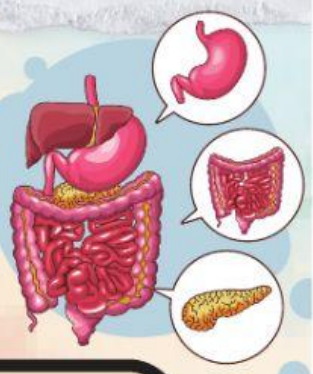

Tuliskan kesimpulan Anda !

LIVEWORKSHEETS