**21.** Rangkaian persegi berikut yang *bukan* merupakan jaring-jaring kubus adalah . . . .

a.

c.

b.

d.

**22.** Bagian yang harus dihilangkan agar gambar berikut menjadi jaring-jaring balok adalah . . . .

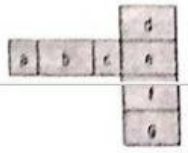


a. g
b. d
c. b
d. a

**23.** Perhatikan tabel data mata pelajaran yang disukai siswa kelas V berikut!

| Mata Pelajaran | Banyak Siswa |
|---|---|
| IPA | 7 |
| IPS | 3 |
| Matematika | 12 |
| Olahraga | 10 |
| Bahasa Indonesia | 8 |

Jumlah seluruh siswa kelas V sesuai tabel di atas adalah . . . .

a. 28 siswa
b. 30 siswa
c. 32 siswa
d. 40 siswa

**24.** Perhatikan diagram batang data penjualan buku matematika di sebuah toko buku selama 6 bulan berikut!




Penjualan buku matematika paling banyak adalah pada bulan . . . .

a. Januari
b. Februari
c. Mei
d. Juni

**25.** Perhatikan diagram lingkaran data nilai ulangan matematika kelas V SD Sentosa di samping!




Jika jumlah seluruh siswa adalah 50 orang, banyak siswa yang mendapat nilai 7 adalah . . . .

a. 5 siswa
b. 7 siswa
c. 8 siswa
d. 10 siswa

## B. Isilah dengan jawaban yang tepat!

1. Hasil dari $75\% - \frac{15}{30} - 0{,}2$ dalam bentuk persen adalah . . . .
2. Bentuk desimal dari hasil $\frac{12}{18} : 1\frac{1}{15}$ adalah . . . .
3. Kevin naik motor dari rumahnya menuju ke rumah Bayu. Kecepatan rata-rata motor yang dikendarai Kevin adalah 45 km/jam. Jika Kevin tiba dalam waktu 15 menit, jarak rumah Kevin dengan rumah Bayu adalah . . . km.
4. Sebuah peta memiliki skala 1 : 1.200.000. Jika jarak dua kota dalam peta tersebut adalah 17 cm, jarak kedua kota sebenarnya adalah . . . km.
5. Panjang sebuah sungai adalah 120 km. Panjang sungai tersebut pada sebuah peta adalah 20 cm. Skala peta tersebut adalah . . . .
6. Panjang rusuk kubus yang memiliki volume 5.832 $cm^3$ adalah . . . .
7. Volume kubus yang memiliki luas alas 441 $cm^2$ adalah . . . .
8. 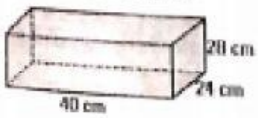


   Volume balok di samping adalah . . . liter.
9. Berikut banyak siswa baru SD Merah Putih.

| Tahun | Banyak Siswa Baru |
|---|---|
| 2011 | 64 |
| 2012 | 58 |
| 2013 | 62 |
| 2014 | . . . |
| 2015 | 65 |

   Jika jumlah seluruh siswa baru dalam 5 tahun tersebut sebanyak 308 orang, banyak siswa baru yang pada tahun 2014 adalah . . . .
10. Perhatikan diagram batang hasil penjualan 5 jenis buah di sebuah swalayan dalam seminggu berikut.




[redacted] Esps Matematika untuk SD/MI Kelas V

LIVEWORKSHEETS