Ажлын хуудас

Дасгал 1-ийг гүйцэтгэх хугацаа: 2 мин

Дасгал 1: Дараах өнцгүүдийг зөв харгалзуулаарай.

1.	$\frac{\pi}{3}$	а.	30^0
2.	$\frac{\pi}{4}$	б.	90^0
3.	$\frac{\pi}{6}$	в.	120^0
4.	$\frac{\pi}{2}$	г.	60^0
5.	$\frac{2\pi}{3}$	д.	45^0

Дасгал 2-ыг гүйцэтгэх хугацаа: 2 мин

Дасгал 2: Дараах тэмдэглэгээг нэрлээрэй.

А. sina

Б. Cosa

В . tga

Г.ctga

Дасгал 3-ыг гүйцэтгэх хугацаа: 2 мин

Дасгал 3: Координатын хавтгай дахь мөчүүдийг зөв байрлуулсан нь аль нь вэ?

А.



Б.



В.



LIVEWORKSHEETS