Домашнє завдання

1) Відомо, що <ABC=92^0, <ABT=40^0

Знайдіть <TBC=

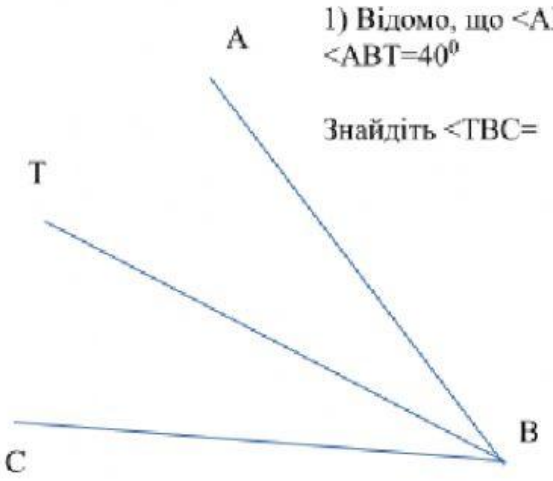

2)Градусна міра кута <СДМ=

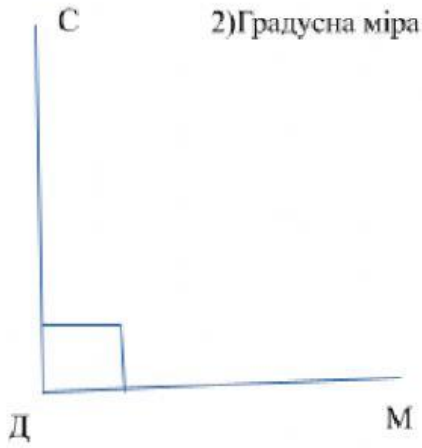

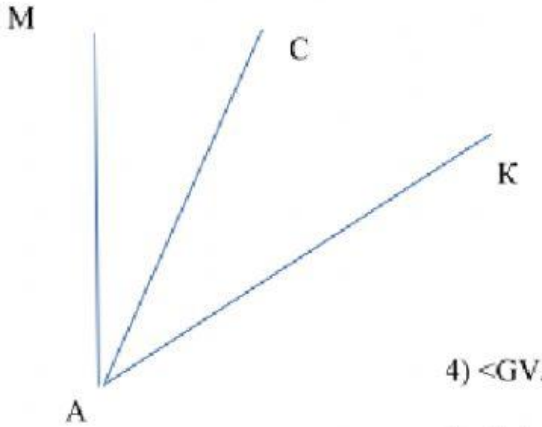

3) < MAK=70^0, AC - бісектриса

Знайдіть кути
<MAC=
< CAK=

4) <GVJ=89^0 <JVQ=34^0

Знайдіть <GVQ=

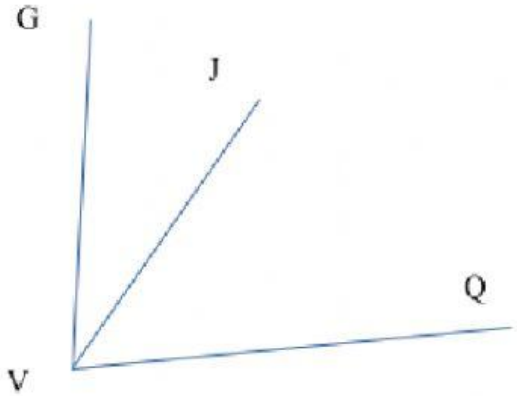

LIVEWORKSHEETS