Cuadriláteros

1 Señala los paralelogramos y escribe debajo su nombre.



_____ _____ _____ _____

2 Completa la tabla.
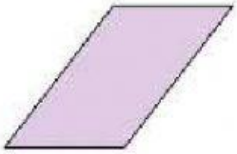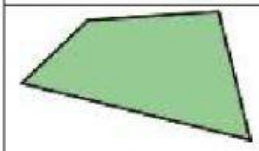
Imagen	Es un paralelogramo	Tiene lados paralelos 2 a 2	Tiene 4 ángulos rectos	Tiene ángulos iguales 2 a 2	Nombre de la figura plana