В СВЕТА НА ВЛАКОВЕТЕ

ИЗВАЖДАНЕ НА ЕДНОЦИФРЕНО ЧИСЛО ОТ 14 С ПРЕМИНАВАНЕ

/първа част/

1. Попълни и пресметни.

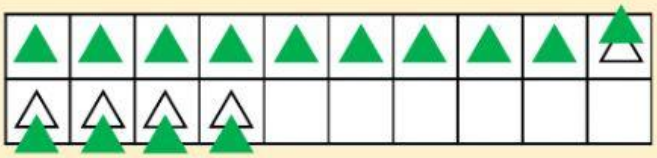

14 – 5 = ?

14 – 4 – ☐ = ☐ – ☐ = ☐

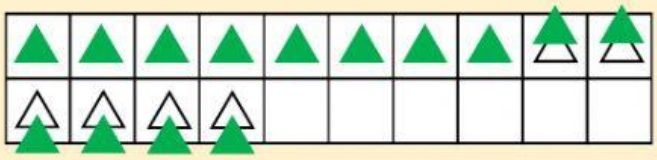

14 – 6 = ?

14 – ☐ – ☐ = ☐ – ☐ = ☐

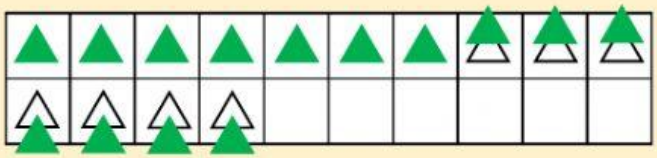

14 – 7 = ?

14 – ☐ – ☐ = ☐ – ☐ = ☐

2. | > | = | < |

8 ☐ 14 – 6 ☐

14 – 7 ☐ 9 ☐

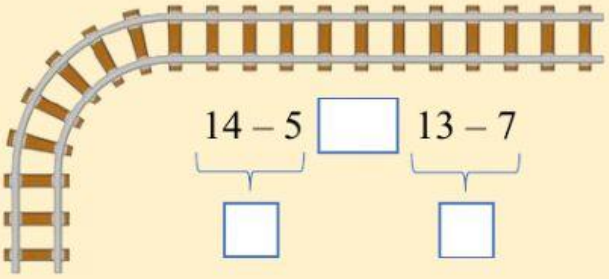

14 – 5 ☐ 13 – 7 ☐

3. Пресметни разликите и направи проверка.

14 – 5 = ☐

Проверка: ☐ + ☐ = ☐

14 – 6 = ☐

Проверка: ☐ + ☐ = ☐

14 – 7 = ☐

Проверка: ☐ + ☐ = ☐

LIVEWORKSHEETS

4. а) Умаляемото е 14, а умалителят е 6. Намери разликата.

б) Намери разликата, ако умаляемото е 14, а умалителят е 5.

в) Умаляемото е 14. Намери разликата, ако умалителят е 7.

5.

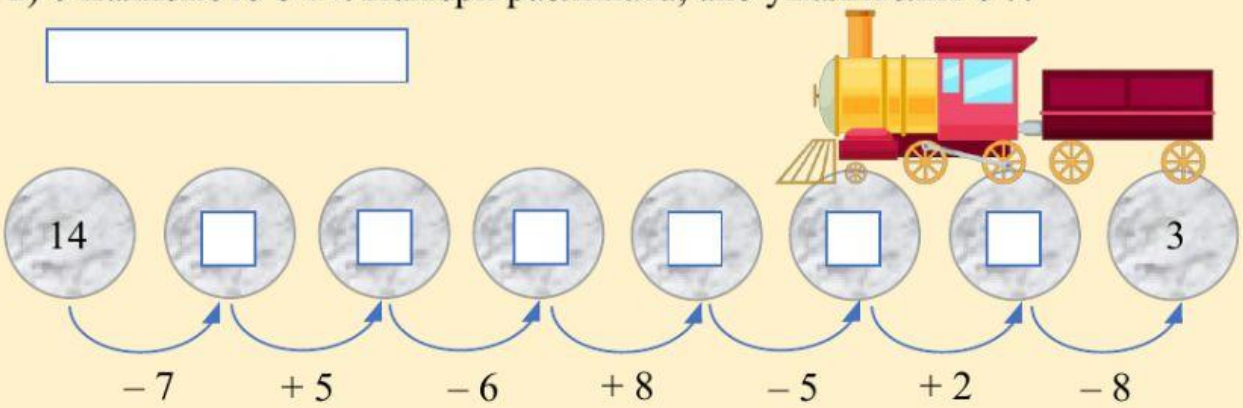

6. В третия вагон на влака се качили 14 възрастни и с 5 по-малко деца. Колко деца са се качили във вагона?

Решение:

Отговор: деца

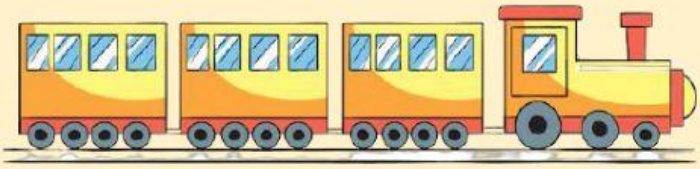

7. В стаята за багаж на ЖП гарата имало куфари и сакове. Куфарите са 14. Колко са саковете, ако те са със 7 по-малко от куфарите?

Решение:

Отговор: сака

LIVEWORKSHEETS