Выберите правильный ответ

1 Сумму чисел 63 и 8 уменьшили на 5. Какое число получили?

(1) 66 (2) 50 (3) 76

2 Все стороны треугольника равны. Длина одной стороны 9 см. Найди сумму длин всех сторон треугольника.

(1) 18 см (2) 18 дм (3) 27 см

3 На одну комнату израсходовали 12 ящиков паркетных дощечек, а на другую на 10 ящиков больше. Сколько ящиков паркета потребовалось на две комнаты?

(1) 22 ящика

(2) 34 ящика

(3) 32 ящика

4 Выбери разность, значение которой равно 23.

(1) 18 + 5 (2) 51 – 17 (3) 31 – 8

5 В парке 18 скамеек жёлтого и красного цвета. Сколько в парке красных скамеек, если жёлтых 7?

(1) 25 скамеек

(2) 11 скамеек

(3) 9 скамеек

LIVEWORKSHEETS

6 Найди значение выражения: $14 - 8 + 64$.

(1) меньше 69

(2) 70

(3) больше 72

7 На сколько 63 больше, чем 54?

(1) на 18 (2) на 9 (3) на 27

8 От ленты сначала отрезали 5 дм, а затем ещё 9 дм. На сколько дециметров уменьшилась длина ленты?

(1) на 4 дм (2) на 5 дм (3) на 14 дм

9 Разгадай правило, по которому составлен ряд чисел: 338, 336, 334, 332, 330, ... Выбери число, которым нужно продолжить этот ряд.

(1) 329 (2) 328 (3) 326

10 Выбери многоугольник, в котором два прямых угла.

(1)

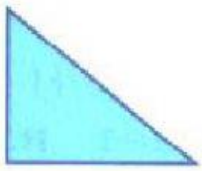

(2)

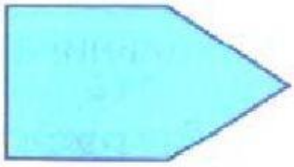

(3)

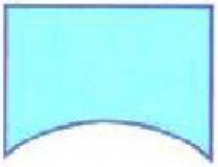

LIVEWORKSHEETS

11 На моторных лодках поехали отдыхать 9 человек, а на яхтах – в 2 раза больше. Сколько всего человек поехало отдыхать?

1. 9 человек
2. 18 человек
3. 27 человек

12 Выбери выражение, в котором вычитаемое равно 8.

1. 42 – 8 = 34
2. 37 – 8
3. 53 + 8

13 Выбери пару равных величин.

1. 60 дм и 60 м
2. 700 см и 70 м
3. 8 м и 800 см

14 Сколько прямоугольников на чертеже?

1. 3 прямоугольника
2. 5 прямоугольников
3. 4 прямоугольника



15 Увеличь в 2 раза меньшее из чисел 34 и 43. Какое число получится?

1. 77
2. 86
3. 68

LIVEWORKSHEETS