PENILAIAN HARIAN

☺ SISTEM REPRODUKSI MANUSIA ☺

NAMA:

KELAS:

1. Pilihlah nama fase yang tepat pada pembelahan sel berikut!

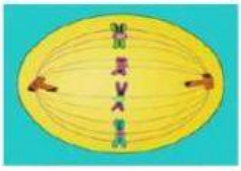

2. Tariklah nama organ kemudian masukkan ke dalam kolom yang tepat pada gambar sistem reproduksi wanita berikut!

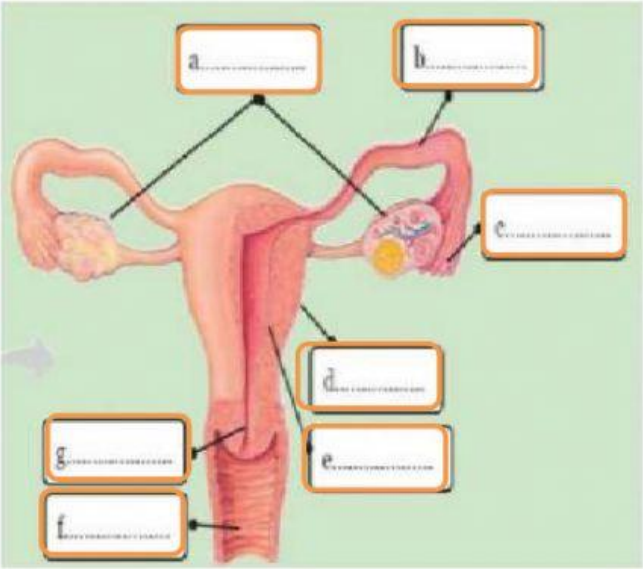

- uterus
- vagina
- ovarium
- Tuba fallopi
- endometrium
- serviks
- infundibullum

LIVEWORKSHEETS

3. Tariklah nama organ kemudian masukkan ke dalam kolom yang tepat pada gambar sistem reproduksi pria berikut!

penis | Scrotum | Kelenjar prostat | Vas deferens

testis | epididimis | uretra | Vesikula seminalis | Kelenjar cawper

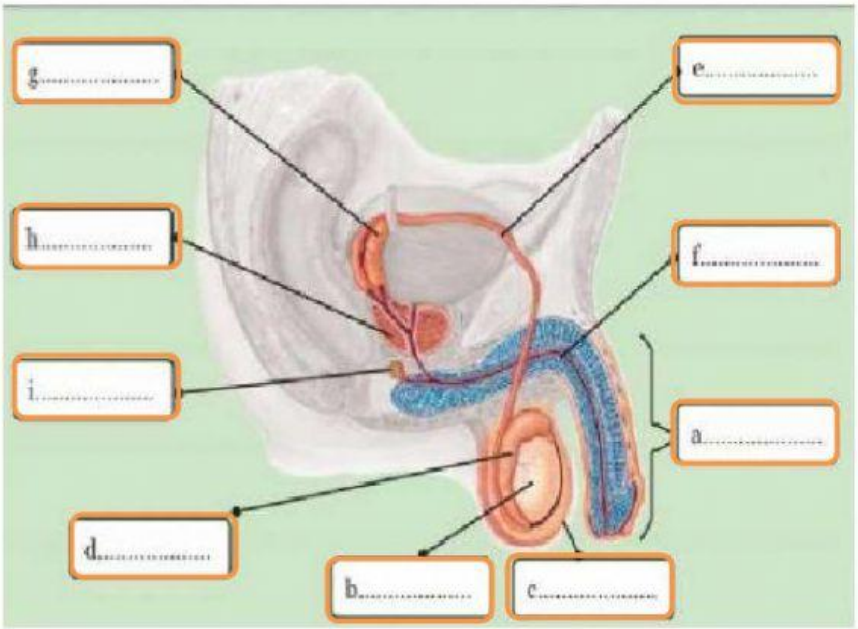

Tariklah garis dari kotak penyakit/kelainan kepada kotak penyebab penyakit/kelainan yang benar

Keputihan	*Virus HIV*
Sifilis/ raja singa	*Neisseria gonorrhoeae*
AIDS	*Treponema pallidum*
Gonore	*Virus herpes*
Herpes simplex genitalis	*Candida albicans*

LIVEWORKSHEETS

LIVEWORKSHEETS