Координатний промінь

1. Яким числам відповідають точки позначені на рисунку?

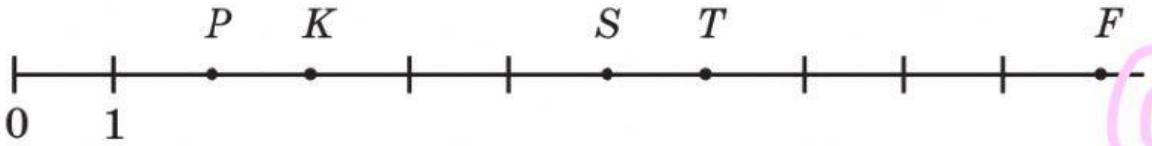

2. Запишіть натуральні числа, розміщені на координатному промені ліворуч числа 12 і праворуч числа 7. Числа запишіть у порядку зростання

3. Знайдіть координати точок на рисунку

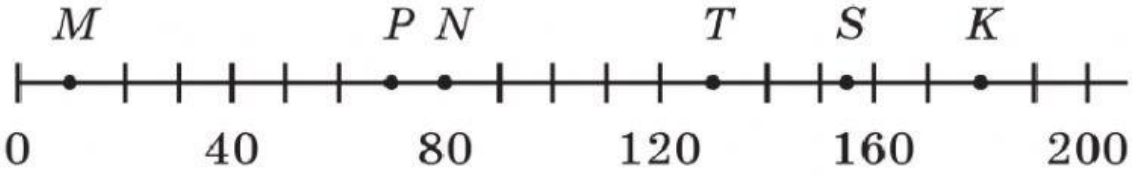

M( ); P ( ); N ( ); T( ); S( ); K( ).

4. Яке число має бути записане в точці, якій починається стрілка?

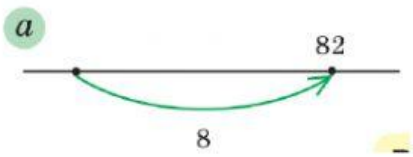

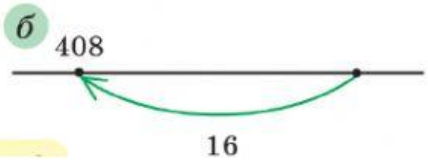

LIVEWORKSHEETS