COLEGIO PROVINCIAL Nº7 "ARTURO GRIMAUX"
CALLE PORTEZUELO ESQ. VINCHINA Bº LA HERMITILLA
TEL.:0380-4468585 - LA RIOJA CAPITAL

El genio se hace con un 1% de talento y un 99% de trabajo

Leer muy bien las consignas

1.-Seleccionar la opción correcta.

A) ¿a qué tipo de triángulos corresponde los siguientes datos "Es el que tiene sus 3 ángulos agudos?

- ☐ Triángulo Rectángulo
- ☐ Triángulo acutángulo
- ☐ Triángulo obtusángulo

B) ¿A qué tipo de triángulo corresponde los siguientes datos "Es el que tiene un ángulo mayor a 90° pero menor a 180°"?

- ☐ Triángulo obtusángulo
- ☐ Triangulo rectángulo
- ☐ Triángulo acutángulo

2.- Completa con dos palabras clave:

a) Cuando se tiene como dato 1 lado y 2 ángulos cualesquiera se resuelve con el

b) Cuando se tiene como dato 2 lados y 1 ángulos comprendido entre ellos, se resuelve con el

3.- Indicar los triángulos en los que se puede aplicado el teorema del seno para encontrar lo que se indica

LIVEWORKSHEETS

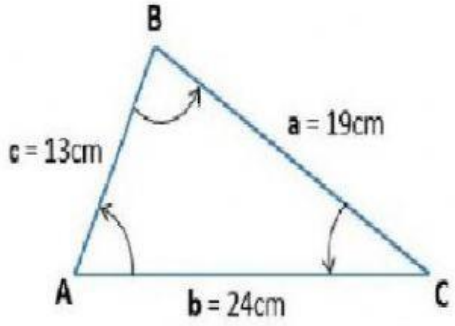

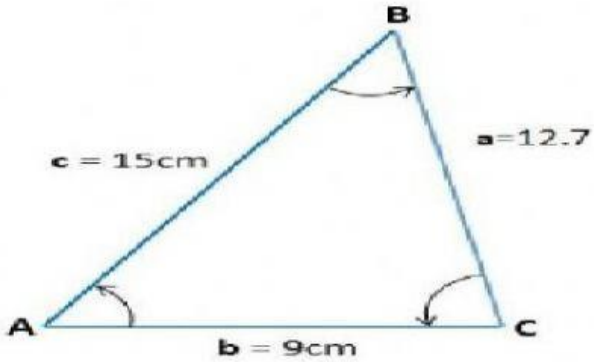

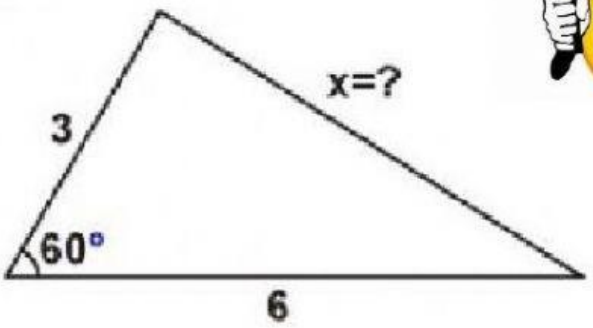

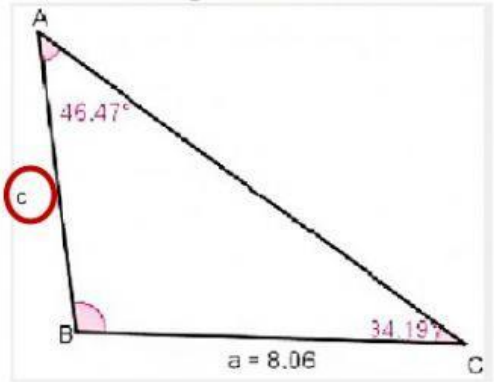

4.- Resuelve el siguiente triangulo en una hoja para entregar al finalizar, luego marcar las opciones que se piden.

A) ¿Cuánto mide el lado a?

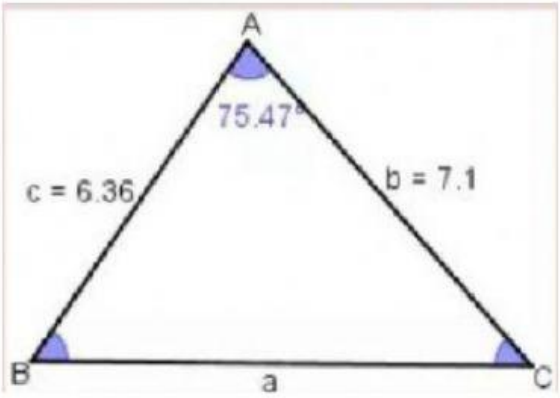

a) 6.36
b) 7.12
c) 9.45
d) 8.26



B) ¿Qué teorema aplicaste?

TEOREMA DEL SENO

TEOREMA DEL COSENO

LIVEWORKSHEETS

MUCHOS EXITOS!!!!!

PROFE PAOLA

LIVEWORKSHEETS