ชื่อ: เลขที่: วันที่:

แบบประมวลความรู้รายวิชาคณิตศาสตร์ 1 รหัสวิชา ค21101 ชั้นมัธยมศึกษาปีที่ 1 /

กลุ่มสาระการเรียนรู้คณิตศาสตร์ ครูผู้สอน นางอารีรัตน์ เรียบเรียง

หน่วยที่ 4 มิติสัมพันธ์ของรูปเรขาคณิต

ใบงานที่ 4.3 รูปเรขาคณิตสามมิติที่ประกอบขึ้นจากลูกบาศก์

จงเติมตัวเลขแสดงจำนวนลูกบาศก์ในด้านบน ด้านหน้า ด้านข้าง ให้ถูกต้อง

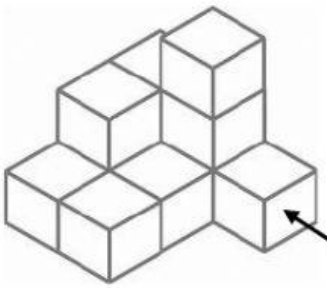

ด้านหน้า

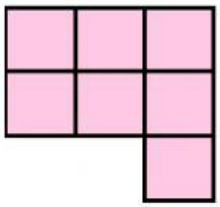

ภาพด้านบน

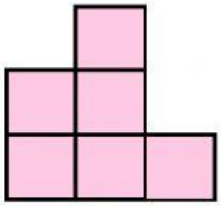

ภาพด้านข้าง

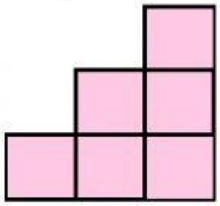

ภาพด้านหน้า

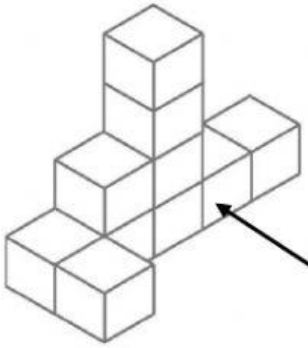

ด้านหน้า



ภาพด้านบน

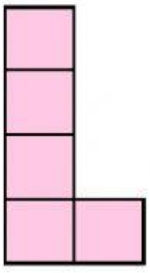

ภาพด้านข้าง

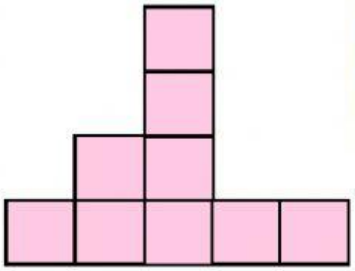

ภาพด้านหน้า







LIVEWORKSHEETS