Título de la materia: **MATEMÁTICAS. UNIDAD 14.**	**"TRIÁNGULOS Y CUADRILÁTEROS"**
Nivel: **3º PRIMARIA.**	
Nombre:	

- ***Ejercicio nº 1.-***

Clasifica estos triángulos según sus lados y según sus ángulos.

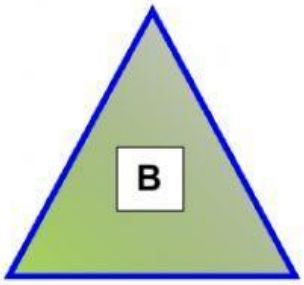

TRIÁNGULO A	**TRIÁNGULO B**
SEGÚN SUS LADOS	SEGÚN SUS LADOS
SEGÚN SUS ÁNGULOS	SEGÚN SUS ÁNGULOS

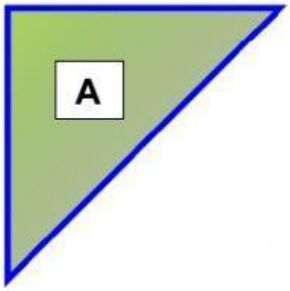

¿Por qué este triángulo es obtusángulo y escaleno?

- ***Ejercicio nº 2.-***

¿Qué diferencia hay entre un cuadrilátero paralelogramo y otro que no lo es?

- ***Ejercicio nº 3.-***

Escribe el nombre de cada cuadrilátero.

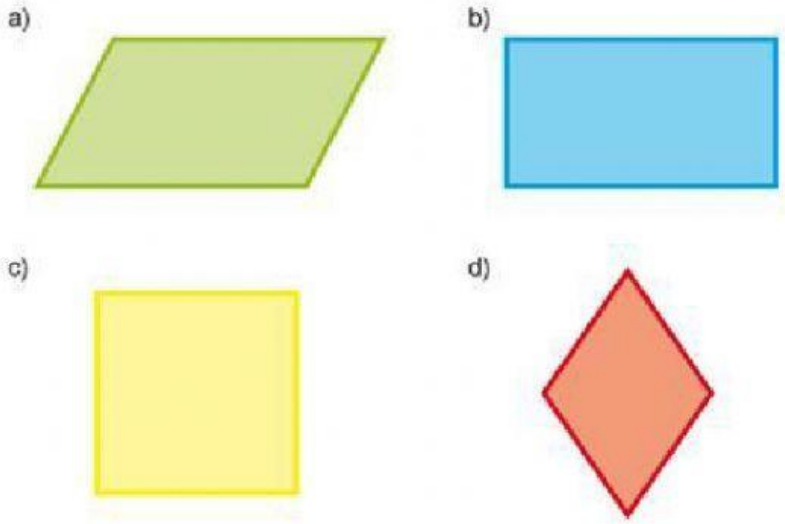

- ***Ejercicio nº 4.-***

El lado desigual de un triángulo isósceles mide 17 m. Si cada uno de los otros dos lados mide el doble, ¿cuál es su perímetro?

SOLUCIÓN:



- ***Ejercicio nº 5.-***

Halla el perímetro de un rombo sabiendo que un lado mide 8 cm.



SOLUCIÓN: