НУМЕРАЦІЯ. ДОДАВАННЯ І ВІДНІМАННЯ ЧИСЕЛ У МЕЖАХ 100

1. Допоможи Петрику спуститися з гори. Впиши пропущені числа.

1			4		6				10
	12			15				19	
21			24						
	32					37			
		43			46				50
			54						
	62	63					68		
71	72					77			
		83		85					
							98		100



Познач олівчиком числа:

- Другого десятка –
- Четвертого десятка -
- П’ятого десятка –
- Восьмого десятка -



2. Дізнайся, скільки разів під час спуску хлопчик відпочивав. Обчисли і запиши.

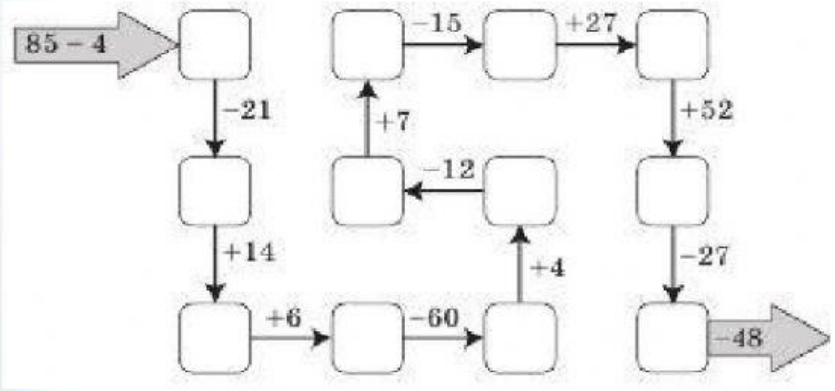



3. Допоможи Катрусі підготувати подарунки для друзів.

Запиши попереднє і наступне числа.













LIVEWORKSHEETS



4. Дізнайся, в яке місто мріє поїхати Михайлик.

Обчисли. Впиши букви у відповідні клітинки.



81	32	66	44	66

35	75	88	71	42	50	42	93

45+21=_____В

74+7= _____Л

27+5= _____ Ь

39+5= _____ І

66+9= _____Е

65+6= _____ Н

84+9= _____ В

27+8= _____ Ч

79+9= _____Р

37+5=_____ І

43+7=_____Г



5. Допоможи Мишкові скласти маршрут подорожі Україною.

З'ясуй закономірність та впиши пропущені числа



24	26			32					
	62	67			82				
12		32	42			72			
11			17	19			25		
	65			80	85			100	
		34			64	74			104

LIVEWORKSHEETS

6. Дізнайся, скільки пачок печива взяв з собою Петрик, коли йшов у гори

Обчисли суму чисел 60 і 22 ☐ ; збільш на 12 ☐ ; зменш на 3 ☐ ;

знайди, на скільки отримане число більше 60 ☐ ; запиши попереднє число ☐ ;

відніми від нього 7 ☐ ; збільш на 6 ☐ ; запиши наступне число ☐ .

Обчисли суму отриманого числа і 24 ☐ ; відніми 49 ☐ (пачок печива).



7. Прожени хмарки, щоб Червона Шапочка змогла провідати свою бабусю.

Запиши числа від більшого до меншого.

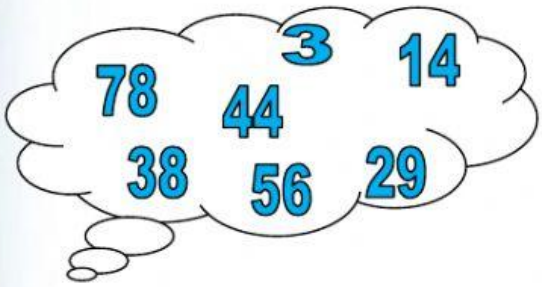

78 29

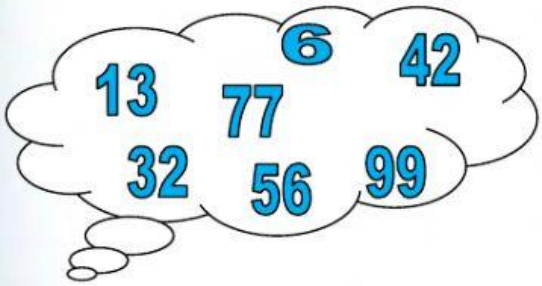

32



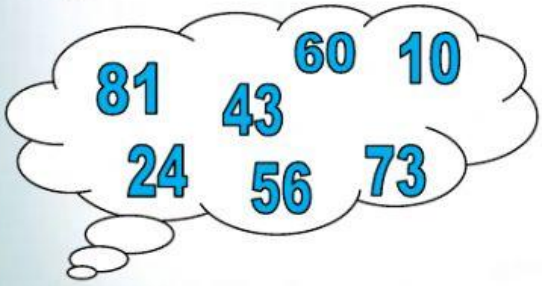

LIVEWORKSHEETS

8. Прокладі доріжку для Червоної Шапочки. Обчисли, розстав у табличці клітинок з відповідями.



$27+2$	$30+3$	$20+7$	$21+2$	$32+6$	$40+4$	$55+4$
$7+60$	$5+52$	$3+40$	$8+80$	$6+42$	$7+12$	$2+20$
$8+5$	$20+5$	$5+60$	$22+2$	$2+11$	$21+5$	$6+53$

		8	11	11	1	86	6	28
		29	33	27	23	3	10	9
		9	5	20	38	4	5	12
1	1	19	20	28	44	59	67	57
16	90	14	99	12	11	66	7	43
17	66	10	4	21	10	9	48	88
18	19	20	6	25	13	22	19	4
86	11	21	15	65	4	20	11	99
7	66	7	86	24	90	17		
5	20	16	2	13	26	59		
66	10	9	9	6	20	99		



9. Розв'яжи задачу.

Оксанка йшла в гості до подруги і купила піцу, за яку заплатила 58 грн і пачку соку за 17 грн. У неї залишилося ще 10 грн на метро. Скільки всього грошей було у дівчинки?

Було	Заплатила		Залиши-лось
?	58грн	17грн	10грн
			

1) ( ) -

Відповідь: _____

LIVEWORKSHEETS

10. Допоможи клоунам знайти свої м’ячі. Обчисли та познач м’яч з

з відповідним результатом.









30+30=

15+25=

19+41

79-19=

14+46=

30+10=

80-11=

91-12=

35+35=

60+10=

22+48=

100-35=

11+59=

28+44=

20+30=

50+20=

30+50=

40+19=

40+40=

40+20=

70+10=

40+50=

92-20=

75+15=

81+9=

36+54=

15+75=

66+25=

LIVEWORKSHEETS