LKPD

Sistem Reproduksi Hewan

LIVEWORKSHEETS

SISTEM PERKEMBANGBIAKAN HEWAN

A. Letakkan ciri-ciri setiap jenis perkembangbiakan hewan dengan tepat!

Ovipar

Vivipar

LIVEWORKSHEETS

Ovovivipar

Tidak memiliki daun telinga

Biasanya merupakan hewan mamalia

Induk bertelur dan melahirkan

Biasanya merupakan hewan unggas

Telur menetas dalam tubuh induk

Biasanya merupakan hewan berdarah dingin

Memiliki kelenjar susu

Induk melahirkan

Induk bertelur

Memiliki daun telinga

Telur berkembang ditubuh induknya

Tidak memiliki kelenjar susu

LIVEWORKSHEETS

B. Analisislah Sistem Reproduksi Hewan pada video berikut! Sebutkan nama hewan, jenis reproduksi, proses reproduksi beserta namanya!

Video 1

Video 2

LIVEWORKSHEETS

Video 3

C. Lengkapi Siklus hidup pada hewan *Aurelia* sp!

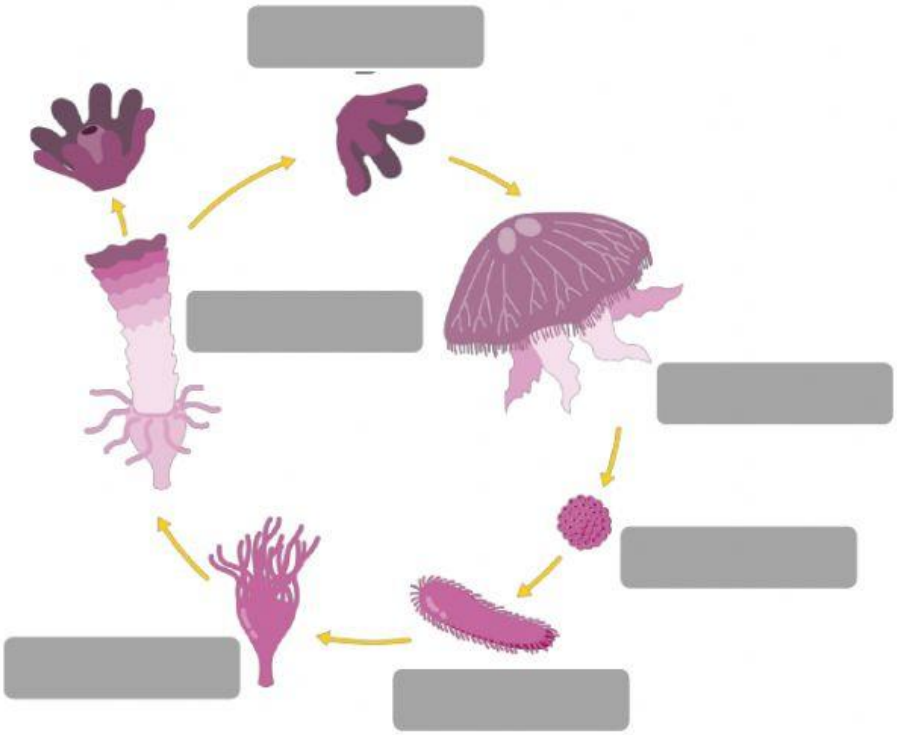

LIVEWORKSHEETS

Skifistoma	Larva Planula	Efira
Strobila	Zigot	Medusa

D. Perhatikan gambar di bawah! Tuliskan mana yang merupakan metamorfosis sempurna dan metamorfosis tidak sempurna!

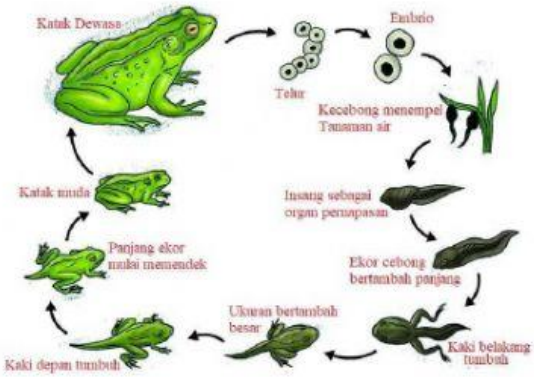

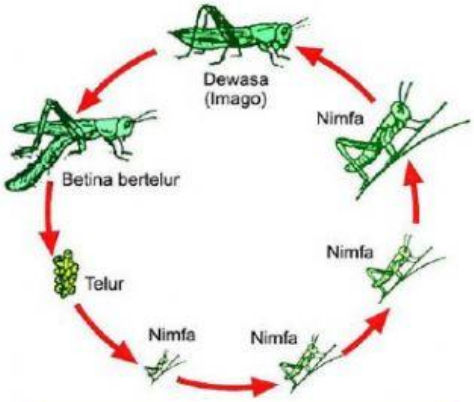

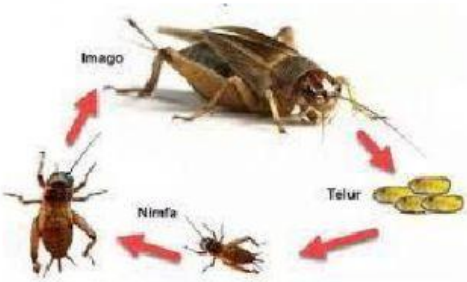

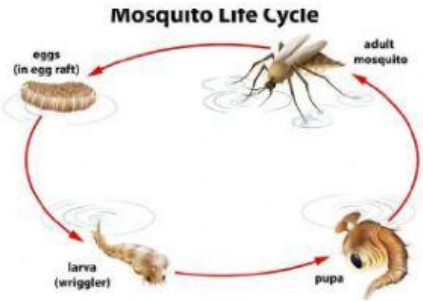

LIVEWORKSHEETS