ehomeKids.com

¡Vamos a compartir!

Reparte los elementos según se indique en cada ejercicio arrastrando las imágenes siguiendo el color de cada grupo, cuenta y escribe el número de la cantidad que se reparte.

Ernesto compró 8 galletas para sus cachorros y los quiere repartir en partes iguales
¿Cuántas galletas le tocará a cada cachorro?

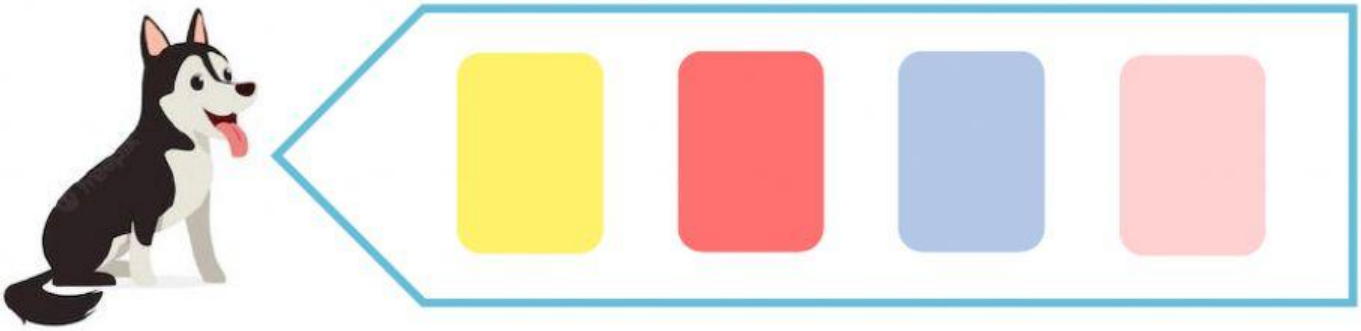



A cada  le tocará



LIVEWORKSHEETS

Julián, María y Luis ayudaron a cuidar el jardín a su abuelita y ella en agradecimiento les regaló 15 naranjas.
Si ellos se quieren repartir las naranjas en partes iguales ¿Cuántas naranjas le toca a cada uno?





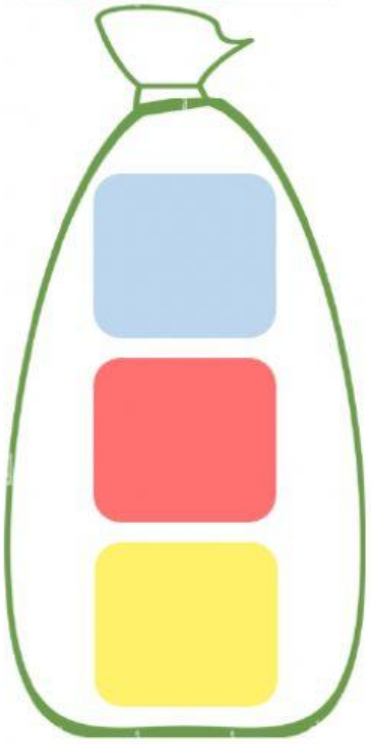
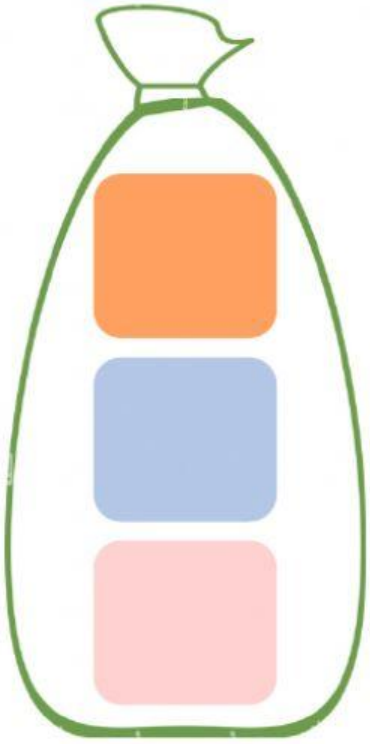
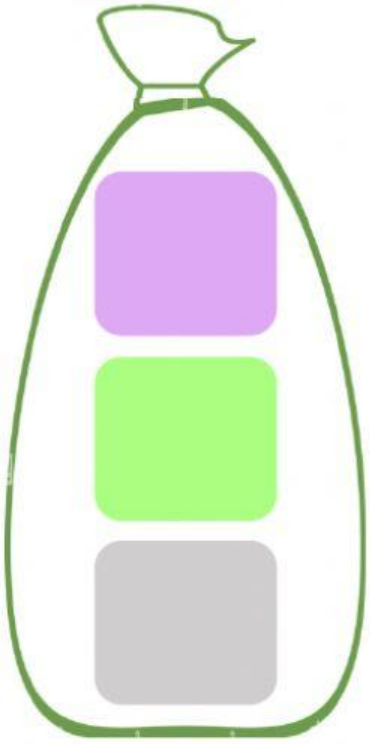

A cada  le toca  



LIVEWORKSHEETS