EXAMEN BIMESTRAL DE CIENCIA Y AMBIENTE – II BIMESTRE

LOGRO

Apellidos y Nombres: _____

Tiempo: 30 min. Profesora: Jackeline Villanueva H. Fecha:

1. **Colorea cada órgano y escríbelo en cada espacio:**

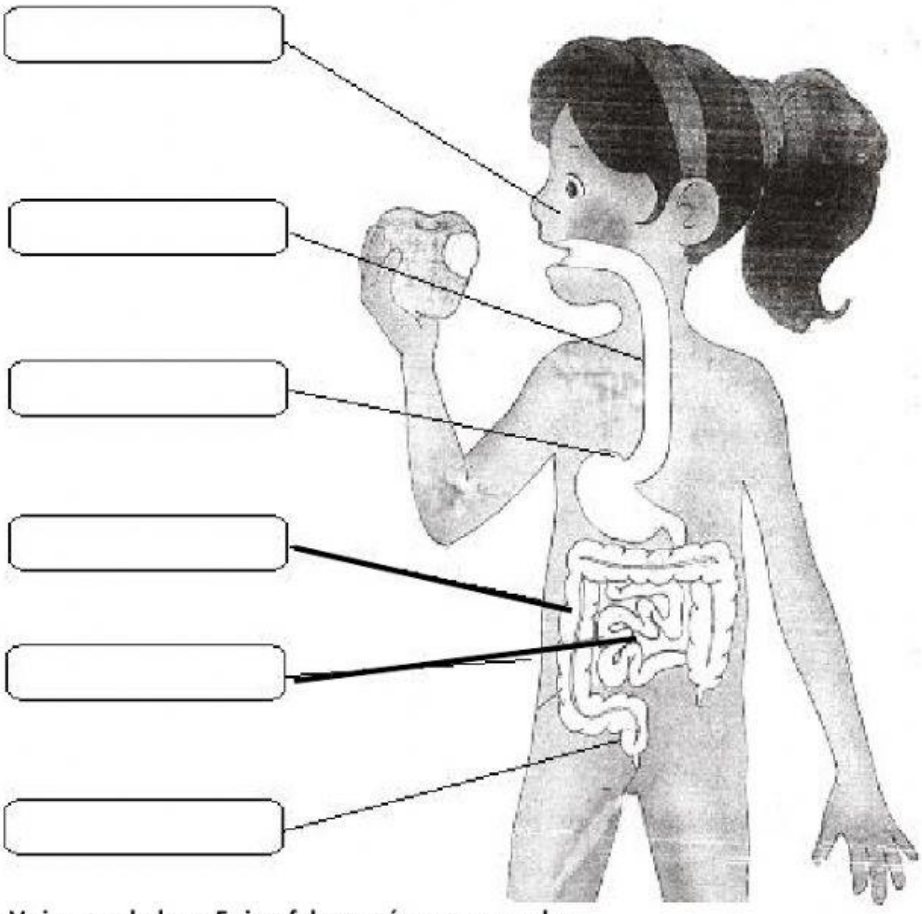

2. **Lee y coloca V si es verdadero, F si es falso según corresponda:**

a) Respirar por la nariz y no por la boca. ..... ☐

b) Tomar helados en invierno. ..... ☐

c) Respirar aire puro y evitar los sitios contaminados. ..... ☐

d) No exponerse a cambios bruscos de temperatura. ..... ☐

e) Realizar ejercicios físicos y deporte. ..... ☐

LIVEWORKSHEETS

3. **Menciona 2 enfermades más comunes:**

- _____

- _____

4. Selecciona la alternativa correcta:

Los seres vivos también se conocen como seres _____.

a) abióticos

b) vivos

c) bióticos

d) biotopo

5. **Selecciona los seres ABIÓTICOS que encuentres en los siguientes gráficos:**



LIVEWORKSHEETS

6. **COLOCA los alimentos en el recuadro teniendo en cuenta de donde proviene cada uno.**

HOT DOG | LECHE | AGUA | TRIGO

APIO | HUEVOS | SAL | CEBADA

ORIGEN ANIMAL	ORIGEN VEGETAL	ORIGEN MINERAL

7. ESCRIBE Y CLASIFICA DONDE CORRESPONDE LOS ALIMENTOS ENERGETICOS, LOS PROTECTORES Y LOS CONSTRUCTORES.







LIVEWORKSHEETS

8. Completa con la palabra indicada en las nubes.

a) _____ sujeta la planta al suelo y absorve el agua y las sales minerales.
b) En la _____ se realiza la fotosíntesis.
c) La _____ es la parte más bella de la planta y aquí se encuentran los órganos sexuales de la planta.
d) Por el _____ circulan los nutrientes que la planta necesita para vivir.

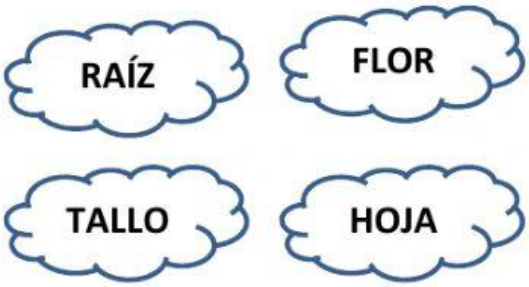

9. ¿Qué es la fotosíntesis?

_____
_____
_____
_____

10. ¿Qué es el efecto invernadero?

_____
_____
_____
_____

LIVEWORKSHEETS