Universidad Austral de Chile
Conocimiento y Naturaleza

Matemáticas

OA 17: Determinar las vistas de figuras 3D, desde el frente, desde el lado y desde arriba.





¡Bienvenidos!



Complete con sus datos:

Nombre:

Fecha:

LIVEWORKSHEETS

Si la profesora Camila está indicando el frente del cubo. Escriba en los espacios las caras de: Arriba, abajo y derecha. Además, desplace donde corresponda las flechas que indican la cara.





LIVEWORKSHEETS

Determinando vistas.

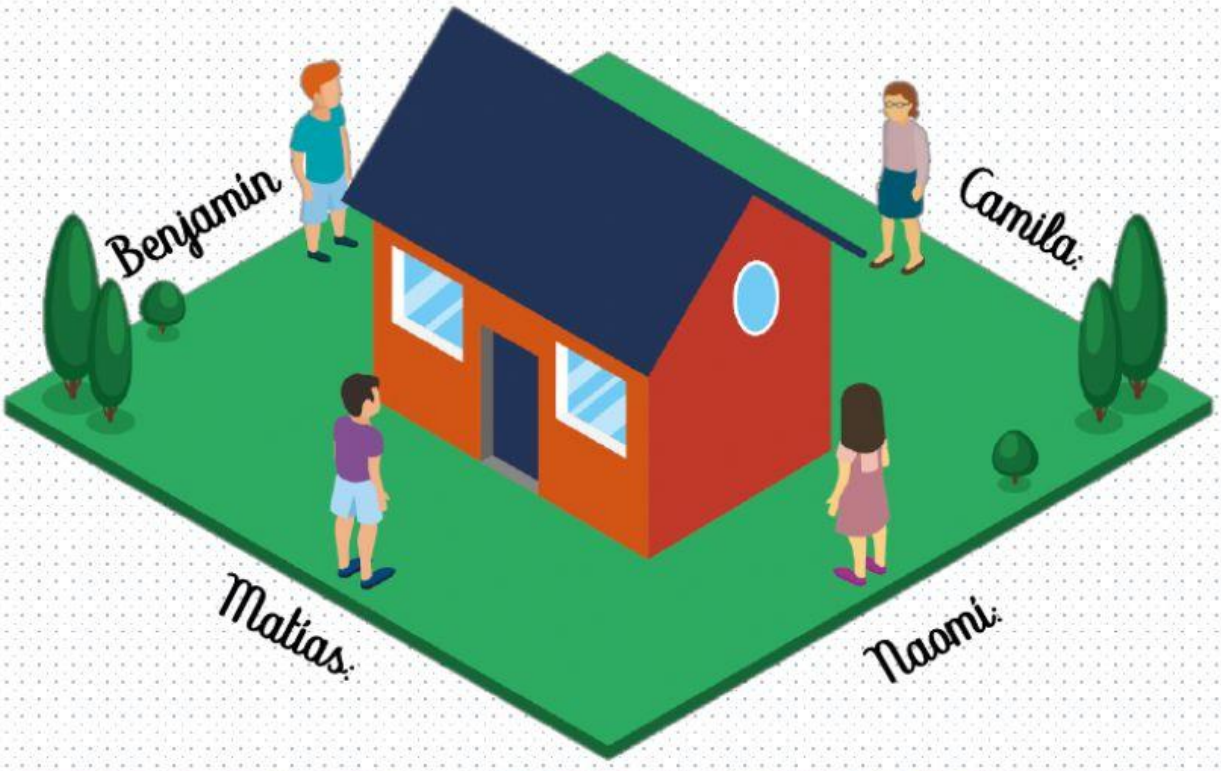

Desplace los personajes a las vistas que corresponda, y escriba las vistas que están observando (frente, derecha, izquierda y atrás)



LIVEWORKSHEETS

A continuación se presentan 4 casas y 3 vistas correspondiente sólo a una de ellas. Entonces, observa bien y une la casa con las vistas que corresponda.





Escriba debajo de cada alternativa (A, B C) la vista que desprenden de la figura 3D que corresponda (frente, izquierda y arriba)

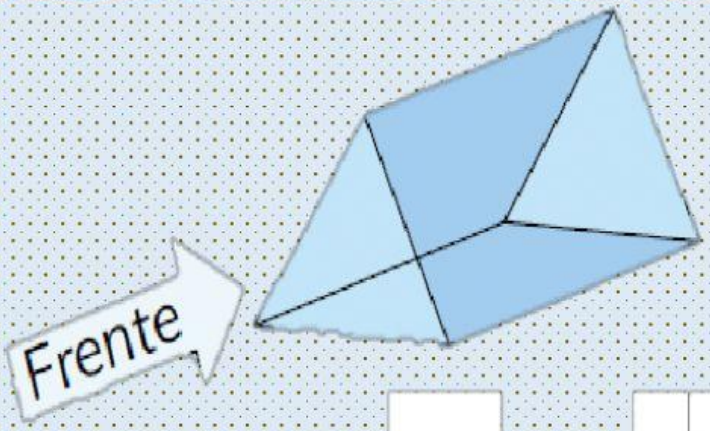

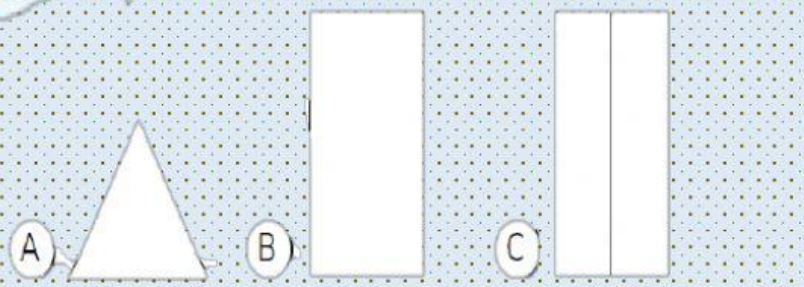

Envianos tus respuesta a: Matiasgodoypoblete@gmail.com

LIVEWORKSHEETS