Họ và tên: …….. Lớp: 1….

PHIẾU HỌC TẬP TOÁN TUẦN 35

Bài 1: Số?

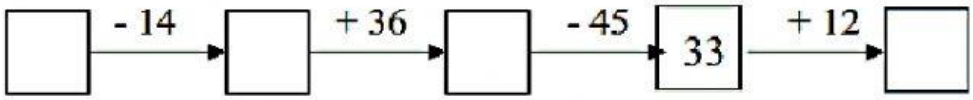

Bài 2: Tìm hình thích hợp để điền vào ô trống sao cho mỗi hàng ngang, hàng dọc có 1 hình vuông, 1 hình chữ nhật, 1 hình tam giác và 1 hình tròn.

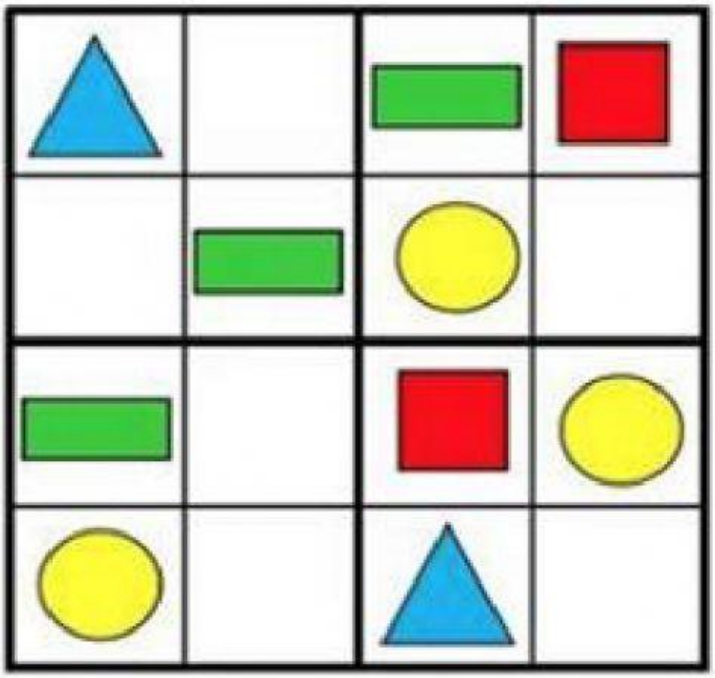

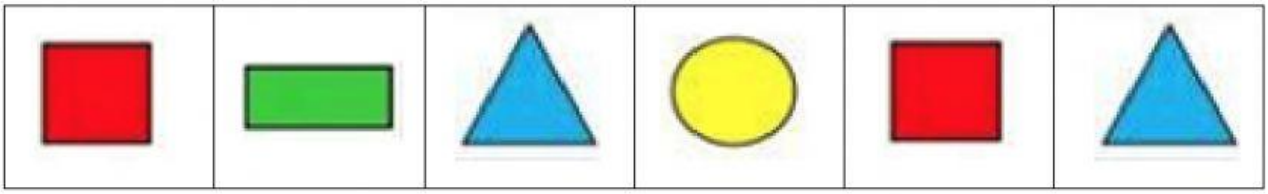

Bài 3: Có bao nhiêu viên gạch còn thiếu trong hình bên?

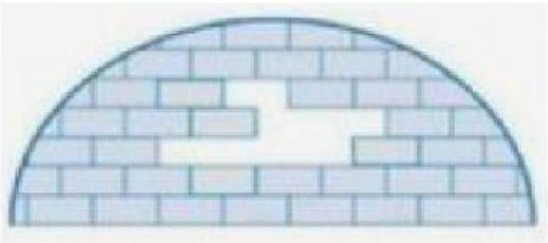

Trả lời: Còn thiếu …… viên gạch.

LIVEWORKSHEETS