Информатика кабинетіндегі эргономика ережелері қай суреттерде сақталған?

Тапсырманы орындау үшін дұрыс жауап яғни сурет үстінде сол жақ батырманы 1 рет шерту керек







LIVEWORKSHEETS