ESCOLA MUNICIPAL DE ENSINO FUNDAMENTAL GOVERNADOR ILDO MENEGHETTI
Rua Jayme Cyrino Machado de Oliveira, 250 - Santa Rosa de Lima – Porto Alegre/RS

Geografia – C10 – Prof. Janine

Nome: _____ Turma: _____ Data: _____

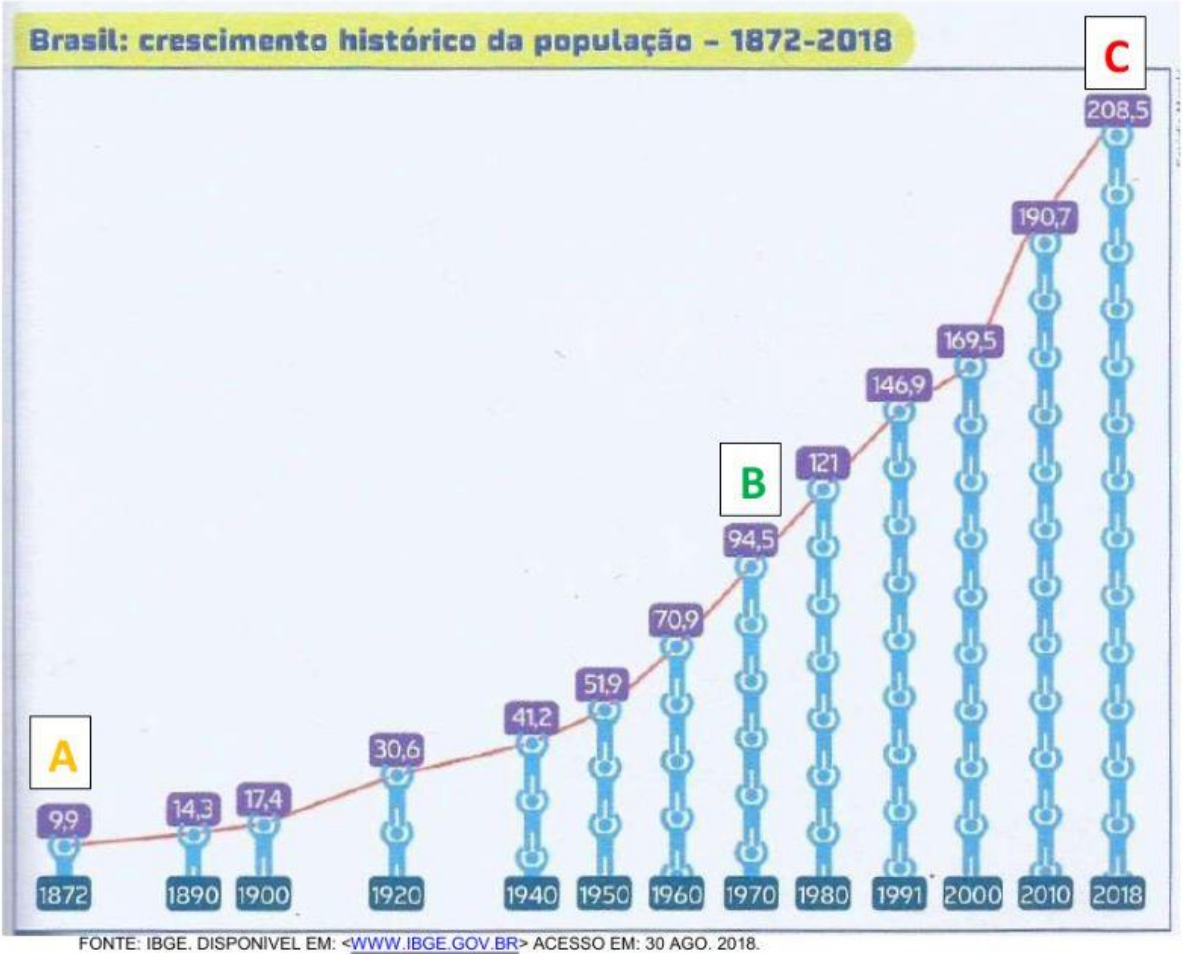

FONTE: IBGE. DISPONIVEL EM: <WWW.IBGE.GOV.BR> ACESSO EM: 30 AGO. 2018.

1. QUAL O NÚMERO DE HABITANTES NO BRASIL NOS ANOS IDENTIFICADOS PELAS LETRAS:

A (1872):_____

B (1970):_____

C (2018):_____

2. O QUE OCORREU COM A POPULAÇAO BRASILEIRA COM O PASSAR DOS ANOS?

LIVEWORKSHEETS

CRESCIMENTO NATURAL NO BRASIL – DE 1872 A 2020

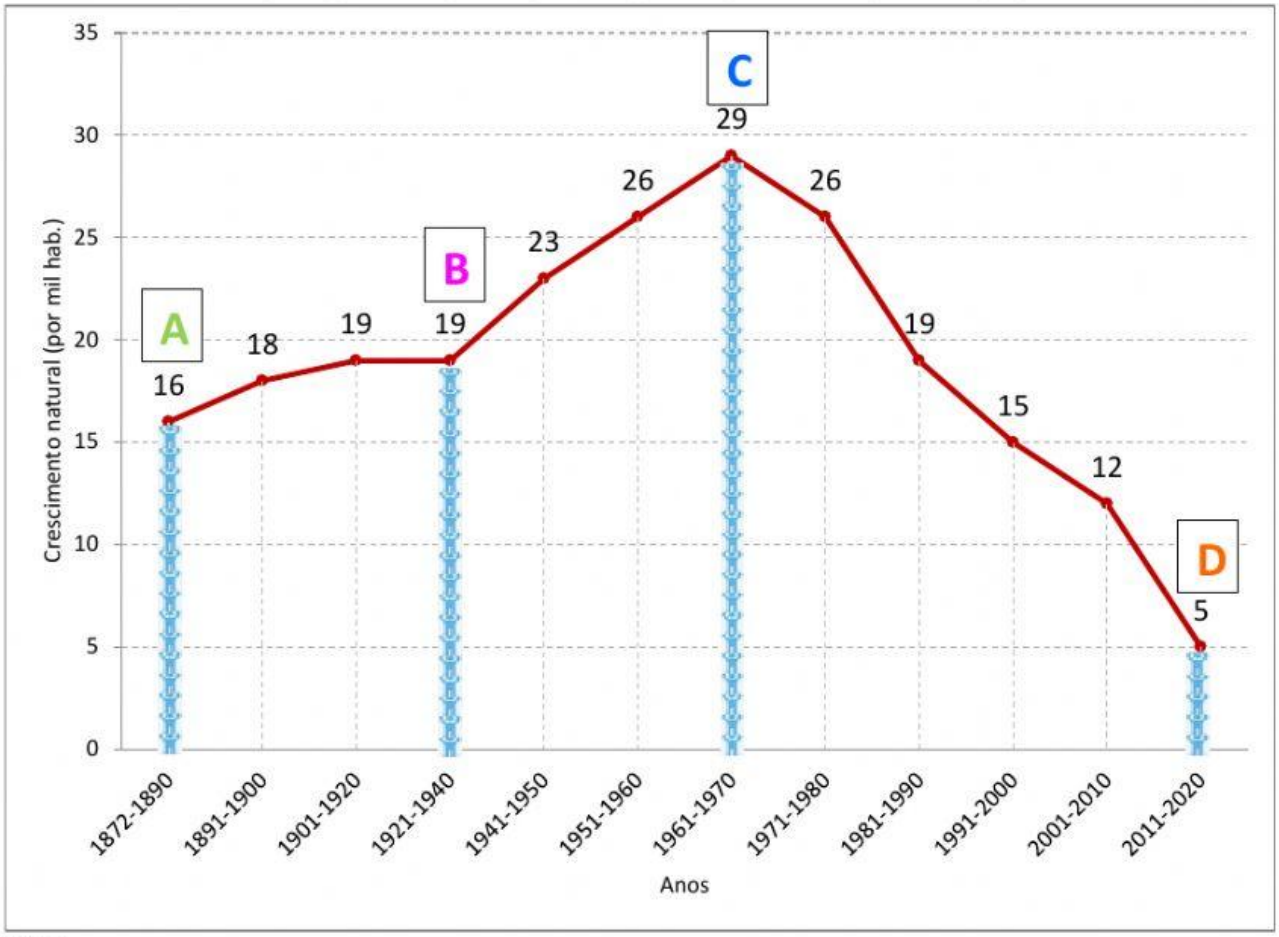

FONTE: IBGE

3. DIGA QUAL FOI O CRESCIMENTO NATURAL DA POPULAÇÃO BRASILEIRA, NOS PERÍODOS INDICADOS PELAS LETRAS:

A (1872 - 1890): ☐ **B (1921 - 1940):** ☐

C (1961 - 1970): ☐ **D (2011 - 2020):** ☐

4. MARQUE UM **X** NA OPÇÃO QUE MOSTRA O QUE OCORREU COM O CRESCIMENTO NATURAL DO BRASIL NOS PERÍODOS ABAIXO:

A – **B** (1872 ATÉ 1940):

B – **C** (1940 ATÉ 1970):

C – **D** (1970 ATÉ 2020):

LIVEWORKSHEETS

TAXAS DE NATALIDADE E MORTALIDADE NO BRASIL – DE 1872 A 2020

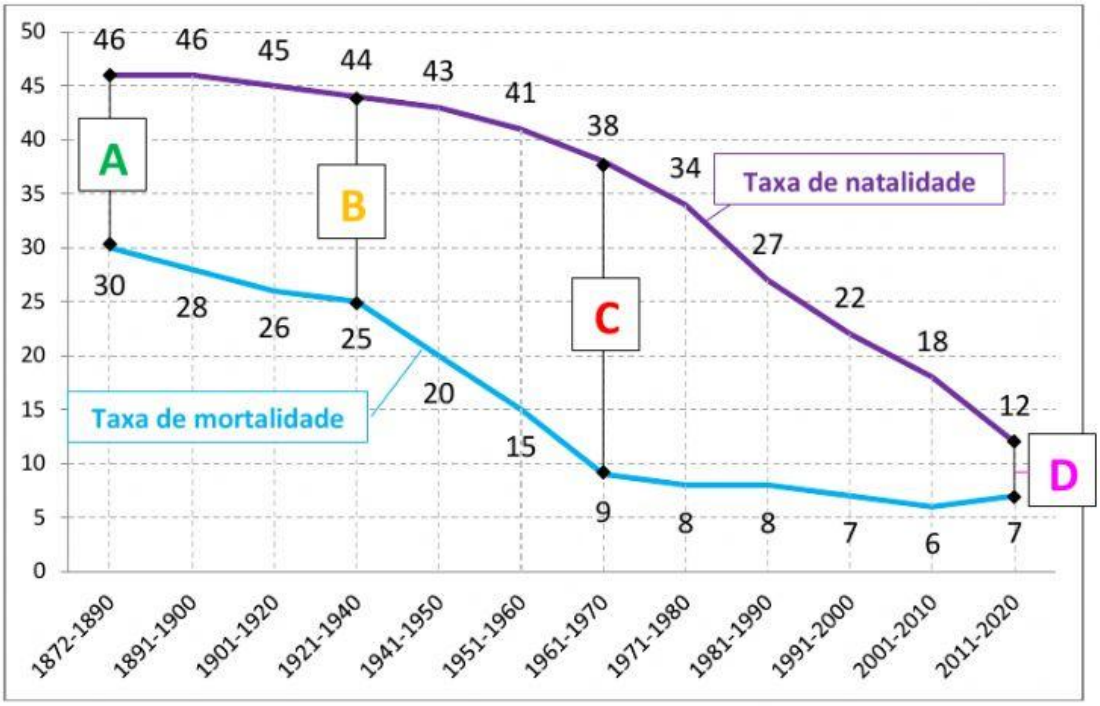

5. DIGA QUAIS ERAM AS TAXAS DE NATALIDADE E DE MORTALIDADE NOS PERÍODOS INDICADOS PELAS LETRAS:

	TAXA DE NATALIDADE	TAXA DE MORTALIDADE
A (1872 - 1890)		
B (1921 - 1940)		
C (1961 - 1970)		
D (2011 - 2020)		

6. MARQUE UM **X** NA OPÇÃO QUE MOSTRA O QUE OCORREU COM AS TAXAS DE NATALIDADE E DE MORTALIDADE NO BRASIL NOS PERÍODOS ABAIXO:

A – B (1872 ATÉ 1940):

B – C (1940 ATÉ 1970):

C – D (1970 ATÉ 2020):

LIVEWORKSHEETS

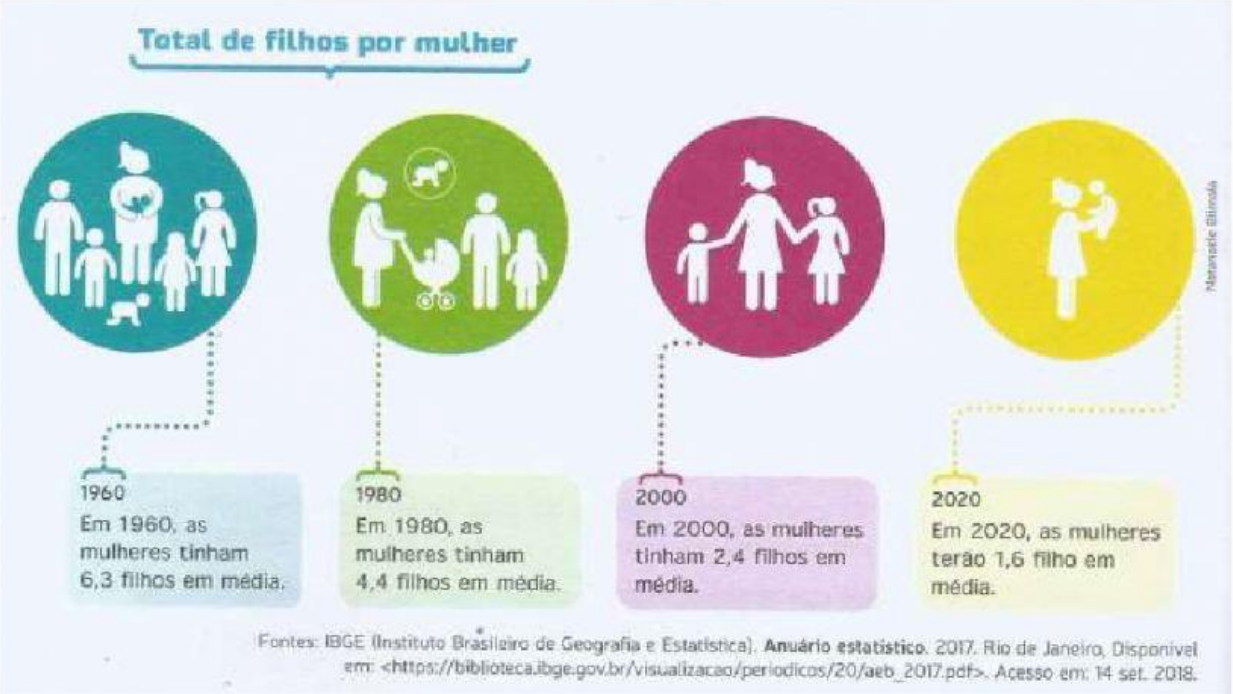

7. DIGA QUAL ERA O NÚMERO DE FILHOS POR MULHER NAS DÉCADAS ABAIXO:

A) 1960:

B) 1980:

C) 2000:

D) 2020:

8. O QUE ACONTECEU COM O NÚMERO DE FILHOS POR MULHER COM O PASSAR DOS ANOS?

LIVEWORKSHEETS

Fonte: Atlas geográfico escolar. 6. ed. Rio de Janeiro: IBGE, 2012. p. 114.

9. QUAL A ÁREA MAIS POVOADA DO BRASIL (ÁREA MAIS ESCURA)?

( ) INTERIOR ( ) LITORAL (PERTO DO OCEANO ATLÂNTICO)

10. QUAL A ÁREA MENOS POVOADA DO BRASIL (ÁREA MAIS CLARA)?

( ) INTERIOR ( ) LITORAL (PERTO DO OCEANO ATLÂNTICO)

11. COLOQUE EM ORDEM DECRESCENTE OS PAÍSES DA TABELA, DE ACORDO COM A SUA...

PAÍS	BRASIL*	CHINA	JAPÃO
POPULAÇÃO ABSOLUTA	210.147.125	1.369.743.000	126.818.000
ÁREA (EM KM^2)	8.515.767	9.600.000	377.974
DENSIDADE DEMOGRÁFICA (HAB./ KM^2)	24	142	333

Fontes: UM (United Nations). World Population Prospects 2015.
*IBGE. Estimativas da população 2019.

A) POPULAÇÃO ABSOLUTA

1º LUGAR:

2º LUGAR:

3º LUGAR:

B) ÁREA

1º LUGAR:

2º LUGAR:

3º LUGAR:

C) DENSIDADE DEMOGRÁFICA:

1º LUGAR:

2º LUGAR:

3º LUGAR:

LIVEWORKSHEETS