LOS POLÍGONOS

1. Clica en las imágenes que sean polígonos.



2. Cuenta, completa y nombra.



____ Lados ____ Lados ____ Lados

_____ _____ _____

3. Arrastra el nombre de estos polígonos.

			
Pentágono	Decágono	Hexágono	Heptágono

LIVEWORKSHEETS