Підсумкова діагностична робота за розділом «СВІТ ПРИРОДИ»

1. Знайди невідновлювані джерела енергії.

Нафта

Сонце

Вода

Вугілля

Природний газ

Торф

2. Познач *V*, які твердження істинні, а які хибні.

Твердження	Істинне	Хибне
Енергія не може перетворюватися з одного виду в інший.		
Гравітація – це сила, яка притягує об'єкти одне до одного.		
Що менша гравітація, то більша вага об'єкта.		
Маса і вага об'єктів завжди однакові.		

3. З'єднай за зразком. Цей прилад перетворює:

енергію води — світлову енергію

теплову енергію — на — механічну енергію

електричну енергію — світлову енергію

механічну енергію — на — теплову енергію

LIVEWORKSHEETS

механічну енергію

електричну енергію

на

світлову енергію

теплову енергію

4. Познач *V* молодий місяць.



5. Установи відповідність.

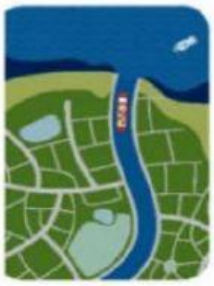

Річка

Каньйон

Острів

Канал

6. Напиши назви трьох диких і трьох свійських тварин.

_____

_____

7. Познач *V* , які твердження істинні, а які хибні.

Твердження	Істинне	Хибне
Озоновий шар, який утворюється з кисню, захищає все живе від ультрафіолетових променів.		
Вуглекислий газ потрібен рослинам для фотосинтезу.		
Юпітер – третя планета від Сонця. Саме тому вона не така гаряча чи холодна, як інші планети.		

LIVEWORKSHEETS

Флюгер показує напрямок вітру, а анемометр вимірює швидкість вітру.		

8. Познач *V* лікарські рослини.

Ромашка

Беладона

Подорожник

9. Прочитай текст і знайди малюнки членистоногих.

Відомо понад мільйон видів членистоногих. Більшість із них – комахи. Членистоногі симетричні, вони мають сегментоване тіло, зовнішній скелет(панцир, оболонка тощо) і парну кількість ніг. Каракурт – це приклад членистоногого.

Мураха

Равлик

Краб

Багатоніжка

Змія

10. Розв'яжи задачу.

11.

У 10 разів більше

2000 кг

?

Носоріг



Індрикотерій

LIVEWORKSHEETS

12. Познач *V* малюнки з хребетними тваринами.

Ссавці

Молюски

Губки

Земноводні

Птахи

Плазуни

Риби

Голкошкірі

13. Запиши ланцюг живлення об'єктів.

Ласка → Насіння → Лисиця → Миша

14. Установи відповідність.

- Багато опадів
- Густі ліси
- Багатий тваринний і рослинний світ

- Помірний клімат
- Трав'яниста рослинність
- Родючі ґрунти

Степ

Дощовий ліс

LIVEWORKSHEETS

15. Знайди морських тварин.

Медуза

Морська зірка

Рак

Криль

Карась

Кальмар

Жаба

Восьминіг

16. Оціни себе. Напиши, які завдання були для тебе:

дуже легкими _____

легкими _____

складними _____

дуже складними _____

LIVEWORKSHEETS