EVALUACIÓN MENSUAL

CONOCIMIENTO DEL MEDIO

2°

NOMBRE:

1. Lee con atención y relaciona ambas columnas anotando la letra que corresponda.

A. La materia se presenta en tres estados que son:	**( )** sólido
B. Este estado tiene su forma propia y definida, tiene volumen y masa.	**( )** gota de agua
C. Este estado no tiene forma propia ni definida, se adapta al recipiente, tiene volumen y masa.	**( )** líquido
D. Este estado no tiene forma propia ni definida, se adapta al recipiente, tiene volumen y masa.	**( )** sólido, líquido y gaseoso.
E. Es un ejemplo del estado líquido:	**( )** nubes
F. Es un ejemplo del estado sólido:	**( )** gaseoso.
G. Es un ejemplo del estado gaseoso:	**( )** bicicleta

2. Escribe el nombre de cada estación donde corresponda.

	Hace más calor y llueve mucho. Las plantas crecen más rápido.
	Baja más la temperatura, empieza a hacer frío. Los árboles casi no tienen hojas.
	Empieza a aumentar la temperatura. Algunas plantas florecen.
	Hace menos calor, las hojas de los árboles empiezan a caer. Llueve con menos frecuencia.

LIVEWORKSHEETS

3.colorea y selecciona la respuesta correcta.

- En qué mes inicia Otoño:

enero	**septiembre**	**agosto**	**marzo**

- Es la estación conocida como primavera:




- En qué mes termina el verano

enero	**septiembre**	**agosto**	**marzo**

- Es la estación conocida como el invierno:



- Es la estación del año que inicia el 20 de marzo.

primavera	**verano**	**otoño**	**invierno**

LIVEWORKSHEETS